This is a digital copy of a book that was preserved for generations on library shelves before it was carefully scanned by Google as part of a project to make the world's books discoverable online.

It has survived long enough for the copyright to expire and the book to enter the public domain. A public domain book is one that was never subject to copyright or whose legal copyright term has expired. Whether a book is in the public domain may vary country to country. Public domain books are our gateways to the past, representing a wealth of history, culture and knowledge that's often difficult to discover.

Marks, notations and other marginalia present in the original volume will appear in this file - a reminder of this book's long journey from the publisher to a library and finally to you.

Usage guidelines

Google is proud to partner with libraries to digitize public domain materials and make them widely accessible. Public domain books belong to the public and we are merely their custodians. Nevertheless, this work is expensive, so in order to keep providing this resource, we have taken steps to prevent abuse by commercial parties, including placing technical restrictions on automated querying.

We also ask that you:

+ *Make non-commercial use of the files* We designed Google Book Search for use by individuals, and we request that you use these files for personal, non-commercial purposes.

+ *Refrain from automated querying* Do not send automated queries of any sort to Google's system: If you are conducting research on machine translation, optical character recognition or other areas where access to a large amount of text is helpful, please contact us. We encourage the use of public domain materials for these purposes and may be able to help.

+ *Maintain attribution* The Google "watermark" you see on each file is essential for informing people about this project and helping them find additional materials through Google Book Search. Please do not remove it.

+ *Keep it legal* Whatever your use, remember that you are responsible for ensuring that what you are doing is legal. Do not assume that just because we believe a book is in the public domain for users in the United States, that the work is also in the public domain for users in other countries. Whether a book is still in copyright varies from country to country, and we can't offer guidance on whether any specific use of any specific book is allowed. Please do not assume that a book's appearance in Google Book Search means it can be used in any manner anywhere in the world. Copyright infringement liability can be quite severe.

About Google Book Search

Google's mission is to organize the world's information and to make it universally accessible and useful. Google Book Search helps readers discover the world's books while helping authors and publishers reach new audiences. You can search through the full text of this book on the web at `http://books.google.com/`

A propos de ce livre

Ceci est une copie numérique d'un ouvrage conservé depuis des générations dans les rayonnages d'une bibliothèque avant d'être numérisé avec précaution par Google dans le cadre d'un projet visant à permettre aux internautes de découvrir l'ensemble du patrimoine littéraire mondial en ligne.

Ce livre étant relativement ancien, il n'est plus protégé par la loi sur les droits d'auteur et appartient à présent au domaine public. L'expression "appartenir au domaine public" signifie que le livre en question n'a jamais été soumis aux droits d'auteur ou que ses droits légaux sont arrivés à expiration. Les conditions requises pour qu'un livre tombe dans le domaine public peuvent varier d'un pays à l'autre. Les livres libres de droit sont autant de liens avec le passé. Ils sont les témoins de la richesse de notre histoire, de notre patrimoine culturel et de la connaissance humaine et sont trop souvent difficilement accessibles au public.

Les notes de bas de page et autres annotations en marge du texte présentes dans le volume original sont reprises dans ce fichier, comme un souvenir du long chemin parcouru par l'ouvrage depuis la maison d'édition en passant par la bibliothèque pour finalement se retrouver entre vos mains.

Consignes d'utilisation

Google est fier de travailler en partenariat avec des bibliothèques à la numérisation des ouvrages appartenant au domaine public et de les rendre ainsi accessibles à tous. Ces livres sont en effet la propriété de tous et de toutes et nous sommes tout simplement les gardiens de ce patrimoine. Il s'agit toutefois d'un projet coûteux. Par conséquent et en vue de poursuivre la diffusion de ces ressources inépuisables, nous avons pris les dispositions nécessaires afin de prévenir les éventuels abus auxquels pourraient se livrer des sites marchands tiers, notamment en instaurant des contraintes techniques relatives aux requêtes automatisées.

Nous vous demandons également de:

+ *Ne pas utiliser les fichiers à des fins commerciales* Nous avons conçu le programme Google Recherche de Livres à l'usage des particuliers. Nous vous demandons donc d'utiliser uniquement ces fichiers à des fins personnelles. Ils ne sauraient en effet être employés dans un quelconque but commercial.

+ *Ne pas procéder à des requêtes automatisées* N'envoyez aucune requête automatisée quelle qu'elle soit au système Google. Si vous effectuez des recherches concernant les logiciels de traduction, la reconnaissance optique de caractères ou tout autre domaine nécessitant de disposer d'importantes quantités de texte, n'hésitez pas à nous contacter. Nous encourageons pour la réalisation de ce type de travaux l'utilisation des ouvrages et documents appartenant au domaine public et serions heureux de vous être utile.

+ *Ne pas supprimer l'attribution* Le filigrane Google contenu dans chaque fichier est indispensable pour informer les internautes de notre projet et leur permettre d'accéder à davantage de documents par l'intermédiaire du Programme Google Recherche de Livres. Ne le supprimez en aucun cas.

+ *Rester dans la légalité* Quelle que soit l'utilisation que vous comptez faire des fichiers, n'oubliez pas qu'il est de votre responsabilité de veiller à respecter la loi. Si un ouvrage appartient au domaine public américain, n'en déduisez pas pour autant qu'il en va de même dans les autres pays. La durée légale des droits d'auteur d'un livre varie d'un pays à l'autre. Nous ne sommes donc pas en mesure de répertorier les ouvrages dont l'utilisation est autorisée et ceux dont elle ne l'est pas. Ne croyez pas que le simple fait d'afficher un livre sur Google Recherche de Livres signifie que celui-ci peut être utilisé de quelque façon que ce soit dans le monde entier. La condamnation à laquelle vous vous exposeriez en cas de violation des droits d'auteur peut être sévère.

À propos du service Google Recherche de Livres

En favorisant la recherche et l'accès à un nombre croissant de livres disponibles dans de nombreuses langues, dont le français, Google souhaite contribuer à promouvoir la diversité culturelle grâce à Google Recherche de Livres. En effet, le Programme Google Recherche de Livres permet aux internautes de découvrir le patrimoine littéraire mondial, tout en aidant les auteurs et les éditeurs à élargir leur public. Vous pouvez effectuer des recherches en ligne dans le texte intégral de cet ouvrage à l'adresse `http://books.google.com`

3 3433 06644605 9



Poinsot
3-252

3- PBP

à Monsieur Le Gendre,
de la part de l'auteur.

ÉLÉMENS
DE
STATIQUE.

ÉLÉMENS

DE

STATIQUE,

Par LOUIS POINSOT.

ASTOR LIBRARY

A PARIS,

Chez CALIXTE-VOLLAND, Libraire,
Quai des Augustins, No. 25.

AN XII = 1803.

TABLE

DES MATIÈRES.

N. B. *On a marqué d'une étoile les principaux articles qui ne sont pas exigés pour l'admission à l'école polytechnique.*

PRÉLIMINAIRE, page 1

CHAPITRE I. Composition et décomposition des forces, 13

Composition des forces qui agissent suivant des directions parallèles, 18

Composition des forces dont les directions concourent en un même point, 31

Composition et décomposition des couples, 43

Transformation des couples, leur mesure, 48

Composition des couples situés dans un même plan, ou dans des plans parallèles, 52

Composition des couples situés dans des plans quelconques, 53

Manière plus simple d'exprimer les Théorèmes qui concernent la composition des couples, 58

Conclusion générale de ce Chapitre, 64

Composition des forces dirigées comme on voudra dans l'espace, idem.

Corollaire qui contient les lois de l'équilibre de tout système libre invariable de figure, pag. 66
Corollaire qui contient les conditions nécessaires pour que des forces situées d'une manière quelconque dans l'espace aient une résultante unique, 68
Remarques, 70 — 72

CHAPITRE II. Des conditions de l'équilibre, 73
De l'équilibre des forces parallèles qui sont situées dans un même plan, 74
De l'équilibre des forces parallèles qui agissent sur différens points d'un corps dans l'espace, 81
Du centre des forces parallèles, 86
De l'équilibre des forces qui agissent dans un même plan suivant des directions quelconques, 88
* *Manière plus simple de présenter les conditions précédentes*, 93
* *Des conditions de l'équilibre entre tant de forces que l'on voudra, dirigées d'une manière quelconque dans l'espace*, 102
* *Recherche de la résultante de toutes ces forces, lorsqu'elles ne sont pas en équilibre*, 115
* *Équations de condition pour qu'elles soient susceptibles de se réduire à une seule*, 117

* *Dans le cas général réduction de toutes les forces à une seule passant par un point donné, et à un couple unique ; détermination de cette résultante, et de ce couple résultant,* 120
* *Équation qui exprime directement que la résultante est parallèle au plan du couple résultant, et que par conséquent il doit y avoir en général une résultante unique,* 121
* *Remarque à ce sujet,* 123
* *Équations nécessaires pour que des forces aient une résultante unique qui passe en un point donné,* 125
* *Manière d'estimer des forces quelconques suivant une direction donnée, ou leurs momens par rapport à un axe donné, lorsqu'on connoît déjà ces forces et leurs momens estimés à l'égard de leurs axes rectangulaires,* 126
* Des conditions de l'équilibre *lorsque le corps ou système sur lequel les forces agissent n'est pas entièrement libre, mais se trouve géné par divers obstacles,* 130
* *De l'équilibre d'un corps qui n'a que la liberté de tourner en tous sens autour d'un point fixe,* page 131
* *De l'équilibre d'un corps qui n'a que la liberté de tourner autour de la ligne qui joint deux points fixes,* 135

* *De l'équilibre d'un corps qui s'appuie contre un plan inébranlable*, 141
CHAPITRE III. Des centres de gravité, 154
Des centres de gravité des figures, 169
* *Propriétés remarquables du centre de gravité*, 190
CHAPITRE IV. Des Machines, 197
Du Levier, 201
De la Balance, 212
De la Poulie, 214
Du Tour, 217
Du plan incliné, 223
De la Vis, 240
Du Coin, 247
De quelques machines composées, 249
Des Cordes, 251
Des poulies et des mouffles, 260
Des roues dentées, 265
Du cric, 266

Fin de la Table.

ÉLÉMENS

ÉLÉMENS DE STATIQUE.

PRÉLIMINAIRE.

I.

1. L'IDÉE que nous avons des corps est telle que nous ne supposons pas qu'ils aient besoin de mouvement pour exister. Ainsi, quoiqu'il n'y ait peut-être pas dans l'univers une seule molécule qui jouisse d'un repos absolu, même dans un temps limité très-court, nous n'en concevons pas moins *clairement* qu'un corps peut exister en repos.

Mais si un corps est une fois en repos, il y demeurera toujours, à moins qu'une cause étrangère ne vienne l'en tirer : car, comme le mouvement ne peut avoir lieu que dans une certaine direction, il n'y aura pas de raison pour que le corps se meuve d'un côté plutôt que de tout autre; et par conséquent il ne se mouvra point. Donc, si un corps en repos vient à se mouvoir, on peut être assuré que ce n'est qu'en vertu d'une cause étrangère qui agit sur lui.

Cette cause, quelle qu'elle soit, qui ne nous est connue que par ses effets, nous l'appelons *Force*, ou *Puissance*.

La force est donc une cause quelconque de mouvement.

II.

2. SANS connaître la force en elle-même, nous concevons encore très-clairement qu'elle agit suivant une certaine direction, et avec une certaine intensité.

Nous acquérons presqu'en naissant l'idée de la direction de la force et de son intensité. Le sentiment de la pesanteur qui nous sollicite toujours du même côté, la vue des corps qui tombent ou restent suspendus au bout des fils, la différence des poids que la main éprouve, et une foule d'autres phénomènes aussi simples, nous donnent une idée de la direction et de l'intensité de la force, aussi incontestable que celle de notre existence.

Ainsi nous regarderons comme évident que *toute force agit au point où elle est appliquée, suivant une certaine direction, et avec une certaine intensité.*

III.

3. MAINTENANT, si nous représentons les

directions des forces par des lignes droites, et leurs intensités par des longueurs proportionnelles prises sur ces lignes, ou par des nombres, il est clair que les forces pourront être soumises au calcul comme toutes les autres grandeurs; et delà résulte ce problème général dont la solution est l'objet de la mécanique :

Un corps, ou système quelconque de corps, étant sollicité par de certaines forces données, trouver le mouvement que ce corps prendra dans l'espace.

Et réciproquement : *Quelles doivent être les relations des forces qui agissent sur un système, pour que ce système prenne dans l'espace un mouvement donné;* ce qui est au fond la même question que la précédente.

4. Pour résoudre ce problème général, on commence par résoudre ce cas particulier où l'on demanderait quelles doivent être les relations des forces, pour que le système auquel elles sont appliquées, prenne un mouvement égal à zéro, c'est-à-dire, demeure en équilibre. Ce problème une fois résolu, il est très-facile d'y ramener l'autre; et voilà pourquoi l'on commence ordinairement l'étude de la Mécanique par celle de la Statique qu'on définit, *la science de l'équilibre des forces.*

L'autre partie de la Mécanique traite ensuite

existe néanmoins entre les forces qui le sollicitent, une lutte perpétuelle qui le fait osciller infiniment peu, et le ramène continuellement à une position unique qu'il abandonne toujours. Mais *dans la solution des problèmes, il doit être permis de regarder un corps en équilibre, comme s'il était en repos; et réciproquement, si un corps est en repos, ou sollicité par de certaines forces, on peut lui supposer appliquées telles nouvelles forces qu'on voudra, qui soient en équilibre d'elles-mêmes, et l'état du corps ne sera pas changé.*

On verra bientôt de nombreuses applications de cette remarque.

V.

7. Ces notions préliminaires étant posées, voyons comment on peut procéder à la recherche des conditions de l'équilibre, pour un système quelconque de corps, de figure invariable, sollicité par des forces quelconques P, Q, R, S, etc. appliquées en des points donnés a, b, c, d, etc. du système.

On supposera d'abord que tous les corps sont sans pesanteur, c'est-à-dire, tels qu'ils seraient s'ils existaient seuls dans l'espace; de sorte qu'il n'y aura plus à considérer que les efforts des seules forces appliquées P, Q, R, S, etc. qui

devront se contre-balancer mutuellement dans le cas de l'équilibre.

Ensuite il est facile de voir qu'il suffira de trouver les conditions de l'équilibre pour le simple système des points d'application a, b, c, d, etc. regardés comme un assemblage de points liés entr'eux d'une manière invariable.

En effet, si l'on désigne par a', b', c', d', etc. les mêmes points a, b, c, d, etc. du système, mais considérés seulement comme des points unis par des lignes droites, rigides et inextensibles; et si l'on suppose que les forces P, Q, R, S, etc. les maintiennent en équilibre, il est évident que les mêmes forces P, Q, R, S, etc. maintiendront aussi le système en équilibre. Car on pourrait imaginer que le système a été placé sur les points a', b', c', d', etc. de manière que les points a, b, c, d, etc. coïncident actuellement avec eux. Le système étant laissé en repos dans cette situation, l'équilibre des points a', b', c', d', etc. ne sera point troublé; mais il est clair que l'équilibre subsisterait encore, si, au lieu de supposer les points a et a', b et b', c et c', etc. coïncidents, on les supposait unis d'une manière invincible, de sorte que a ne pût se séparer de a', b de b', c de c', et ainsi des autres; d'où il résulte que les conditions de l'équilibre entre des forces P, Q, R, S, etc. ap-

de toutes les questions qui se rapportent au mouvement des corps : elle s'appelle *dynamique*, ou science du mouvement. Nous ne nous occuperons ici que de la science de l'équilibre.

I V.

5. Remarquons d'abord que dans la Statique proprement dite, il n'est pas nécessaire de connaître l'effet actuel des forces sur la matière, c'est-à-dire, les divers mouvements qu'elles sont capables de lui imprimer, eu égard à leurs intensités et à leurs directions ; mais qu'il suffit de considérer les forces comme de simples grandeurs homogènes et par conséquent comparables, et d'assigner les rapports qui doivent exister entr'elles pour qu'elles se détruisent mutuellement. Lorsque l'on passe de la théorie de l'équilibre à celle du mouvement, il faut de nouveaux principes sur l'évaluation des forces; car, ne calculant plus alors que leurs effets, il faut savoir les y rapporter. Estimer, par exemple, si une force double produit sur le même corps une vitesse double, ou si la même force appliquée à un corps de masse double, produit une vitesse deux fois moindre, etc. Mais ici, quelle que soit l'action des forces sur les corps, que les forces soient proportionnelles ou non à leurs

effets sensibles, les vérités que nous allons exposer n'en subsisteront pas moins, parce que ces vérités résultent de la seule présence actuelle de plusieurs forces qui n'obtiennent aucun effet, mais qui s'anéantissent avec évidence ; de sorte que l'état d'équilibre des corps reste comme un moment singulier de l'état de mouvement, où la mesure des forces par leurs effets, et leurs effets mêmes ont disparu.

6. Rigoureusement parlant, un corps en équilibre est dans le même état que s'il était en repos ; car l'effet des forces étant anéanti pour toujours, ou s'anéantissant à chaque moment, si les forces sont sans cesse renaissantes, tout corps en équilibre est actuellement capable de se mouvoir en vertu d'une certaine force donnée, absolument comme il se serait mû en vertu de la même force, s'il eût été en repos. Cependant on peut distinguer l'équilibre d'avec le repos, en ce que, dans le second cas, le corps n'est sollicité par aucune force, au lieu que dans l'autre, il est sollicité par des forces qui s'entre-détruisent.

Cette distinction, qui est nulle dans l'état rigoureux des choses, devient sensible dans les équilibres que la nature nous offre : presque aucun corps n'est exactement en équilibre ; et lorsqu'il nous paraît dans cette situation, il

forces à la place des résistances, le corps peut être regardé comme libre dans l'espace; ainsi il était inutile de compliquer au commencement la question.

VII.

9. Pour découvrir actuellement la route qui peut nous conduire aux conditions de l'équilibre, représentons-nous un corps ou système tenu en équilibre par des forces quelconques P, Q, R, S, etc. dirigées comme on voudra dans l'espace.

Puisque toutes ces forces se font équilibre, on voit que l'une quelconque d'entr'elles, la force P, par exemple, s'oppose seule à l'action de toutes les autres Q, R, S, etc. d'où il paraît que l'effet de ces dernières est de solliciter le système absolument comme une simple force égale et contraire à la force P.

C'est, en effet, ce qui a lieu et ce qu'on peut ramener à la dernière évidence au moyen de la remarque précédente (6), et de cet axiôme que deux forces égales et opposées se font nécessairement équilibre (12).

Car, supposons que l'on applique au système une force P′ parfaitement égale et contraire à la force P. Les forces P et P′ étant en équilibre, leur effet est nul de lui-même, et l'on peut re-

garder le corps comme n'étant plus soumis qu'à l'action des forces Q, R, S, etc. Mais d'un autre côté, la force P faisant équilibre aux forces Q, R, S, leur effet est aussi nul de lui-même, et l'on peut regarder le corps comme n'étant plus soumis qu'à l'action de la simple force P′. L'état du corps est donc identiquement le même, soit qu'on le suppose sollicité par les forces Q, R, S, etc., soit qu'on le suppose sollicité par la seule force P′ égale et contraire à celle qui leur ferait équilibre.

Donc, puisqu'il peut arriver qu'une seule force soit capable de produire sur un corps le même effet que plusieurs, et en tienne parfaitement lieu, notre premier soin doit être de chercher à réduire les forces appliquées, au plus petit nombre possible, et d'observer surtout la loi de cette réduction. Alors les conditions de l'équilibre entre toutes les forces, se rameneront aux conditions de l'équilibre entre ces forces finales équivalentes aux premières, et deviendront plus faciles à exprimer.

10. Cette force qui est capable de produire sur un corps le même effet que plusieurs autres forces combinées, et qui peut à elle seule en tenir parfaitement lieu, se nomme *leur résultante*.

Les autres s'appellent à son égard *les composantes*. La loi d'après laquelle on trouve la

résultante de plusieurs forces, se nomme *la composition des forces*. La même loi (mais prise dans l'ordre inverse) d'après laquelle on substitue à une seule plusieurs forces capables du même effet, ou dont la première serait la résultante, se nomme *la décomposition des forces*.

Nous allons donc commencer par ces deux recherches, qui au fond, n'en forment qu'une seule, celle de la loi qui lie la résultante à ses composantes.

11. Souvent pour abréger le discours nous appelerons forces parallèles, des forces dont les directions sont parallèles ; forces concourantes, des forces dont les directions concourent, etc.

Nous désignerons ordinairement les forces par les lettres P, Q, R, S, etc. placées sur les lignes qui représentent leurs directions ; et si une lettre telle que A, indique le point d'application d'une force telle que P, par exemple, nous supposerons toujours que l'action de cette force a lieu de A vers la lettre P, ou que la force tire de A en P.

CHAPITRE PREMIER.

COMPOSITION ET DÉCOMPOSITION DES FORCES.

Axiômes, Lemmes préliminaires, etc.

12. IL est évident que *deux forces égales et contraires appliquées à un même point sont en équilibre.* Il est encore évident que *deux forces égales et contraires appliquées aux extrémités d'une droite considérée comme une verge inflexible, et agissantes dans la direction de cette droite, sont en équilibre.*

Car il n'y a pas de raison pour que le mouvement naisse d'un côté plutôt que de l'autre, comme dans le premier axiôme.

Corollaire.

13. IL est facile de conclure delà que l'effet d'une force qui sollicite un corps, ne peut être changé en quelque point de sa direction qu'on la suppose appliquée; pourvu que ce point soit un des points du corps lui-même, ou, s'il est au-delà, qu'il lui soit invariablement attaché.

Car, soit une force quelconque P appliquée au point A d'un corps ou système quelconque : Fig. 1.

si l'on prend sur la direction de cette force un autre point B invariablement lié au système, de manière que la longueur AB reste toujours constante; et si l'on applique au point B deux forces P′, —P′ égales entr'elles et à la force P, et agissantes dans la direction de AB, le point A sera encore sollicité de la même manière qu'auparavant; car l'effet des deux forces P′ et —P′ est nul de lui-même. Mais en considérant la force P et son égale et contraire —P′ appliquée en B, il est manifeste que leur effet est aussi nul. On peut donc les supprimer, et il ne reste plus que la force P′ qui n'est autre chose que la force P, mais appliquée au point B de sa direction; et le point A n'a pas cessé d'être sollicité de la même manière.

On peut donc appliquer une force en un point quelconque de sa direction, pourvu que ce point soit lié au premier point d'application par une ligne droite rigide et inextensible.

Remarque.

Lorsque nous changerons ainsi les points d'application des forces, nous ne répéterons pas toujours que l'on doit supposer les nouveaux points invariablement attachés aux premiers; mais il faudra toujours le sous-entendre.

Lemme.

14. Lorsque deux forces P et Q sont appli- Fig. 2.
quées à un même point A sous un angle quelconque, on conçoit bien qu'une troisième force R appliquée convenablement au point A pourrait faire équilibre aux deux forces P et Q. Car, en vertu des efforts combinés des deux forces P et Q, le point A tend à quitter le lieu où il est : or il ne peut s'échapper que d'un seul côté, et par conséquent si l'on applique une force convenable en sens contraire, ce point demeurera en équilibre.

Les trois forces P, Q, R, étant en équilibre autour du point A, la force R est égale et directement opposée à la résultante des deux autres. Donc deux forces P et Q qui concourent, ont une résultante.

En second lieu, il est visible que cette ré- Fig. 5.
sultante doit être dans le plan de leurs directions AP, AQ; car il n'y a pas de raison pour qu'elle ait au-dessus du plan une certaine position, plutôt que la position parfaitement symétrique au-dessous.

De plus, elle doit être dirigée dans l'angle PAQ des deux forces ; car il est clair que le point A ne peut se mouvoir dans la partie du plan qui est au-dessus de la ligne AQ, vers D :

de même il ne peut se mouvoir au-dessus de la ligne AP, vers B; et par conséquent il ne pourra se mouvoir que dans l'angle PAQ, et la résultante R devra être dirigée dans l'intérieur de cet angle.

Remarque.

15. Il n'y a qu'un seul cas où l'on puisse voir *à priori* quelle sera la direction de la résultante; c'est celui où les deux forces P et Q sont égales : alors il est clair que la résultante divise en deux également l'angle qu'elles forment entr'elles; car il n'y a pas de raison pour que cette résultante fasse avec l'une des composantes un angle plus petit qu'avec l'autre.

Axiôme.

16. Lorsque les deux forces P et Q agissent dans la même direction et dans le même sens, il est visible, et l'on doit accorder comme un axiôme que ces forces s'ajoutent, et donnent une résultante égale à leur somme P+Q.

Corollaire.

17. De là on peut conclure (en combinant successivement les forces deux à deux) que la résultante de tant de forces que l'on voudra qui agissent dans une même direction et dans le même

même sens, est égale à leur somme totale, et agit dans la même direction.

Que lorsque deux forces inégales P et Q agissent en sens contraire dans une même direction, leur résultante est égale à la différence P—Q des forces, et qu'elle agit dans le sens de la plus grande; car on peut concevoir dans la plus grande que je suppose P, par exemple, une force égale et contraire à Q, et qui la détruit : on peut supprimer ces deux forces-là, et le point est actuellement tiré par la différence P—Q des deux forces P et Q.

D'où l'on voit qu'en général, *la résultante de tant de forces que l'on voudra, agissantes dans la même direction, est égale à l'excès de la somme de celles qui tirent dans un sens, sur la somme de celles qui tirent dans le sens contraire, et qu'elle agit dans le sens de la plus grande somme.*

Remarque.

18. Telles sont quelques-unes des propositions les plus élémentaires, dont on découvre la vérité *à priori*, et presqu'à la première inspection. Le cas le plus simple de la composition des forces, et en même temps celui où l'on connaît tout d'un coup la résultante, est évidemment le cas des forces qui agissent

dans une même direction. Nous allons commencer la composition des forces par celles qui s'y ramènent immédiatement.

Composition des forces qui agissent suivant des directions parallèles.

Théorème I.

Fig. 4. 1°. *Deux forces quelconques* P *et* Q, *parallèles et de même sens, appliquées aux extrémités* A *et* B *d'une droite rigide* AB, *ont une résultante, et cette résultante doit être appliquée à la ligne* AB *entre les deux points* A *et* B.

2°. *Elle est parallèle aux forces* P *et* Q, *et égale à leur somme.*

1°. Appliquez à volonté aux deux points A et B, deux forces M et N, égales et contraires, et qui agissent dans le sens de la droite AB. L'effet de ces deux forces sera nul, et par conséquent l'effet des deux forces P et Q ne sera pas changé : mais les deux forces M et P appliquées en A, ont une résultante S appliquée au point A, et dirigée dans l'angle MAP (14). De même les deux forces N et Q ont une résultante T, appliquée en B et dirigée dans l'angle NBQ. Concevez qu'on ait pris ces deux résultantes, et qu'on les ait appliquées toutes deux au point D où leurs directions vont nécessai-

rement se couper ; la résultante des deux forces S et T sera absolument la même que celle des deux forces P et Q : or, étant appliquée en D, et devant être dirigée dans l'angle A D B, elle ira passer entre A et B, en un certain point C, où l'on pourra la supposer appliquée.

2°. Maintenant, pour démontrer que cette résultante est parallèle aux forces P et Q, et égale à leur somme, imaginons qu'au point D on redécompose la force S en deux composantes M′ et P′, parfaitement égales et parallèles aux premières M et P ; de même, qu'on redécompose la force T en deux composantes N′ et Q′, parfaitement égales et parallèles aux premières N et Q. Les deux forces M′, N′, seront égales, et directement opposées, puisqu'appliquées à un même point D, elles sont parallèles à une même droite M N, et par conséquent leur effet sera absolument nul. Il ne restera donc que les deux forces P′ et Q′, respectivement égales et parallèles aux forces P et Q. Or, ces deux forces, étant évidemment dans une même direction, se composeront en une seule R, égale à leur somme P′ + Q′ ou P + Q ; *ce qu'il fallait démontrer.*

Corollaire I.

2°. Si les deux forces P et Q sont égales en Fig. 5.

tr'elles, le point C d'application de la résultante sera au milieu de la ligne A B. Prenons, en effet, les deux forces M et N dont on est maître, égales aux forces P et Q. La résultante S des deux forces égales M et P divisera en deux également l'angle MAP (15); et à cause de DC parallèle à la ligne A P, le triangle A C D sera isoscèle. Par une raison toute semblable, le triangle B C D sera isoscèle; et l'on aura d'une part, A C = C D, et de l'autre, C D = C B; d'où A C = C B.

Corollaire II.

21. Il résulte delà que la résultante de tant de forces parallèles qu'on voudra, égales deux à deux et appliquées symétriquement à des distances égales du milieu d'une même droite, est égale à la somme de toutes ces forces, leur est parallèle, et passe par le milieu de la droite d'application. Car, en combinant successivement deux à deux, les forces égales placées de part et d'autre à des distances égales du milieu de la ligne droite, leurs résultantes successives passeront toutes par ce même point, et s'ajouteront ensuite comme étant dans une même direction.

22. Et réciproquement on pourra décomposer toute force P appliquée à une ligne, en tant d'autres forces parallèles qu'on voudra, appliquées à

différens points de cette ligne, pourvu que ces forces deux à deux, soient égales, à égales distances du point d'application de la force P, et que leur somme totale soit égale à cette même force.

Théorème II.

23. *Le point* C *d'application de la résultante de deux forces parallèles* P *et* Q *qui agissent aux extrémités* A *et* B *d'une droite inflexible* AB, *partage cette droite dans la raison réciproque de* P *à* Q: *de sorte que l'on a :* P : Q : : BC : AC. Fig. 6.

Supposons d'abord que les forces P et Q soient commensurables, c'est-à-dire, soient entr'elles comme deux nombres entiers m et n.

Divisons AB au point H en deux parties directement proportionnelles aux deux forces P et Q; de manière qu'on ait : AH : BH : : P : Q, et par conséquent, : : m : n. Sur le prolongement de la ligne inflexible AB, prenons AG = AH, et BK = BH. Le point A sera le milieu de GH, et le point B le milieu de HK.

Cela posé, puisque les forces P et Q sont entre elles comme les lignes AH et BH, elles seront aussi entr'elles comme les mêmes lignes doublées, c'est-à-dire, comme les lignes GH et HK. Et comme il y a, par hypothèse, dans la ligne AH, m mesures telles que BH en contient n, il y aura $2m$ mesures dans GH, et $2n$ mesures

égales dans H K. Or, on peut décomposer la force P en $2m$ forces égales et parallèles, appliquées aux $2m$ points milieux des communes mesures de la ligne G H (22); et la force Q en $2n$ forces parallèles, égales entr'elles et aux premières, appliquées aux $2n$ points milieux des communes mesures de la ligne H K. Maintenant toutes ces forces égales, étant équidistantes, se trouveront placées deux à deux à égales distances du milieu C de la ligne entière G K, et par conséquent leur résultante générale qui est celle des deux forces P et Q, passera nécessairement par le milieu de la ligne G K.

Mais à cause de G C = A B, il vient, en retranchant la partie commune A C, B C = A G = A H; et en ajoutant de part et d'autre C H, A C = B H. Donc puisque l'on a : P : Q : : A H : B H, on a aussi :

$$P : Q :: BC : AC.$$

Supposons en second lieu, que les deux forces P et Q ne soient pas commensurables.

Fig. 7. Je remarque d'abord que si la résultante de deux forces quelconques P et Q appliquées aux points A et B, tombe en C, la résultante de la force P et d'une force $Q + I > Q$ tombera entre le point C et le point B; c'est-à-dire, que le point d'application de la résultante s'appro-

chera du point d'application de la composante qui aura augmenté. En effet, pour trouver la résultante des deux composantes P et Q + I, on peut prendre d'abord la résultante R de P et Q, qui passe au point C, par hypothèse, et ensuite celle de R et de I, dont le point d'application sera entre C et B (19).

Maintenant, si la résultante des deux forces incommensurables P et Q ne passe pas au point C qui en est tel qu'on a P : Q :: B C : A C, elle passera en un autre point situé entre A et C, ou entre C et B. Supposons que ce soit en G entre A et C. Partagez la ligne A B en parties égales toutes plus petites que G C, il y aura au moins un point de division entre C et G. Soit I ce point: les deux lignes A I et B I seront commensurables, et le point I pourra être considéré comme le point d'application de la résultante de deux forces P et Q′ qui seraient telles qu'on aurait : P : Q′ :: B I : A I ; ce qui donne $Q' < Q$ (puisqu'on a par hypothèse P : Q :: B C : A G.) Mais la résultante des deux forces P et Q′ passant en I, celle des deux forces P, et $Q > Q'$, passera entre I et B, et ne pourra tomber en G contre l'hypothèse. Fig. 8.

On ferait voir absolument de la même manière qu'elle ne peut tomber entre C et B ; et par conséquent elle passe nécessairement en C.

Corollaire I.

Fig. 9. 24. LORSQUE trois forces parallèles P, Q, R sont en équilibre sur une ligne A B, l'une d'entr'elles est égale et directement opposée à la résultante des deux autres. Ainsi la force Q, par exemple, prise en sens contraire, est la résultante des deux forces P et R. Comme les deux forces P et Q tirent dans le même sens, la force R est égale à P + Q, et par conséquent Q = R − P; d'où il suit que la résultante de deux forces parallèles qui agissent en sens contraires, est égale à leur différence, et tire du même côté que la plus grande.

25. Les deux forces P et R étant données ainsi que la distance A C qui sépare leurs points d'application, si l'on demande le point d'application de la résultante Q, on fera cette proportion : P : Q : : B C : A C : d'où l'on tire : P + Q : Q : : B C + A C : A C, c'est-à-dire, R : Q : : A B : A C, proportion qui fera connaître A B, et par conséquent le point B.

Remarque.

26. SUPPOSONS que les deux forces P et R soient égales, la résultante Q sera zéro, et la distance A B de son point d'application sera, par la pro-

portion ci-dessus, $\frac{R \times AC}{0}$, c'est-à-dire, infinie.

Si les deux forces P et R au lieu d'être égales, différaient d'une quantité très-petite, la résultante Q qui est égale à cette différence, serait très-petite, et la distance $AB = \frac{R \times AC}{Q}$, serait très-grande à cause du dénominateur Q très-petit; ainsi plus les deux forces s'approchent de l'égalité, plus la résultante diminue, et plus la distance du point où elle est appliquée augmente. De sorte que, lorsque les deux forces deviennent parfaitement égales, la résultante est nulle, et la distance du point d'application infinie. Ce qui nous apprend qu'on ne peut pas trouver actuellement une force unique qui fasse équilibre à deux forces égales, parallèles et agissantes dans des sens opposés.

27. Au reste, pour ne laisser aucun nuage sur cette dernière conséquence, concevons qu'une force quelconque, dirigée comme on voudra dans l'espace, fasse équilibre aux deux forces P et —P, parfaitement égales, parallèles et contraires. 1°. Il est clair que cette force doit être dans le plan des deux forces P et —P; car il n'y a pas de raison pour qu'elle soit au-

dessus plutôt qu'au-dessous, tout étant égal de part et d'autre. 2°. Quelle que soit la position qu'on lui donne dans le plan à l'égard de la force P, on lui en trouvera sur-le-champ une autre parfaitement symétrique et de sens contraire, à l'égard de la force —P : elle aurait donc à la fois deux positions différentes, ce qui est absurde.

Ainsi les deux forces P et —P ne peuvent avoir de résultante unique.

Nous reviendrons bientôt sur ces sortes de forces, dont la considération, qui n'avait paru jusqu'ici que comme un cas singulier, fera la seconde partie essentielle de nos Élémens.

Corollaire II.

Fig. 6. 28. De même que l'on compose en une seule deux forces parallèles qui agissent à des points donnés d'une ligne, on peut aussi décomposer une seule force quelconque R, appliquée à un point C d'une droite inflexible, en deux autres P et Q qui lui soient parallèles, et qui agissent en des points donnés A et B de cette droite. Il ne s'agit pour cela que de partager la force R en deux autres qui soient entr'elles dans le rapport des distances B C et A C; et pour trouver la force Q, par exemple, on se servira de la proportion R : Q :: A B : A C, dans laquelle il

n'y a que Q d'inconnue. La force P sera égale à R—Q.

Mais si le point C d'application de la force R qu'on veut décomposer, ne tombait pas entre A et B, points d'application donnés des composantes P et Q que l'on cherche, on ferait toujours la proportion R : Q :: AB : AC, qui ferait connaître la force Q; mais la force P serait égale à R+Q. Fig. 10.

Corollaire III.

29. QUAND on sait déterminer la résultante de deux forces parallèles, on peut facilement trouver celle de tant de forces parallèles qu'on voudra, appliquées aux différens points d'un système quelconque de figure invariable. Fig. 11.

Soient, par exemple, les quatre forces parallèles P, P′, P″, P‴, appliquées respectivement aux quatre points A, B, C, D, situés d'une manière quelconque dans l'espace, et liés entr'eux d'une manière invariable : en considérant ces forces deux à deux, elles sont dans des mêmes plans. Ainsi l'on peut prendre d'abord la résultante X des deux forces P et P′; elle sera égale à leur somme P+P′, et passera en un point I de la ligne AB, qu'on trouvera en divisant AB dans la raison inverse de P à P′. La résultante X étant ainsi déterminée, on

joindra le point I où elle agit, au point C de la troisième force P″. Les deux forces X et P″ étant parallèles, on en prendra la résultante X′, comme nous avons fait tout-à-l'heure : cette résultante sera égale à leur somme X+P″, et le point F où elle devra être appliquée, se trouvera, en divisant la droite C I, dans la raison réciproque de X à P″. Joignant enfin le point F au point D d'application de la quatrième force P‴, et divisant la droite F D en deux parties réciproquement proportionnelles aux forces X′ et P‴, on aura le point G d'application de la résultante générale R, qui sera parallèle aux deux forces X′ et P‴, et par conséquent à toutes les composantes; égale à leur somme X′+P‴, et par conséquent à la somme de toutes les composantes.

Le raisonnement que nous venons de faire s'étend manifestement à un nombre quelconque de forces parallèles.

Si parmi les forces P, P′, P″, etc. les unes agissaient dans un sens, et les autres dans le sens contraire, on commencerait par prendre la résultante de toutes celles qui agissent dans le même sens; on chercherait ensuite la résultante de celles qui agissent dans le sens contraire; et toutes les forces étant alors réduites à deux forces parallèles et de sens contraires,

on en trouverait la résultante par ce que nous avons dit plus haut.

3o. On peut donc, en général, déterminer la position et la quantité de la résultante de tant de forces parallèles qu'on voudra; *cette résultante sera parallèle aux forces, et égale à l'excès de la somme de celles qui tirent dans un sens, sur la somme de celles qui tirent dans le sens contraire.*

J'ai dit en général, par ce qu'il peut arriver, que la résultante des forces qui tirent dans un sens, soit parfaitement égale à la résultante de celles qui tirent dans le sens contraire, sans lui être directement opposée; et alors il n'y a pas de résultante unique, comme nous l'avons vu plus haut.

Corollaire IV.

31. SUPPOSONS que les quatre forces P, P′, P″, P‴, sans changer de grandeurs, sans cesser d'être parallèles et de passer aux mêmes points respectifs A, B, C, D, viennent à prendre les positions p, p', p'', p''' dans l'espace.

Si l'on en cherche la résultante en suivant le même ordre que plus haut, on trouvera d'abord que la résultante x de p et p'', passe au même point I que la résultante X de P et P″, et qu'elle lui est égale. Elle passera par le même

point, parce que son point d'application doit diviser la même droite A B dans la raison réciproque de p à p', qui est la même que celle de P à P'. Elle lui sera égale, parce qu'on aura $p+p'=P+P'$. On trouvera de même que la résultante x' de x et p'' passera au même point F que la résultante X' de X et P'', et qu'elle lui sera égale; et ainsi de suite : de sorte que la résultante générale des quatre forces $p, p', p'' p'''$, passera au même point que la résultante des quatre forces P, P', P'', P'''; et cela est général, quel que soit le nombre des forces: d'où l'on peut conclure ce théorème remarquable:

32. *Si l'on a un système quelconque de forces parallèles, appliquées à un assemblage de points* A, B, C, D, *etc., et qu'on incline successivement tout le système de ces forces dans diverses situations, de manière que les mêmes forces passent toujours par les mêmes points, et conservent leurs grandeurs et leur parallélisme; les résultantes générales qu'on trouvera successivement dans chacune de ces positions, se croiseront toutes au même point.*

Ce point d'intersection des résultantes successives se nomme *le centre des forces parallèles.* Nous aurons occasion d'en parler plus loin, quand il sera question des centres de gravité.

On peut remarquer, au reste, dans la démonstration précédente, qu'il n'est pas nécessaire de supposer que les forces conservent toujours les mêmes grandeurs, mais qu'il suffit que, dans les positions successives du groupe, elles demeurent proportionnelles.

Composition des forces dont les directions concourent en un même point.

Théorème III.

33. *La résultante de deux forces quelconques* P *et* Q, *appliquées à un même point* A *sous un angle quelconque, est dirigée suivant la diagonale du parallélogramme* ABDC *construit sur les deux lignes* AB, AC, *qui représentent les forces* P *et* Q *en grandeurs et en directions.* Fig. 12.

D'abord, nous avons vu que cette résultante doit être dans le plan des deux forces P et Q; en second lieu, qu'elle doit être appliquée au point A, puisque cette résultante, par hypothèse, doit solliciter le point A absolument de la même manière que les deux forces P et Q.

Je dis maintenant qu'elle doit passer au point D, extrémité de la diagonale AD.

Prenons, en effet, sur le prolongement de la ligne BD la partie DG = DC, et achevons le

rhombe CDGH. Appliquons aux points G et H et dans la direction de G H, deux forces Q′ et Q″ contraires, égales entr'elles et à la force Q. Il est facile de voir que la résultante des quatre forces P, Q, Q′ et Q″ doit passer au point D. Car 1°. à cause de Q′ = Q, les deux forces parallèles P et Q′ sont entr'elles comme les côtés AB, AC ou comme DC et DB, ou bien à cause de DC = DG, comme les lignes DG et DB; et par conséquent (23) leur résultante S passe en D; 2°. les deux forces Q et Q″ étant égales, leur résultante T prolongée divise en deux également l'angle CHG du rhombe CDGH, et va passer aussi par le point D, où l'on peut la supposer appliquée. Donc la résultante générale qui est celle des deux forces S et T passe au point D.

Mais les deux forces Q′ et Q″ appliquées sur GH étant parfaitement égales et contraires, leur effet est absolument nul, et la résultante des quatre forces P, Q, Q′ et Q″ est identiquement la même que celle des deux forces P et Q. Donc, puisque la première passe en D, celle des deux forces P et Q, passe aussi au même point.

Puisque la résultante passe à la fois par les deux points A et D, elle est donc nécessairement dirigée suivant la diagonale AD.

Corollaire.

Corollaire.

34. CONCLUONS de là que si l'on connaissait Fig. 13.
seulement les directions des deux forces P et Q, et celle de leur résultante R, on pourrait déterminer le rapport de la force P à la force Q. Car, en prenant sur la direction de la résultante un point quelconque D, et menant de ce point deux parallèles D C et D B aux directions des composantes P et Q, et qui rencontrent ces directions en C et B, on aurait nécessairement P : Q : : A B : A C. Sans quoi l'on aurait P à Q comme A B est à une ligne A O plus petite ou plus grande que A C; et alors la résultante des deux forces P et Q serait dirigée suivant la diagonale A I d'un parallélogramme A O I B différent du parallélogramme A B D C, ce qui est contre l'hypothèse.

Théorème IV.

35. *La résultante de deux forces quel-* Fig. 14.
conques P *et* Q *appliquées à un même point* A, *est représentée en grandeur et en direction par la diagonale du parallélogramme* A B D C *construit sur les deux lignes* A B, A C *qui représentent ces forces en grandeurs et en directions.*

Nous avons déjà vu que cette résultante est dirigée suivant la diagonale ; reste à faire voir qu'elle est représentée en quantité par la diagonale elle-même.

Soit R cette résultante : supposez qu'elle soit appliquée au point A sur le prolongement de la diagonale D A, en sens contraire de son action. Les trois forces P, Q, R seront en équilibre sur le point A. Donc l'une d'elles, la force Q, par exemple, sera égale et directement opposée à la résultante des deux autres P et R. Donc la direction de la force Q, prolongée, sera celle de la résultante des deux forces P et R. Donc si, du point B, vous menez à la direction A R, la parallèle B G qui rencontre en G le prolongement de Q A, et du point G, à la direction A P la parallèle G H qui rencontre en H la direction de la force R, les deux forces P et R seront entr'elles comme les côtés A B, A H du parallélogramme A B G H (34). Mais la ligne A B représente actuellement la force P, donc la ligne A H représente la force R. Or, par les parallèles, on a : A H = B G = A D ; donc, etc.

Corollaire.

36. Puisque les trois forces P, Q, R sont entr'elles comme les trois lignes A B, A C, A D ;

et que dans le parallélogramme A B D C, on a : A B = C D, on peut dire que ces trois forces sont entr'elles comme les trois côtés C D, C A et A D du triangle A C D. Mais ces trois côtés sont entr'eux comme les sinus des angles opposés C A D, C D A, A C D, et à cause des parallèles, l'angle C D A = l'angle B A D; l'angle A C D est supplément de l'angle B A C, et par conséquent a le même sinus; on a donc :

P : Q : R : : sin. C A D : sin. B A D : sin. B A C.

D'où l'on peut conclure que la résultante de deux forces P et Q étant représentée par le sinus de l'angle formé par leurs directions, les deux forces P et Q sont représentées réciproquement par les sinus des deux angles adjacents à la direction de la résultante. Ou, si l'on veut, *chacune des forces* P, Q, R *est comme le sinus de l'angle formé par les directions des deux autres*.

Remarque.

37. On peut voir par là, et mieux encore par la considération immédiate du parallélogramme des forces, que lorsque deux forces agissent sur un même point sous un angle qui n'est pas égal à deux droits, elles ne peuvent jamais donner une résultante nulle, à moins qu'elles ne soient nulles elles-mêmes chacune en particulier.

Car, si aucune des deux forces n'était nulle, on pourrait construire un parallélogramme sur les deux lignes qui les représentent en grandeurs et en directions, et la diagonale de ce parallélogramme serait la résultante.

Si l'une d'elles seulement était nulle, la seconde serait la résultante; et par conséquent la résultante ne peut être nulle, à moins que les composantes ne soient toutes deux nulles en même temps.

Lorsque les deux composantes agissent sous un angle égal à deux angles droits, elles sont alors contraires, et la résultante n'est pas nulle dans le seul cas où ces deux composantes sont nulles toutes deux, mais encore dans celui où elles sont égales.

Corollaire II.

Fig. 15. 38. On peut toujours décomposer une force donnée R en deux autres P et Q dirigées suivant des lignes données A P, A Q, pourvu que ces directions et celle de la force R soient comprises dans un même plan et concourent au même point A. Car, prenant sur la direction de la force R une partie A D qui représente sa quantité, et par le point D menant les droites D C, D B parallèles aux directions données A P,

AQ, on formera un parallélogramme ABDC, dont les côtés AB, AC représenteront les forces demandées P et Q.

Si l'on veut calculer immédiatement leurs grandeurs, on pourra faire ces deux proportions :

$$R : P : : \sin. BAC : \sin. CAD$$
$$R : Q : : \sin. BAC : \sin. BAD$$

dans lesquelles il n'y a que P et Q d'inconnues.

Remarque.

39. Si l'angle BAC était droit, on aurait, en supposant le rayon $=1$, $\sin. BAC = 1$; $\sin. CAD = \cos. BAD$, et réciproquement $\sin. BAD = \cos. CAD$. Et les deux proportions ci-dessus deviendraient :

$$R : P : : 1 : \cos. BAD$$
$$R : Q : : 1 : \cos. CAD.$$

D'où : $P = R. \cos. BAD$ et $Q = R. \cos. CAD$.

Il résulte delà que lorsqu'on décompose une force en deux autres qui agissent suivant des directions rectangulaires entr'elles, on trouve chaque composante en multipliant la force pro-

posée par le cosinus de l'angle qu'elle fait avec la direction de cette composante.

Chaque composante est représentée par la projection de la résultante sur sa direction, et c'est ce qu'on appelle souvent, la force *estimée* suivant cette direction. Ainsi, R cos. B A D, ou la composante P est la force R *estimée* suivant la direction A P.

Corollaire III.

40. QUAND on sait déterminer la résultante de deux forces appliquées à un point, on peut déterminer celle de tant de forces P, Q, R, S, etc. qu'on voudra, appliquées à un même point A et dirigées d'une manière arbitraire dans l'espace. Car, en considérant d'abord deux quelconques de ces forces, comme les forces P et Q, par exemple, ces deux forces seront dans un même plan, et l'on en déterminera la résultante comme nous l'avons fait tout-à-l'heure. Soit X cette résultante, on prendra semblablement la résultante de la force X et d'une autre telle que R. Combinant ensuite cette résultante que je désigne par Y avec une nouvelle force S, on aura leur résultante Z qui sera celle des quatre forces P, Q, R, S; et continuant ainsi, on arrivera nécessairement à la résultante générale.

Si toutes les forces P, Q, R, S, etc. sont dans un même plan, les résultantes successives X, Y, Z, etc. seront dans ce même plan, et par conséquent la résultante générale y sera aussi.

Si toutes les forces sont en équilibre, la résultante générale sera nulle.

Théorème V.

41. *Si trois forces* X, Y, Z *appliquées à un même point* A *dans l'espace, sont représentées par les trois lignes* A B, A C, A D, *et qu'on achève le parallélépipède* A... F, *la résultante* R *de ces trois forces sera représentée par la diagonale* A F *de ce parallélépipède.* Fig. 16.

En effet, les deux forces X et Y qui sont représentées par les deux côtés du parallélogramme A B G C, donneront pour résultante une force P représentée par la diagonale A G de ce parallélogramme.

Ensuite, à cause de A D égale et parallèle à G F, la figure A G F D sera un parallélogramme, et par conséquent les deux forces P et Z donneront une résultante R représentée par la diagonale A F, laquelle est en même temps la diagonale du parallélépipède proposé.

Remarque.

42. OBSERVONS, sur le champ, comme au nº. 37, que tant que les trois forces X, Y, Z ne seront pas dans un même plan, elles ne pourront jamais donner une résultante nulle, à moins qu'elles ne soient nulles elles-mêmes en particulier.

Car, si aucune d'elles n'était nulle, on pourrait construire le parallélépipède sur les lignes qui les représentent, en grandeurs et en directions, et la diagonale serait la résultante.

Si l'une d'elles seulement était nulle, les deux autres qui, par hypothèse, ne sont pas en ligne droite, auraient une résultante.

Enfin, si deux d'entr'elles seulement étaient nulles, la troisième serait la résultante, et par conséquent, les composantes X, Y, Z doivent être nulles toutes trois, pour donner une résultante nulle.

Corollaire I.

43. ON voit par le Théorème précédent, (qu'on pourrait nommer le parallélépipède des forces) qu'une force quelconque donnée R est toujours décomposable en trois autres X',

Y, Z respectivement parallèles à trois lignes données dans l'espace, pourvu que deux de celles-ci ne soient pas parallèles.

Car, en prenant la partie A F pour représenter la quantité de la force R, et menant par le point A d'application trois lignes parallèles aux droites données chacune à chacune, on conduira par le point A trois plans indéfinis X Y, X Z, Y Z, et par le point F trois autres plans respectivement parallèles aux premiers; et ces six plans détermineront le parallélépipède dont les trois arrêtes contigues A B, A C, A D représenteront les trois composantes X, Y, Z.

Corollaire II.

44. Si le parallélépipède est rectangulaire, on aura dans le rectangle A D F G : $\overline{AF}^2 = \overline{AD}^2 + \overline{AG}^2$; mais dans le rectangle A B G C, on a : $\overline{AG}^2 = \overline{AC}^2 + \overline{AB}^2$; donc en substituant cette valeur $\overline{AG}^2$, on aura :

$\overline{AF}^2 = \overline{AD}^2 + \overline{AC}^2 + \overline{AB}^2$; et par conséquent:

$$R^2 = X^2 + Y^2 + Z^2.$$

Ce qui donne $R = \sqrt{X^2 + Y^2 + Z^2}$ pour la valeur de la résultante en fonction des trois composantes.

45. Si l'on veut avoir les trois composantes en fonction de la résultante et des angles qu'elles font avec elle, en nommant d'abord α l'angle que la résultante R fait avec la composante X, on aura visiblement : A F : A B : : 1 : cos. α, et par conséquent :

$$R : X : : 1 : \cos. \alpha :$$

d'où l'on tire : $X = R \cos. \alpha$.

En nommant de même β et γ les angles que la résultante fait respectivement avec les composantes Y et Z, on trouvera : $Y = R \cos. \beta$, $Z = R \cos. \gamma$: d'où il suit qu'on trouvera les valeurs des trois composantes respectives, en multipliant la résultante par les cosinus respectifs des trois angles que sa direction forme avec les directions de ces composantes.

Remarque.

46. Puisqu'on a trouvé $R^2 = X^2 + Y^2 + Z^2$ en substituant pour X, Y, Z leurs valeurs respectives R cos. α, R cos. β, R cos. γ ; on aura :

$$R^2 = R^2 \cos.^2 \alpha + R^2 \cos.^2 \beta + R^2 \cos.^2 \gamma :$$

ou bien :

$$R^2 = R^2 (\cos.^2 \alpha + \cos.^2 \beta + \cos.^2 \gamma)$$

d'où, $\cos.^2\alpha + \cos.^2\beta + \cos.^2\gamma = 1$

relation connue qui a toujours lieu entre les angles que fait une droite avec trois axes rectangulaires dans l'espace.

Composition et décomposition des Couples.

47. POUR abréger le discours, nous appellerons *couple* l'ensemble de deux forces, telles que P et —P, égales, parallèles et contraires, mais non appliquées au même point. La perpendiculaire commune AB, menée entre les directions des deux forces, sera *le bras de levier* du couple; et le produit $P \times AB$ de l'une des forces par le bras du levier, en sera nommé *le moment*. Fig. 17.

Quelle que soit l'action de deux forces telles que P et —P, sur le corps auquel elles sont appliquées, nous avons vu (32) que cette action ne peut être contrebalancée par celle d'aucune simple force appliquée comme on voudra au même corps; et que par conséquent l'effort d'un couple ne peut être comparé d'aucune manière à une simple force. Pour distinguer cette nou-

velle cause de mouvement, qui est en quelque sorte d'une nature particulière, on pourrait l'appeler *énergie*. Au reste, comme on verra tout-à-l'heure que l'*énergie* d'un couple est mesurée par son *moment*, on pourra souvent substituer ce second mot au premier, ou les prendre quelquefois l'un pour l'autre.

La composition des couples formera la seconde partie essentielle des principes de notre Statique, et se reproduira dans le cours de cet Ouvrage presqu'aussi souvent que la composition des forces. On en verra bientôt dériver les lois de l'équilibre d'une manière si naturelle et si simple, que l'on nous pardonnera d'avoir paru nous arrêter ici à l'examen d'un cas singulier, lorsque nous tendions peut-être le plus directement possible vers le but principal.

Ce que nous allons dire sur les couples est tout-à-fait indépendant de l'effet qu'ils produisent sur les corps ; mais lorsqu'on voudra se faire une idée des sens respectifs de différens couples situés dans le même plan, on pourra se représenter que les milieux de leurs bras de levier sont fixes : alors l'effet de chaque couple sera visiblement de faire tourner le corps autour du milieu de son bras de levier, et l'on distinguera facilement le sens des couples, en distinguant les couples qui tendent à faire

tourner dans un sens, d'avec ceux qui tendent à faire tourner dans le sens contraire. Mais ne perdons pas de vue qu'il n'y aura réellement aucun point fixe, à moins que nous n'en avertissions expressément, et que l'idée de rotation qui est purement accessoire, ne servira qu'à faire image au besoin.

48. Nous avons vu plus haut qu'une force peut être transportée en un point quelconque de sa direction, pourvu que ce point soit lié au premier d'une manière invariable : voici une proposition analogue pour les couples, qui n'est pas moins remarquable que la première, et dont nous ferons le plus grand usage par la suite.

Lemme.

49. *Un couple quelconque peut être transporté partout où l'on voudra dans son plan, ou dans tout autre plan parallèle, et tourné comme on voudra dans ce plan, sans que son effet sur le corps auquel il est appliqué en soit changé, pourvu qu'on suppose le nouveau bras de levier invariablement attaché au premier.*

Pour démontrer plus facilement cette proposition, nous la décomposerons en deux autres.

Soit d'abord le couple (P, —P) appliqué Fig. 18.

perpendiculairement sur AB ; prenons où l'on voudra, dans le plan de ce couple ou dans tout autre plan parallèle, la droite CD égale et parallèle à AB : joignons AD et BC qui seront dans un même plan, et se couperont visiblement au milieu I de leurs longueurs respectives; et supposons enfin les droites AB et CD liées entr'elles d'une manière invariable.

Si l'on applique sur la ligne CD, parallèlement aux forces P et —P, deux couples contraires (P′, —P′), (P″, —P″), égaux entr'eux et au couple proposé (P, —P), il est évident que ces deux couples se détruiront d'eux-mêmes, et que par conséquent l'effet du couple (P, —P) ne sera pas changé ; mais, d'un autre côté, il est facile de voir que les deux couples (P, —P,) et (P″, —P″) se détruisent aussi d'eux-mêmes ; car le point I étant à la fois le milieu des deux lignes AD et BC, les deux forces égales et parallèles P et P″, appliquées sur AD, donnent une résultante parfaitement égale et opposée à la résultante des deux forces —P et —P″, appliquées sur BC. On peut donc supprimer les deux couples (P, —P), (P″, —P″) ; et il ne reste plus que le couple (P′, —P′) appliqué sur CD, lequel n'est autre chose que le couple primitif qu'on aurait pour ainsi dire transporté parallèlement à ses forces, de ma-

nière que son bras de levier AB fut venu dans la position parallèle CD.

Soit, en second lieu, le couple (P, —P) appliqué perpendiculairement sur AB. Tirons dans le plan de ce couple, sous un angle quelconque avec AB, la droite CD = AB, et supposons que ces deux droites se coupent au milieu I de leurs longueurs respectives, et soient invariablement fixées entr'elles. Fig. 19.

Si l'on applique à angle droit sur CD, deux couples contraires égaux entr'eux et au couple proposé (P, —P), ces deux couples se détruiront d'eux-mêmes, et par conséquent l'effet du couple (P, —P) ne sera pas changé. Mais, d'un autre côté, les deux couples (P, —P), (P″, —P″), se détruisent aussi d'eux-mêmes: car, avec un peu d'attention, on voit que les deux forces égales P et —P″ qui se rencontrent en G, donnent une résultante égale et directement opposée à la résultante des deux forces —P et P″ qui se rencontrent en H. On peut donc supprimer les deux couples (P, —P), (P″, —P″), et il ne reste plus que le couple (P′, —P′) appliqué sur CD, lequel n'est, pour ainsi dire, que le couple primitif qu'on aurait tourné dans son plan, de manière que son bras de levier AB fut venu dans la position oblique CD.

De ces deux propositions réunies, on peut conclure qu'un couple quelconque, sans que son effet soit changé, peut être transporté dans son plan ou dans tout autre plan parallèle, dans telle position qu'on voudra : car on peut d'abord le transporter parallèlement à ses forces dans le plan donné, de manière que le milieu de son bras de levier touche au point donné qu'on voudra, et l'on peut ensuite le tourner autour de ce point, de manière à l'amener dans la position donnée : ou, réciproquement, on peut le tourner d'abord dans son plan, de manière que ses forces deviennent parallèles aux nouvelles directions qu'on veut leur donner, et ensuite le transporter immédiatement dans la position donnée.

Transformation des Couples, Mesure de leurs Energies.

Lemme.

Fig. 20. 50. *Un couple quelconque* (P, —P) *appliqué sur un bras de levier* AB, *peut être changé en un autre* (Q, —Q) *de même sens, appliqué sur un bras de levier* BC *différent du premier, pourvu qu'on ait* : P : Q :: BC : AB, *ou* P × AB = Q × BC, *c'est-à-dire, pourvu que les momens de ces couples soient égaux.*

Prenons

Prenons en effet sur le prolongement de AB une partie quelconque BC, et appliquons sur BC parallèlement aux forces P et —P, deux couples (Q, —Q), (Q′, —Q′) égaux et contraires : leur effet sera absolument nul ; et par conséquent celui du couple (P, —P) ne sera pas changé. Mais, d'un autre côté, si l'on suppose que les forces P et Q, et par conséquent P et Q′, sont en raison inverse des lignes AB et BC, leur résultante qui est égale à P+Q′, passe en B, et détruit évidemment les forces contraires —P, —Q′ qui s'y trouvent. On peut donc supprimer les quatre forces P, Q′, —P, —Q′, et il ne reste plus que le couple (Q, —Q) appliqué sur BC, lequel remplace le couple proposé (P, —P) appliqué sur AB.

Corollaire.

51. Il n'est pas difficile de conclure de là que les énergies des couples sont proportionnelles à leurs momens.

En effet, l'on peut voir d'abord que les énergies de deux couples (P, —P), (Q, —Q), qui agissent sur des bras de levier égaux AB, CD, sont entr'elles comme les forces P et Q de ces couples; car si l'on suppose les forces P et Q entr'elles, comme deux nombres entiers, Fig. 21.

comme 5 et 3 par exemple, en partageant chaque force P et —P en 5 forces égales, et chaque force Q et —Q en trois forces égales entr'elles et aux premières, on pourra considérer le couple (P, —P) comme la somme de 5 couples égaux et de même sens, appliqués parfaitement l'un sur l'autre, et le couple (Q, —Q) comme la somme de 3 couples égaux entr'eux et aux premiers, aussi appliqués l'un sur l'autre. Les énergies des couples (P, —P), (Q, —Q), seront donc entr'elles comme 5 à 3, ou comme P à Q. Si les forces P et Q sont incommensurables, on fera le raisonnement connu, etc.

Maintenant soient deux couples quelconques (P, —P), (Q, —Q); soit p le bras de levier du premier, et q le bras de levier du second: le couple (Q, —Q) agissant sur la ligne q, est équivalent au couple $\left(\frac{q}{p}Q, -\frac{q}{p}Q\right)$, qui agirait sur la ligne p; car les momens sont égaux de part et d'autre, le premier étant Qq, et le second, $\frac{q}{p}Q.\ p = Qq$. Ainsi, au lieu des deux couples proposés, on a ces deux-ci, $(P, -P), \left(\frac{q}{p}Q, -\frac{q}{p}Q\right)$ qui ont un même

bras de levier p. Mais les énergies M et N de ces deux couples sont entr'elles comme leurs forces, et par conséquent l'on a : $M:N::P:\frac{q}{p}Q$, ou bien $M : N :: Pp : Qq$.

52. Puisque les énergies de deux couples sont entr'elles dans le rapport de leurs momens, il s'ensuit que le moment d'un couple est la mesure de son énergie : car si l'on prend pour unité d'énergie, celle d'un couple composé de deux forces égales à l'unité de force, appliquées sur un bras de levier égal à l'unité de ligne, l'énergie du couple (P, —P) au bras de levier p, contiendra autant de fois l'unité d'énergie, que le moment $P \times p$ contiendra le moment 1×1, c'est-à-dire, contiendra l'unité.

Remarque.

53. Pour comparer entr'elles les énergies des couples, on pourrait prendre aussi, au lieu des produits Pp, Qq, des forces par leurs bras de levier rectangulaires, les produits de ces mêmes forces par des bras de levier obliques sur leurs directions. Mais il faudrait pour tous les couples que les bras de levier fissent le même angle avec les forces. Il est clair qu'alors les bras de levier obliques seraient tous propor-

tionnels aux bras de levier rectangulaires, et que par conséquent les nouveaux momens seraient proportionnels aux premiers.

Nous employerons quelquefois ces nouveaux momens dans la mesure relative de différens couples; mais nous regarderons toujours les autres comme la mesure absolue de leurs énergies.

Composition des couples situés dans un même plan, ou dans des plans parallèles.

Théorème I.

54. *Tant de couples que l'on voudra, situés dans un même plans ou dans des plans parallèles, se composent toujours en un seul, dont le moment est égal à la somme des momens des couples composans, ou égal à leur différence, lorsqu'il y a des couples de sens inverse.*

En effet, on peut d'abord ramener tous les couples dans un même plan, ensuite ramener les forces de ces couples au parallélisme, enfin les changer tous en d'autres équivalens qui auraient un même bras de levier, et alors les appliquer l'un sur l'autre.

Soient P, Q, R... les forces composantes des différens couples; p, q, r... leurs bras de

levier respectifs ; et soit D la longueur du bras de levier commun à tous les couples transformés. Au lieu du moment Pp du couple $(P, -P)$, on substituera le moment équivalent d'un couple $(P', -P')$, tel qu'on aurait $P'D = Pp$. On substituera de même à la place des momens $Qq, Rr\ldots$, les momens $Q'D, R'D\ldots$ de couples équivalens ; et tous ces couples transformés étant appliqués l'un sur l'autre sur le même bras de levier D, on aura un couple unique résultant qui sera :

$\{(P'+Q'+R'\ldots), -(P'+Q'+R'\ldots)\}$

et dont le moment sera : $(P'+Q'+R'\ldots)\times D$, ou $P'D+Q'D+R'D\ldots = Pp+Qq+Rr\ldots$

Ainsi l'énergie résultante sera égale à la somme de toutes les énergies composantes, ou bien à leur différence, selon que les forces $P', Q', R'\ldots$ qui agiront à la même extrémité du bras de levier D, seront toutes de même sens, ou en partie contraires.

Composition des couples situés dans des plans quelconques.

Théorème II.

55. *Deux couples situés, comme on voudra, dans deux plans qui se coupent sous un angle quelconque, se composent toujours en un seul.* Fig. 22.

Et si l'on représente les momens de ces couples par les longueurs respectives de deux droites tirées sous un angle égal à celui des deux plans, et qu'on achève le parallélogramme, le moment du couple résultant sera représenté par la diagonale de ce parallélogramme, et le plan de ce couple partagera l'angle que font entr'eux les plans des couples composans, comme la diagonale du parallélogramme partage l'angle que font les deux côtés adjacens.

Soient en effet les deux couples proposés, situés dans les deux plans AGM, AGN, qui se rencontrent suivant AG; et supposons qu'on ait d'abord changé ces deux couples en deux autres respectivement équivalens, qui auraient un même bras de levier.

En quelque lieu que soit situé le couple (P, —P) dans le plan AGM, on pourra le ramener dans ce plan à angle droit sur l'intersection AG, de manière que son bras de levier AB tombe sur l'intersection AG (49). De même, en quelque lieu que soit situé le couple (Q, —Q) dans le plan AGN, on pourra le ramener aussi à angle droit sur la même intersection, et de manière que son bras de levier, égal au premier, coïncide avec lui en AB.

Alors les deux forces P et Q appliquées en A, se composeront en une seule R appliquée au

même point A, et représentée par la diagonale AR du parallélogramme construit sur les deux lignes AP, AQ, qui représentent les forces P et Q. Les deux forces —P, —Q appliquées en B, se composeront aussi en une seule —R appliquée en B, parfaitement égale, parallèle et contraire à la première; et l'on aura, au lieu des deux couples (P, —P), (Q, —Q), le couple unique (R, —R) appliqué sur le même bras de levier AB.

Puisque ces trois couples ont un même bras de levier, leurs énergies respectives sont proportionnelles aux valeurs des trois forces P, Q, R. Donc, si l'on représente les énergies des deux couples composans, par les deux lignes AP, AQ qui leur sont proportionnelles, l'énergie du couple résultant sera représentée par la diagonale AR du parallélogramme APRQ construit sur ces lignes. Or, il est visible que les angles formés par les trois lignes AP, AQ, AR, mesurent les angles que font les trois plans: donc le plan du couple résultant partage l'angle des deux autres plans, comme la diagonale AR partage l'angle PAQ des deux côtés adjacens AP, AQ. Donc, etc.

Corollaire.

56. On pourra donc toujours réduire à un

seul tant de couples que l'on voudra, appliqués à un corps d'une manière quelconque dans l'espace : car, en les composant successivement deux à deux, comme nous venons de faire, on arrivera nécessairement à un couple unique dont on connaîtra le plan et l'énergie, et qui sera équivalent à tous les autres.

Corollaire II.

57. On peut aussi décomposer un couple en deux autres situés dans deux plans donnés, pourvu que ces plans et celui du couple proposé se rencontrent suivant une même droite, ou suivant des droites parallèles; (car en transportant le plan de l'un de ces couples parallèlement à lui-même, ce qui est permis (49), on rassemblerait leurs trois intersections parallèles en une seule).

Pour opérer cette décomposition, on n'aura qu'à suivre dans l'ordre inverse le procédé que nous venons de donner pour la composition de deux couples; ou bien l'on s'y prendra de cette manière qui est très-simple, et dont nous nous servirons quelquefois.

Fig. 23. 58. Soit AZ la commune intersection des trois plans : menons à volonté un plan YAX qui les coupe suivant les trois lignes respec-

tives AY, AV, AX; et soit ZAV le plan du couple proposé.

De quelque manière que ce couple (P, —P) soit situé dans le plan ZAV, on peut le placer de manière que ses forces soient parallèles à l'intersection AZ, et que la direction de l'une d'elles, comme de la force —P, coïncide avec cette même intersection. Alors la direction de l'autre force P rencontrera quelque part en B la droite AV, et l'on aura le couple (P, —P) appliqué d'une manière quelconque sur AB, comme on le voit dans la figure. Maintenant formons, suivant les directions AY, AX, avec AB comme diagonale, le parallélogramme BCAD; et à l'un des angles C ou D, en D par exemple, appliquons deux forces contraires P′, —P′, égales et parallèles aux forces P et P du couple proposé. L'effet de ce couple ne sera pas changé. Mais actuellement, au lieu du couple (P, —P) appliqué sur la diagonale AB, on peut en considérer deux autres: l'un (P′, —P) appliqué sur le côté AD dans l'un des plans donnés ZAY : l'autre (P, —P′), appliqué sur BD parallèlement à l'autre plan ZAX. Or, ce couple peut être transporté parallèlement à lui-même dans ce plan ZAX, sur le côté AC=BD; et l'on aura alors, au lieu du couple (P, —P) appliqué sur la diagonale AB, deux couples

(P′, —P), (P, —P′), composés de forces égales et parallèles aux premières, appliqués dans les deux plans donnés sur les côtés AD, AC.

Remarque.

59. Si l'on supposait que le plan YAX est mené perpendiculairement à la commune intersection AZ des plans des trois couples, les forces de ces couples seraient perpendiculaires aux lignes AY, AV, AX; et comme ces forces sont égales, les énergies des couples seraient proportionnelles à leurs bras de levier AD, AB, AC; et d'après ce que nous venons de dire, on retomberait sur la proposition précédente, n°. (55); ce qui fournit, comme on voit, une nouvelle démonstration de cette proposition.

Manière plus simple d'exprimer les Théorèmes qui concernent la composition des Couples.

60. Au lieu de déterminer la position d'un couple par celle de son plan, on peut aussi la déterminer par la direction d'une droite quelconque perpendiculaire à ce plan, et que l'on pourra nommer *l'axe du couple*. Puisqu'un couple peut être supposé appliqué où l'on voudra dans son plan, ou dans tout plan pa-

rallèle, il est visible que l'on connaîtra la position d'un couple dans l'espace, lorsque l'on connaîtra la direction de son axe ; car en élevant où l'on voudra sur cet axe un plan perpendiculaire, ce plan pourra être pris pour celui du couple proposé.

Au moyen de cette remarque, nous exprimerons plus commodément dans le discours et dans le calcul, le théorème que nous venons de démontrer, et celui que nous y ajouterons.

61. Soit le parallèlogramme ALGM, et Fig. 24.
concevons suivant les deux côtés AL, AM, et suivant la diagonale AG, trois plans élevés perpendiculairement sur le plan de ce parallélogramme. Nous venons de voir que s'il y a dans les deux premiers deux couples dont les momens respectifs soient représentés par les deux côtés AL, AM, ces deux couples se composeront en un seul situé dans le troisième plan, et dont le moment sera représenté par la diagonale AG.

Or, si par le point A et dans le plan du parallélogramme, on tire trois lignes AL′, AG′, AM′, perpendiculaires aux trois lignes respectives AL, AG, AM, il est facile de voir que ces trois lignes seront respectivement perpendiculaires aux plans des trois couples, qu'elles feront entr'elles les mêmes angles que

les trois lignes AL, AG, AM, et que par conséquent, si l'on prend AL′=AL, AG′=AG, AM′=AM, on formera un parallélogramme AL′G′M′ parfaitement égal au premier ALGM.

Donc l'on pourra dire, que *si deux couples situés dans deux plans respectivement perpendiculaires aux deux côtés d'un parallélogramme* AL′G′M′, *sont représentés en énergies par les longueurs respectives* AL′, AM′ *de ces côtés; le couple résultant sera situé dans un plan perpendiculaire à la diagonale, et représenté en énergie par la longueur* AG′ *de cette diagonale.*

Ou plus simplement : deux couples représentés, pour leurs axes et pour leurs énergies, par les deux côtés respectifs AL′, AM′ d'un parallélogramme, se composent en un seul représenté, pour son axe et pour son énergie, par la diagonale AG′ de ce parallélogramme.

62. On voit ici par un raisonnement tout-à-fait semblable à celui du n°. (37), que deux couples qui agissent dans des plans qui se coupent, ou qui ne sont pas parallèles, ne peuvent jamais donner un couple résultant nul, à moins qu'ils ne soient nuls tous les deux à-la-fois.

Remarque.

63. LORSQUE les plans des deux couples com-

posans sont rectangulaires entr'eux, les deux perpendiculaires à ces plans, ou les deux axes AL′ AM′, sont aussi rectangulaires; et l'on a dans le rectangle AL′G′M′, $\overline{AG'}^2 = \overline{AL'}^2 + AM'^2$; de plus, si l'on nomme α et β les angles que fait la diagonale AG′ avec les deux côtés adjacents AL′, AM′; on a $AL' = AG' \cos. \alpha$, $AM' = AG'. \cos. \beta$.

Donc, en désignant simplement les trois énergies respectives par les lettres L, M, G, on a pour l'énergie résultante G : $G^2 = L^2 + M^2$, d'où $G = \sqrt{L^2 + M^2}$, et pour les angles que son axe fait avec les axes des deux autres $L = G \cos. \alpha$, $M. = G. \cos. \beta$, d'où $\cos. \alpha = \frac{L}{G}$, $\cos. \beta = \frac{M}{G}$.

Théorème III.

64. *Trois couples situés dans trois plans respectivement perpendiculaires aux trois arrêtes contigues d'un parallélipipède, et représentés en énergies par les longueurs respectives de ces arrêtes, se composent toujours en un seul situé dans un plan perpendiculaire à la diagonale, et représenté en énergie par cette diagonale elle-même.* Fig. 25.

Soit en effet A...G le parallélipipède,

AL, AM, AN, les côtés qui représentent à la fois les axes et les énergies des trois couples.

Les deux couples représentés en énergies par les deux côtés AL, AM du parallélogramme ALOM, se composeront en un seul, représenté en énergie par la diagonale AO, et situé dans un plan perpendiculaire à cette diagonale. Maintenant ce couple, et le troisième représenté en énergie par AN, se composeront en un seul, représenté en énergie par la diagonale AG du parallélogramme ANGO, et situé dans un plan perpendiculaire à cette diagonale. Or cette diagonale est en même temps celle du parallélipipède : donc etc.

65. On voit encore ici, par le même raisonnement que celui du n°. (42), que si trois couples agissent dans trois plans qui forment un angle solide, ou qui se coupent en un point unique, ils ne peuvent jamais avoir un couple résultant nul, à moins qu'ils ne soient nuls en même temps tous les trois.

Remarque.

66. Lorsque le parallélipipède est rectangulaire, en nommant L, M, N, les énergies composantes, et G l'énergie résultante, on a manifestement : $G^2 = L^2 + M^2 + N^2$.

En désignant par λ, μ, ν, les trois angles que

la diagonale, ou plutôt que l'axe du couple résultant fait avec les trois axes des couples composans; on a :

$$L = G\cos.\lambda,\ M = G\cos.\mu,\ N = G.\cos.\nu.$$

d'où :

$$\text{Cos.}\ \lambda = \frac{L}{G},\ \cos.\mu = \frac{M}{G},\ \cos.\nu = \frac{N}{G}.$$

Donc s'il s'agit de calculer le moment résultant G des trois momens L, M, N, dont les axes sont rectangulaires, on aura pour sa valeur, $G = \sqrt{L^2 + M^2 + N^2}$, et pour les angles λ, μ, ν, que son axe fait avec les trois axes des momens composans :

$$\text{Cos.}\ \lambda = \frac{L}{\sqrt{L^2 + M^2 + N^2}},$$

$$\text{Cos.}\ \mu = \frac{M}{\sqrt{L^2 + M^2 + N^2}},$$

$$\text{Cos.}\ \nu = \frac{N}{\sqrt{L^2 + M^2 + N^2}}.$$

S'il s'agit, au contraire, de décomposer l'énergie G d'un couple en trois autres situées dans trois plans rectangulaires entr'eux, ou dont les trois axes soient rectangulaires, on aura, pour les valeurs respectives des énergies composantes, $L = G\cos.\lambda$, $M = G\cos.\mu$, $N = G\cos.\nu$; λ, μ, ν, étant les trois angles

AL, AM,
à la fois les a

Les deux
les deux cô
ALOM,
senté en é
dans un pl
Maintena
senté en
un seul,
gonale A
situé dans
gonale. O
celle du p

65. On
nement qu
ples agisse
angle solid
unique, ils
résultant n
en même te

66. Lorsqu
laire, en non
composantes,
manifestement
En désignant

ux des

ons pas
seulement
G, cos. λ,
ns qui sont:
= G cos. λ,
moyen des-
de ces quan-
quatre autres.
s où l'on ne
λ, μ, ν; alors
rapports des

CHAPITRE.

rigées comme
espace.

e l'on voudra P,
ière quelconque
stème libre.
elles, la force P,
uée au point B.
rement pris dans
u qu'on l'y sup-
que deux forces
contraires

gales et parallèles à la force
je n'ai rien changé à l'état du
puis considérer maintenant,
P' appliquée en B, la force
et le couple (P, —P'), agis-
AB. Si, pour plus de clarté,
ouple ailleurs dans un plan
èle au sien, il ne restera au
orce P' égale et parallèle à la
n'est, en quelque sorte, que
P qu'on aurait transportée pa-
-même de B en A.

même transformation pour toutes
stème à l'égard du même point A,
e que toutes ces forces viendront
arallèlement à elles-mêmes, mais
de plus dans le système autant de
liqués provenans de chaque trans-
Or, toutes les forces appliquées au
e composeront en une seule R, et Fig. 27.
ouples, en un seul couple (S, —S),
sur une certaine droite BC.

i nous apprend que *tant de forces que*
ndra appliquées d'une manière quel-
à un corps, peuvent toujours se ré-
une seule force et à un couple unique,
seront en général situés dans des plans
is.

que l'axe du couple donné fait avec ceux des couples composans cherchés.

67. Au reste, nous ne nous arrêterons pas sur ces détails : nous remarquerons seulement qu'entre les sept quantités L, M, N, G, cos. λ, cos. μ, cos. ν, on a quatre équations qui sont : $G^2 = L^2 + M^2 + N^2$, $L = G \cos. \lambda$, $M = G \cos. \mu$, $N = G \cos. \nu$, au moyen desquelles, connaissant d'ailleurs trois de ces quantités, on pourra déterminer les quatre autres.

Il faut pourtant excepter le cas où l'on ne connaîtrait que les trois angles λ, μ, ν; alors on ne pourrait obtenir que les rapports des énergies L, M, N, G.

Conclusion générale de ce Chapitre.

Composition des Forces dirigées comme on voudra dans l'espace.

68. Soient tant de forces que l'on voudra P, $P_{,}$, $P_{,,}$ etc. appliquées d'une manière quelconque dans l'espace, à un corps ou système libre.

Je considère d'abord l'une d'elles, la force P, par exemple, qui est appliquée au point B. Ensuite, au point A, arbitrairement pris dans ce corps, ou au-dehors (pourvu qu'on l'y suppose invariablement fixé) j'applique deux forces

Fig. 26.

contraires

contraires P′, —P′ égales et parallèles à la force P. Il est clair que je n'ai rien changé à l'état du système. Mais je puis considérer maintenant, au lieu de la force P appliquée en B, la force P′ appliquée en A, et le couple (P, —P′) agissant sur la droite AB. Si, pour plus de clarté, on transporte ce couple ailleurs dans un plan quelconque parallèle au sien, il ne restera au point A que la force P′ égale et parallèle à la force P, et qui n'est, en quelque sorte, que cette même force P qu'on aurait transportée parallèlement à elle-même de B en A.

Si l'on fait la même transformation pour toutes les forces du système à l'égard du même point A, il est manifeste que toutes ces forces viendront s'y réunir parallèlement à elles-mêmes, mais qu'il y aura de plus dans le système autant de couples appliqués provenans de chaque transformation. Or, toutes les forces appliquées au point A se composeront en une seule R, et tous les couples, en un seul couple (S, —S) appliqué sur une certaine droite BC. Fig. 27.

Ce qui nous apprend que *tant de forces que l'on voudra appliquées d'une manière quelconque à un corps, peuvent toujours se réduire à une seule force et à un couple unique, lesquels seront en général situés dans des plans différens.*

Observons, en passant, que la quantité, la direction et le sens de la résultante R seront toujours les mêmes, en quelque lieu qu'on ait pris le point A. En variant la position de ce point, la résultante R ne fera que se transporter parallèlement à elle-même en différens lieux de l'espace; mais le plan et l'énergie du couple résultant (S, —S) changeront nécessairement.

Corollaire I.

Qui contient les lois de l'équilibre de tout système libre.

69. Un couple ne pouvant jamais être tenu en équilibre par aucune simple force dirigée comme on voudra dans l'espace, il résulte de ce que nous venons de dire qu'il ne pourra jamais y avoir équilibre dans le système, à moins que la résultante R des forces ne soit nulle d'elle-même, et que le moment du couple résultant (S, —S) ne soit aussi nul de lui-même.

Ainsi, *toutes les forces appliquées au système, étant transportées parallèlement à elles-mêmes en un point quelconque du système ou de l'espace, doivent s'y faire équilibre entr'elles; et tous les couples qu'elles produisent en se transportant en ce point, doivent aussi se faire équilibre entr'eux.*

Remarque.

70. TELLES sont, pour un système libre quelconque, de forme invariable, les deux conditions d'équilibre nécessaires et suffisantes, c'est-à-dire, sans lesquelles l'équilibre ne pourra subsister, et telles qu'il aura manifestement lieu, si elles sont remplies.

Pour développer ces deux conditions, il faudra remonter à la valeur de la résultante R, et à la valeur du couple résultant (S, —S), en conservant les lois qui lient la résultante à ses composantes, et le couple résultant aux couples composans; faire ensuite la force R et le couple (S, —S) tous deux nuls, et voir quelles relations cela établit entre les forces primitives appliquées au système. On obtiendra de cette manière les conditions de l'équilibre, exprimées au moyen des seules forces données immédiatement par l'état de la question, ce qui est la solution du problème que nous avions en vue.

Mais tous ces développemens qui, d'après les principes posés ci-dessus, ne sont plus qu'une affaire de géométrie et de calcul, feront l'objet du Chapitre suivant.

Observons .
direction et l·
toujours les
ait pris le poi
point, la résu:
parallèlement
de l'espace; n:
résultant (S,

Qui contient

69. Un couple
équilibre parane:
on voudra dans
nous venons de
avoir équilibre d
résultante R des fo
et que le moment
ne soit aussi nul de

Ainsi, *toutes les for*
étant transportées pa
en un point quelcon
pace, doivent s'y fair
tous les couples qu'el
portant en ce point, s
libre entr'eux.

essaires pour
au système,
qu'elles ne se

ées au système
venons de le voir,
, supposons que
—S) se réduisent
ce, ou, si l'on
asse équilibre au
R.
e les deux forces
e dis que les deux
un couple con-
ple (S, —S), et
dans un plan pa-
ne chose.
e trois cas : ou les
susceptibles de se
cette force ne pourra
S, —S); ou elles se
un couple, et alors
—S) se réduiront à
e en équilibre avec
s se réduiront à un
s qui puisse arriver.

Il faut donc au moins que les deux forces R R′ forment ensemble un couple. Mais pour ce couple fasse équilibre au couple (S, —S), st nécessaire qu'il soit situé dans le même n ou dans un plan parallèle, sans quoi ces ux couples se composeraient toujours en seul qui ne pourrait jamais être nul (62), et y aurait pas équilibre. Donc la direction de résultante R doit être parallèle au plan du ple résultant (S, —S); et par conséquent, *es les forces appliquées au système ne pour- t jamais se réduire à une seule, à moins que résultante de ces forces transportées pa- lèlement à elles-mêmes en un même point, t une direction parallèle au plan du couple ltant; et cela, en quelque lieu de l'espace n ait pris d'abord le point où l'on a trans- é toutes les forces.*

tte condition est nécessaire, et il est clair le suffit en général; car, à moins que la tante R ne soit nulle, on sera toujours e d'appliquer au système une force R′ qui gale, parallèle et opposée à la force R, et rme avec elle un couple (R, —R) de sens ire à l'égard du couple (S, —S), et d'un nt équivalent. Cette force estimée en sens ire sera la résultante générale.

Corollaire II.

Qui contient les conditions nécessaires pour que toutes les forces appliquées au système, aient une résultante unique, lorsqu'elles ne se font pas équilibre.

71. Toutes les forces appliquées au système étant ramenées, ainsi que nous venons de le voir, à une seule force et à un couple, supposons que cette force R et le couple (S, —S) se réduisent effectivement à une seule force, ou, si l'on veut, qu'une force unique R′ fasse équilibre au couple (S, —S) et à la force R.

Puisqu'il y a équilibre entre les deux forces R, R′ et le couple (S, —S), je dis que les deux forces R et R′ doivent former un couple contraire et équivalent au couple (S, —S), et situé dans le même plan, ou dans un plan parallèle, ce qui est ici la même chose.

Car, il ne peut arriver que trois cas : ou les deux forces R et R′ seront susceptibles de se réduire à une seule, et alors cette force ne pourra faire équilibre au couple (S, —S); ou elles se réduiront à une seule avec un couple, et alors ce couple et le proposé (S, —S) se réduiront à un seul, qui ne pourra pas être en équilibre avec la force : ou bien enfin, elles se réduiront à un seul couple, et c'est le seul cas qui puisse arriver.

Il faut donc au moins que les deux forces R et R′ forment ensemble un couple. Mais pour que ce couple fasse équilibre au couple (S, —S), il est nécessaire qu'il soit situé dans le même plan ou dans un plan parallèle, sans quoi ces deux couples se composeraient toujours en un seul qui ne pourrait jamais être nul (62), et il n'y aurait pas équilibre. Donc la direction de la résultante R doit être parallèle au plan du couple résultant (S, —S); et par conséquent, *toutes les forces appliquées au système ne pourront jamais se réduire à une seule, à moins que la résultante de ces forces transportées parallèlement à elles-mêmes en un même point, n'ait une direction parallèle au plan du couple résultant; et cela, en quelque lieu de l'espace qu'on ait pris d'abord le point où l'on a transporté toutes les forces.*

Cette condition est nécessaire, et il est clair qu'elle suffit en général; car, à moins que la résultante R ne soit nulle, on sera toujours maître d'appliquer au système une force R′ qui soit égale, parallèle et opposée à la force R, et qui forme avec elle un couple (R, —R) de sens contraire à l'égard du couple (S, —S), et d'un moment équivalent. Cette force estimée en sens contraire sera la résultante générale.

Au reste, on pourra prendre immédiatement cette résultante; car si la force R appliquée en A est parallèle au plan du couple (S, —S), on pourra amener ce couple dans un même plan avec la force R, et alors les trois forces R, S et —S étant dans le même plan se composeront toujours en une seule qui sera la résultante unique de toutes les forces.

72. Dans le cas où la force R est égale à zéro, il n'y a point de résultante unique. Car toutes les forces du système sont réduites au seul couple (S, —S) qui ne peut jamais se réduire à une seule force. Ainsi, à la condition précédente qui exige que la force R soit parallèle au plan du couple (S, —S), on pourrait joindre encore celle-ci, comme condition particulière: que la force R ne soit pas égale à zéro; à moins qu'il n'y ait équilibre, auquel cas la force résultante et le couple résultant étant tous deux nuls, on pourrait dire qu'il y a une résultante unique qui est zéro, et qui a d'ailleurs telle direction et telle position qu'on veut dans l'espace.

Remarque I.

73. LORQUE le couple résultant (S, —S) et la force R ne sont pas dans des plans parallèles, il n'y a jamais de résultante unique. Seulement en transportant le couple (S, — S), parallèlement à son plan, on peut amener l'extrémité

Fig. 28.

B ou C de son bras de levier sur le point A, et alors les deux forces R et S appliquées en A se composent en une seule T ; et toutes les forces du système sont réduites à deux autres T et —S non situés dans le même plan.

Ce qui nous fait voir d'abord que *tant de forces que l'on voudra dirigées arbitrairement dans l'espace, peuvent toujours se réduire à deux au plus, non situées dans le même plan.*

Et de plus, que *deux forces non situées dans le même plan, ne peuvent jamais avoir de résultante unique ;* proposition qu'on regarde ordinairement comme évidente, mais qui a besoin d'être démontrée.

Remarque II.

74. Comme il paraît incontestable qu'un couple ne peut être en équilibre autour d'un point fixe, par exemple autour du milieu de son bras de levier, remarquons cette différence entre l'équilibre de plusieurs forces appliquées à un corps assujéti à tourner autour d'un point fixe, et l'équilibre de plusieurs couples qui seraient appliqués au même corps.

Dans le premier cas, il n'est pas nécessaire que les forces aient une résultante nulle d'elle-même ; il suffit qu'elles aient une résultante qui passe par le point fixe où elle sera détruite.

Mais dans le second, il faut nécessairement que les couples appliqués au corps donnent un couple résultant nul de lui-même, comme s'il n'y avait pas de point fixe dans le corps. Car, si ce couple n'est pas nul de lui-même, en le transportant, pour plus de clarté, de manière que le milieu de son bras de levier vienne tomber au point fixe, il est évident que ses deux forces ne pourront être en équilibre autour de ce point.

Et il est encore évident qu'elles ne seraient pas en équilibre, quand bien même il y aurait dans le corps un axe fixe, pourvu que le plan du couple ne passât point par cet axe, ou ne fût pas parallèle à sa direction, ce qui reviendrait au même (49).

Ainsi, *lorsque différens couples situés comme on voudra dans l'espace, sollicitent un corps ou système assujéti à tourner d'un point fixe, les conditions de l'équilibre sont absolument les mêmes que si le corps était parfaitement libre.*

Et la même chose a lieu dans le cas d'un axe fixe, si les couples appliqués sont tellement disposés qu'ils ne puissent jamais donner un couple résultant parallèle à cet axe; ce qui n'arrive généralement que lorsque tous les couples sont dans des plans parallèles qui rencontrent l'axe fixe en le coupant.

CHAPITRE II.

DES CONDITIONS DE L'ÉQUILIBRE.

75. Nous venons de voir (68) qu'on peut transformer chaque force P qui agit sur un système en un certain point B, en une autre force P' Fig. 26. égale, parallèle et de même sens, appliquée en un autre point A pris à volonté dans l'espace, et en un couple (P, —P) appliquée sur A B, et dont l'énergie est mesurée par le moment P × AI, AI étant une perpendiculaire abaissée du point A sur la direction de la force P. Que de cette manière, le système peut être considéré comme sollicité par la résultante de toutes les forces qui se seraient en quelque sorte transportées parallèlement à elles-mêmes au point A, et par le couple résultant de tous les couples qui naissent de ces transformations. Nous avons vu que pour l'équilibre, cette résultante et le moment du couple résultant doivent être nuls tous les deux à la fois.

Nous pourrions développer sur-le-champ ces deux conditions dans le cas général d'un corps ou système sollicité par tant de forces que l'on

voudra dans l'espace, et déduire delà les conditions de l'équilibre dans tous les cas particuliers qui peuvent se présenter : mais, comme notre marche doit toujours être uniforme dans le courant de ce Chapitre, où plutôt comme elle n'offrira qu'une même et continuelle application d'un même principe, nous aimons mieux passer en revue plusieurs questions simples, avant que de traiter la question générale. Cela nous fournira d'ailleurs l'occasion de répandre plusieurs propositions sur les momens dont on fait beaucoup d'usage dans la Statique.

Une fois parvenu au Théorème général de l'équilibre, on pourra s'y arrêter, et l'on y trouvera comprises toutes les propositions qui auront été précédemment expliquées.

I.

De l'équilibre des Forces parallèles qui sont situées dans un même plan.

Fig. 29. 76. SOIENT P, P′, P″, etc. les différentes forces parallèles. D'un point A pris où l'on voudra dans leur plan, abaissons une perpendiculaire commune sur leurs directions, et qui les coupe aux points respectifs B, C, D, etc.

Considérant d'abord la force P, j'applique au

point A deux forces contraires P, —P, égales et parallèles à la première; ainsi, j'ai au lieu de la simple force P appliquée en B, une force égale et parallèle appliquée en A, et un couple (P, —P) agissant sur A B et dont l'énergie est P × A B. Je substitue de même au lieu de la force P′ appliquée en C une force égale et parallèle et de même sens appliquée en A, et un couple (P′, —P′) appliqué sur A C et dont l'énergie en P × A C, de même pour la force P″, etc.

Si, pour plus de clarté, on transporte tous les couples ailleurs dans le même plan, il ne restera au point A que les forces P, P′, P″, etc. égales et parallèles aux forces primitives appliquées en B, C, D, etc. et de même sens.

Or, pour qu'il y ait équilibre, il faut 1°. que la résultante des forces appliquées en A soit nulle d'elle-même. Mais, toutes ces forces agissant dans une même direction, leur résultante est égale à leur somme (*), et par conséquent, l'on aura:

$$P + P' + P'' + \text{etc.} = 0$$

première équation de l'equilibre.

2°. Il faut que le moment résultant de tous les momens des couples soit aussi nul de lui-

(*) Il faut prendre ce mot ici et ailleurs, dans le sens de la remarque suivante (77).

même ; mais ce moment résultant est égal à la somme des momens composans, puisque tous les couples sont dans un même plan. Donc, en nommant pour abréger p, p', p'', etc. les bras de levier respectifs A B, A C, A D, etc. on aura :

$$Pp + P'p' + P''p'' + \text{etc.} = 0$$

seconde équation de l'équilibre.

Remarque.

77. Il est clair que dans la première équation, si l'on regarde les forces qui tirent dans un même sens comme positives, il faut regarder celles qui tirent dans le sens contraire comme négatives. Nous regarderons désormais comme positives les forces telles que P' qui tirent au-dessus de la droite A D, et par conséquent comme négatives les forces telles que P, P'.... qui tirent au-dessous ; et de cette manière on pourra dire que la *somme* des forces doit être nulle par l'équilibre.

Pour les signes des momens Pp, $P'p'$..... de la seconde équation, il faut faire attention à deux choses, 1°. au signe de la force ; 2°. au signe du bras de levier.

Supposons, en effet, que la force P sans cesser d'agir du même côté du point A, vienne à

changer de signe; il est clair que le couple nouveau qu'elle produira à l'égard du point A sera d'un sens contraire à celui du premier : ainsi, le moment Pp change de signe, lorsque la force P en change.

Concevons maintenant que la force P, sans changer de signe, vienne à agir au point B′ de l'autre côté du point A. Il est visible que le couple nouveau qu'elle produira à l'égard du point A sera d'un sens contraire à celui du premier, et par conséquent le moment Pp change de signe, lorsque le seul bras de levier p en change.

Donc en prenant les bras de levier tels que A B qui sont à droite du point A comme positifs, par exemple, il faudra prendre les bras de levier tels que A B′ qui tomberaient à gauche comme négatifs; et l'on pourra toujours dire que la somme des momens doit être nulle en donnant des signes convenables aux forces et aux bras de levier.

Corollaire.

78. Supposons que les forces P, P′, P″, etc. ne soient pas en équilibre, et soit R leur résultante, et par conséquent —R la force capable de leur faire équilibre.

Les deux équations précédentes devront avoir

lieu si l'on y fait entrer la force —R. On aura donc d'abord :

$$P + P' + P'' + \text{etc.} - R = 0$$

ou bien :

$$R = P + P' + P'' + \text{etc.}$$

ce qui nous apprend que la résultante est égale à la somme des composantes, ce que nous savions déjà.

En second lieu, si l'on nomme r la distance de la résultante au point A, on aura :

$$Pp + P'p' + P''p'' + \text{etc.} - Rr = 0$$

ou bien :

$$Rr = Pp + P'p' + P''p'' + \text{etc.}$$

Ce qui nous fait voir que le produit de la résultante par sa distance r à un point quelconque A pris dans le plan des forces, est égal à la somme de tous les produits semblables des composantes par leurs distances respectives à ce même point.

En divisant cette équation par R, et mettant

à la place de cette quantité sa valeur $P+P'+P''+$etc., on aura :

$$r=\frac{Pp+P'p'+P''p''+\text{etc.}}{P+P'+P''+\text{etc.}}$$

Ce qui donnera la distance de la résultante au point A, et par conséquent fera connaître sa position, puisque l'on sait, d'ailleurs, qu'elle doit être parallèle aux composantes.

Remarque.

79. Les produits Pp, $P'p'$, etc. sont ce que l'on nomme ordinairement les momens des forces; mais on n'attache pas, au mot de moment, d'autre idée que celle d'un simple produit, qui résulte de deux nombres dont l'un exprime la force et l'autre sa distance à un point: au lieu que le moment est pour nous la mesure d'une force particulière, c'est-à-dire, de l'énergie du couple qui provient de la force, lorsqu'on la transporte parallèlement à elle-même au point que l'on considère. Mais comme ici, et dans la plupart des ouvrages de Statique, le moment exprime une même quantité numérique, à la différence près de l'idée que nous y joignons, nous avons cru devoir conserver ce mot qui est

consacré par l'usage, et qui rend bien d'ailleurs notre idée, puisque le mot latin *momentum* d'où vient *moment*, signifie, *force*, *poids*, *énergie*.

Au reste, lorsque nous ne voudrons parler que du simple produit numérique d'une force par sa distance, à un point, à un axe perpendiculaire, ou à un plan parallèle à sa direction, nous dirons aussi le moment de la force par rapport au point, ou à l'axe, ou au plan parallèle : et cela n'introduira aucun équivoque dans le discours, puisque l'on pourra entendre, si l'on veut, par ce produit, le moment du couple qui naîtra de la force transportée parallèlement à elle-même au point, ou sur l'axe, ou dans le plan parallèle.

De cette manière, l'équation précédente

$$\mathrm{R}r = \mathrm{P}p + \mathrm{P}'p' + \mathrm{P}''p'' + \text{etc.}$$

peut s'exprimer ainsi :

La somme des momens de tant de forces parallèles qu'on voudra, par rapport à un point quelconque de leur plan, est égale au moment de leur résultante par rapport au même point ; ce qui est le Théorème connu des momens, pour les forces parallèles qui sont situées dans un même plan.

II.

De l'équilibre des forces parallèles qui agissent sur différens points d'un corps dans l'espace.

80. SOIENT P, P′, P″, etc. les différentes forces parallèles. Je mène à volonté deux plans Z A Y, Z A X parallèles aux directions des forces, et qui se coupent suivant A Z à angle droit l'un sur l'autre, pour plus de simplicité. Cela posé, considérant d'abord la force P appliquée en B, j'abaisse une perpendiculaire B H sur la commune intersection A Z et appliquant en H deux forces contraires P, —P égales et parallèles à la première, je considère au lieu de la P appliquée en B, une force égale et parallèle et de même sens appliquée en H, et un couple (P, —P) agissant sur B H. Si l'on fait la même transformation pour les autres forces P′, P″, etc. et que, pour plus de clarté, on conçoive tous les couples transportés ailleurs, chacun dans son plan, il ne restera dans l'axe A Z que les forces P, P′, P″, etc. respectivement égales et parallèles aux forces primitives, et de même sens. Fig. 30.

Or, la première condition de l'équilibre est que la résultante de toutes ces forces soit nulle d'elle-même; et comme elles agissent dans une

même droite, leur résultante est égale à leur somme; et par conséquent, il faut qu'on ait :

$$P + P' + P'' + \text{etc.} = 0$$

La seconde condition de l'équilibre est que le moment résultant de tous les momens des couples soit aussi nul de lui-même. Mais ce moment résultant ne se trouve pas comme tout-à-l'heure, en ajoutant les momens composans, car les couples ne sont pas dans un même plan ni dans des plans parallèles.

Pour l'obtenir, considérant d'abord le couple (P, —P) que je suppose ramené dans sa première position sur BH, j'abaisse du point B deux perpendiculaires BG, BI sur les deux plans ZAY, ZAX; et, achevant le parallélogramme BGHI, je décompose le couple (P, —P) appliqué sur la diagonale BH, en deux autres composés de forces égales, mais appliqués respectivement sur les deux côtés HI et GH (58); ainsi, en nommant x et y ces lignes, ou leurs égales BG et BI, le moment proposé P×BH, sera décomposé en deux autres Px, Py situés dans les plans respectifs ZAX, ZAY.

Si l'on nomme de même x' et y' les deux perpendiculaires abaissées du point d'application de la force P' sur les deux plans, le moment du

couple (P', $-P'$) pourra se décomposer dans ces deux plans en deux momens $P'x'$, $P'y'$; et ainsi de suite pour tous les couples.

Mais les momens qui sont dans le plan Z A X se réduiront à un seul L, égal à leur somme $Px + P'x' + P''x''$ + etc.; tous ceux qui seront dans le plan Z A Y se réduiront de même à un seul M égal à leur somme $Py + P'y' + P''y''$ + etc., et ces deux momens résultans L et M se composeront enfin en un seul G qui sera le moment total. Donc il faudra, pour l'équilibre, qu'on ait $G = 0$. Mais les deux momens L et M, étant situés dans des plans qui se coupent, ne peuvent jamais donner un moment résultant nul, à moins qu'ils ne soient nuls, chacun en particulier (62); et partant la seconde condition générale de l'équilibre $G = 0$, exige ces deux équations : $L = 0$, $M = 0$, c'est-à-dire,

$$Px + P'x' + P''x'' + \text{etc.} = 0,$$
$$Py + P'y' + P''y'' + \text{etc.} = 0.$$

Ce qui nous fait voir que *pour l'équilibre d'un groupe de forces parallèles, il faut ces trois conditions particulières : que la somme de toutes les forces soit nulle, et que la somme de leurs momens par rapport à deux plans*

parallèles à leurs directions, soit nulle d'elle-même pour chacun de ces plans.

Remarque.

81. DANS les équations précédentes, nous regarderons comme positives les forces qui tirent de bas en haut, et par conséquent comme négatives celles qui tirent dans le sens contraire.

Pour les signes des momens, il est clair qu'ils changent en même temps que ceux des forces. Mais d'un autre côté, si une force telle que P, sans changer de signe, vient à agir en B′ de l'autre côté du plan Z A X, elle produira un couple d'un sens contraire à celui du premier; et par conséquent, le moment change encore de signe lorsque le seul bras de levier en change. Donc si, par rapport à un plan, on regarde les bras de levier qui tombent d'un côté, comme positifs, il faudra regarder ceux qui tombent de l'autre côté, comme négatifs; et l'on pourra toujours dire que la somme des momens est nulle, en donnant des signes convenables aux forces et aux bras de levier.

Corollaire.

82. SUPPOSONS que les forces P, P′, P″, etc. ne soient pas en équilibre. Soit R leur résul-

tante, et par conséquent —R la force capable de leur faire équilibre. Les trois équations précédentes devront avoir lieu en y introduisant la force —R. On aura donc d'abord,

$$R = P + P' + P'' + \text{etc.}$$

ce qui donne la valeur de la résultante.

Si l'on nomme ensuite p et q les distances respectives de cette résultante aux deux plans ZAY, ZAX, on aura :

$$Rp = Px + P'x' + P''x'' + \text{etc.},$$
$$Rq = Py + P'y' + P''y'' + \text{etc.};$$

d'où, en mettant pour R sa valeur, l'on tire :

$$p = \frac{Px + P'x' + P''x'' + \text{etc.}}{P + P' + P'' + \text{etc.}},$$

$$q = \frac{Py + P'y' + P''y'' + \text{etc.}}{P + P' + P'' + \text{etc.}},$$

ce qui donnera les distances de la résultante à deux plans, et fera connaître sa position dans l'espace. Car, si l'on mène aux deux distances trouvées, deux plans respectivement parallèles aux premiers, la direction de la résultante

qui doit se trouver à la fois dans ces deux plans, ne sera autre chose que leur intersection même.

83. On voit que les équations précédentes nous fournissent ces deux conséquences, qu'on peut énoncer ainsi, conformément à l'usage :

La somme des momens de tant de forces parallèles que l'on voudra, par rapport à un plan quelconque parallèle à leurs directions, est égale au moment de leur résultante.

Et la distance de la résultante à ce plan est égale à la somme des momens des forces, divisée par la somme de toutes les forces.

Corollaire II.

Du centre des Forces parallèles.

84. PUISQUE le centre des forces parallèles est situé sur la direction de la résultante, il est clair que la distance de ce centre à un plan quelconque parallèle aux forces, se trouvera comme la distance de la résultante à ce plan, c'est-à-dire, en divisant la somme des momens, par rapport au plan, par la somme de toutes les forces.

Si l'on veut avoir ensuite la distance de ce centre à un plan quelconque, on concevra que les forces, sans changer de grandeurs, sans cesser d'être parallèles et de passer aux mêmes points,

soient tournées toutes parallèlement à ce nouveau plan; et l'on aura pour cette seconde distance la somme des nouveaux momens divisée par la somme de toutes les forces.

On fera la même opération pour un troisième plan, et si l'on mène alors aux trois distances trouvées, trois plans respectivement parallèles aux trois premiers, le centre des forces devant se trouver à la fois dans ces trois plans, sera déterminé par leur intersection.

85. Si toutes les forces étaient égales et de même sens, l'expression

$$\frac{Px+P'x'+P''x''+\text{etc.}}{P+P'+P''+\text{etc.}}$$

qui donne la distance du centre à un plan quelconque, deviendrait :

$$\frac{Px+Px'+Px''+\text{etc.}}{P+P+P+\text{etc.}} = \frac{x+x'+x''+\text{etc.}}{n},$$

n étant le nombre des forces parallèles.

Ainsi la distance du centre au plan serait égale à la somme des distances de tous les points d'application, divisée par leur nombre; ou, si l'on veut, égale à la moyenne distance de tous les points d'application. D'où l'on voit que dans le

cas où les forces sont égales, le centre des forces est un point dont la position ne dépend plus que de la figure formée par les points d'application.

III.

De l'équilibre des Forces qui agissent dans un même plan suivant des directions quelconques.

31. 86. SOIENT P', P'', P''', etc. les différentes forces situées d'une manière quelconque dans un même plan. D'un point quelconque A pris dans ce plan, abaissons sur leurs directions respectives des perpendiculaires A B, A C, A D, etc. qui les rencontrent en B, C, D, etc.; et nommons p', p'', p''', etc. ces perpendiculaires.

Il est clair que la force P' pourra se décomposer en une autre égale parallèle et de même sens appliquée en A, et en un couple dont l'énergie sera $P' \times A B$, ou $P' p'$. De même la force P'' se décomposera en une autre égale et parallèle et de même sens appliquée en A, et en un couple dont l'énergie sera $P'' \times B C$, ou $P'' p''$; et ainsi de suite pour toutes les autres forces P''' etc.

Or, pour qu'il y ait équilibre, il faut que la résultante de toutes les forces appliquées en

A soit nulle d'elle-même, et que l'énergie résultante de toutes les énergies $P'p'$, $P''p''$, $P'''p'''$ etc. soit aussi nulle d'elle-même.

Cette dernière condition est très-facile à exprimer, car tous les couples étant dans un même plan, l'énergie résultante est égale à la somme des énergies composantes, et l'on a sur-le-champ :

$$P'p' + P''p'' + P'''p''' + \text{etc.} = 0$$

Pour exprimer l'autre condition, imaginons qu'on décompose les forces P', P'', P''', etc. appliquées en A, chacune en deux autres suivant deux lignes quelconques AX, AY qui se coupent en A dans le plan des forces. Nommons X' et Y' les deux composantes de P' suivant les axes respectifs AX, AY; de même, X'', Y''; X''', Y'''; etc. les composantes analogues des autres forces P'', P''', etc. suivant les mêmes axes. Toutes les forces X', X'', X''', etc., étant dans une même droite AX, se composeront en une seule $X = X' + X'' + X''' + \text{etc.}$; de même les forces Y', Y'', Y''', etc. se composeront en une seule $Y = Y' + Y'' + Y''' + \text{etc.}$, et ces deux résultantes partielles se composeront en un seule R qui sera la résultante générale. Il faudra donc pour l'équilibre qu'on ait $R = 0$. Mais les deux forces X et Y agissant suivant deux lignes qui se

coupent, ne peuvent donner une résultante nulle, à moins qu'elles ne soient nulles elles-mêmes chacune en particulier (37). Et par conséquent la condition $R = o$ exige ces deux équations $X = o$, $Y = o$, c'est-à-dire :

$$X' + X'' + X''' + \text{etc.} = o$$

$$Y' + Y'' + Y''' + \text{etc.} = o.$$

Les forces P', P'', P''', etc. appliquées au point A étant parfaitement égales et parallèles aux forces primitives appliquées dans le plan, il est clair que les composantes X', Y'; X'', Y''; X''', Y'''; etc. sont, pour la quantité, parfaitement les mêmes que si l'on avait décomposé les forces primitives P', P'', P''', etc., chacune en son lieu. Et par conséquent les conditions de l'équilibre entre tant de forces que l'on voudra situées dans un même plan, sont :

1°. *Que la somme des forces décomposées parallèlement à deux axes qui se coupent dans le plan, soit nulle par rapport à chacun de ces axes.*

2°. *Que la somme des momens des forces par rapport à un point quelconque du plan, soit nulle d'elle-même.*

87. Si l'on trouvait que la dernière condition

a lieu par rapport à un certain point connu, et que les deux autres ont aussi par rapport aux directions de deux axes connus qu'on peut toujours supposer menés par ce point, il y aurait équilibre dans le système; et, puisqu'il y aurait équilibre, les mêmes conditions auraient lieu par rapport à tous les points et à tous les axes possibles, pris dans le plan des forces.

Corollaire.

88. Les forces P', P'', P''', etc. étant en équilibre, l'une d'elles, la force P', par exemple, est égale et directement opposée à la résultante de toutes les autres : donc, puisque l'on a l'équation,

$$P'p' + P''p'' + P'''p''' + \text{etc.} = 0,$$

ou bien,

$$-P'p' = P''p'' + P'''p''' + \text{etc.}$$

On peut dire : que le moment de la résultante, par rapport à un point quelconque du plan des forces, est égal à la somme des momens des composantes par rapport au même

point. Ce qui donne le Théorème connu des momens.

Si le point, par rapport auquel on prend les momens, et qu'on nomme ordinairement *le centre des momens*, tombait sur la direction même de la résultante —P', la perpendiculaire p' serait nulle, par conséquent le moment $-P'p'$ serait nul aussi, et l'on aurait :

$$o = P''p'' + P'''p''' + \text{etc.}$$

Ce qui nous fait voir que, par rapport à un point quelconque de la direction de la résultante, la somme des momens de tant de forces que l'on voudra situées dans un même plan, est toujours égale à zéro.

Remarque.

89. Dans l'équation

$$P'p' + P''p'' + P'''p''' + \text{etc.} = o$$

qui exprime la seconde condition générale de l'équilibre, il faudra distinguer les momens des couples qui agissent dans un sens, d'avec les momens de ceux qui agissent dans le sens contraire, et leur donner des signes différens. Mais pour plus de clarté et de précision, nous

allons reproduire cette équation sous une autre forme.

Manière plus simple de présenter les conditions précédentes.

90. SOIENT B′, B″, B‴, etc. les points où les forces P′, P″, P‴, etc. sont immédiatement appliquées dans le plan. Soient x' et y' les deux coordonnées A G′ et G′ B′ du point B′, par rapport aux deux axes quelconques A X, A Y; x'' et y'' les deux ordonnées analogues du point B″, et ainsi de suite. Supposons que l'on décompose d'abord toutes les forces P′, P″, P‴, etc. parallèlement aux deux axes A X, A Y : et, nommant, comme plus haut, X′ et Y′ les deux composantes de P′; X″ et Y″ les deux composantes de P″, etc., ne considérons plus, au lieu des forces données P, P″, P‴, etc., que les deux groupes X′, X″, X‴, etc.; Y′, Y″, Y‴, etc. Fig. 5a.

D'abord les forces parallèles X′, X″, X‴, etc. étant transportées parallèlement à elles-mêmes dans l'axe A X, s'y composeront en une seule égale à leur somme. Les forces parallèles Y′, Y″, Y‴, etc. étant transportées de même dans l'axe A Y, s'y composeront aussi en une seule égale à leur somme.

des ordonnées, aient le même signe que les forces du second qui tirent au-dessous de l'axe des abscisses. Donc, si l'on regarde les premières comme positives, on regardera aussi les secondes comme positives. Et de cette manière, tous les momens écrits sous le même signe dans l'équation précédente, prendront des signes relatifs aux sens des couples.

91. Mais, si dans le premier groupe X', X'', X''', etc. regardant toujours comme positives les forces qui tirent à droite de l'axe des ordonnées, ou qui tendent à augmenter les abscisses de leurs points d'application, on voulait aussi, dans le second groupe Y', Y'', Y''', etc., regarder comme positives celles qui tirent au-dessus de l'axe des abscisses, ou qui tendent à augmenter les ordonnées de leurs points d'application; il faudrait alors donner un signe contraire à toute la partie des momens relatifs à ce groupe. Et l'équation précédente se mettrait sous cette forme :

$$X'y' + X''y'' + \text{etc.} - Y'x' - Y''x'' - \text{etc.} = 0.$$

Nous retiendrons désormais cette expression de préférence à la première. Dans les deux groupes, les forces positives seront celles qui tendent

tendent à augmenter les coordonnées de leurs points d'application, et les forces négatives, celles qui tendent à diminuer les mêmes coordonnées.

Corollaire.

92. Si les deux axes A X, A Y étaient à angle droit, les abscisses et les ordonnées elles-mêmes deviendraient les bras de levier des couples, et les momens $X'y'$ etc. $Y'x'$ etc. donneraient la mesure absolue de leurs énergies. De plus, en nommant α' l'angle que fait la direction de la force P' avec l'axe des abscisses, on aurait pour la composante X' parallèle à cet axe, $P' \cos.\alpha'$. On aurait pour l'autre composante Y', $P' \sin.\alpha'$. Fig. 33.

En nommant de même α'' l'angle de la direction de la force P'' avec l'axe des abscisses, on aurait : $X'' = P'' \cos.\alpha''$, $Y'' = P'' \sin.\alpha''$; et ainsi de suite ; et les équations précédentes deviendraient :

$$P' \cos.\alpha' + P'' \cos.\alpha'' + P''' \cos.\alpha''' + \text{etc.} = 0$$

$$P' \sin.\alpha' + P'' \sin.\alpha'' + P''' \sin.\alpha''' + \text{etc.} = 0$$

$$P'(y' \cos.\alpha' - x' \sin.\alpha') + P''(y'' \cos.\alpha'' - x'' \sin.\alpha'') + P'''(y''' \cos.\alpha''' - x''' \sin.\alpha''') + \text{etc.} = 0.$$

Dans ces équations, on n'aurait pas besoin de

faire attention aux signes des forces, mais seulement à ceux des abscisses et des ordonnées. On regarderait toutes les forces P', P'', P'''... comme essentiellement positives : les signes des sinus et des cosinus donneraient les signes relatifs des composantes $P' \cos.\alpha'$ etc., $P' \sin.\alpha'$ etc., comme cela est facile à observer, si l'on veut se donner la peine de faire parcourir une circonférence entière à la direction d'une force telle que P', autour de son point d'application B'.

C'est de cette manière que l'on donne ordinairement les équations de l'équilibre pour des forces quelconques situées dans un même plan. Ces équations renferment sous l'expression la plus simple, les premières données de la question, savoir : les quantités des forces, leurs directions, par les angles qu'elles font avec une droite fixe de position, et leurs points immédiats d'application, par leurs coordonnées rectangles. Nous aurions donc pu les présenter les premières, et même nous abstenir de considérer les autres par rapport à des axes obliques ; mais comme on les démontre quelquefois par cette considération que les deux groupes de forces sont rectangulaires entr'eux, nous avons été bien aise de faire voir qu'elles ne sont qu'un cas particulier de celles qu'on trouve par rapport à des axes obliques quelconques, et que

la rectangularité des forces n'y entre pour rien. Nous reviendrons encore sur cette remarque.

Corollaire.

93. Supposons qu'il n'y ait point équilibre entre les forces P', P'', P''', etc.; et soit $-R$ la force capable de leur faire équilibre, et par conséquent, R leur résultante.

Alors les trois équations trouvées ci-dessus auront lieu en y introduisant la force $-R$.

Soit donc α l'angle que fait la direction de cette force avec l'axe des abscisses : x et y les deux coordonnées d'un point quelconque de cette direction.

En faisant pour abréger :

$$P' \cos.\alpha' + P'' \cos.\alpha'' + P''' \cos.\alpha''' + \text{etc.} = X,$$

$$P' \sin.\alpha' + P'' \sin.\alpha'' + P''' \sin.\alpha''' + \text{etc.} = Y,$$

$$\text{et, } P'(y' \cos.\alpha' - x' \sin.\alpha') + P''(y'' \cos.\alpha'' - x'' \sin.\alpha'') + P'''(y''' \cos.\alpha''' - x''' \sin.) + \text{etc.} = G;$$

On aura d'abord :

$$X - R \cos.\alpha = 0, \quad Y - R \sin.\alpha = 0$$

d'où l'on tirera, en observant que $\sin.^2\alpha + \cos.^2\alpha = 1$:

$$R = \sqrt{X^2 + Y^2},$$

$$\text{Cos.}\,\alpha = \frac{X}{\sqrt{X^2 + Y^2}}, \quad \sin.\alpha = \frac{Y}{\sqrt{X^2 + Y^2}};$$

ce qui fera connaître la quantité de la résultante, et l'angle α que sa direction fait avec l'axe des abscisses.

On aura ensuite :

$$G - R\,(y\cos.\alpha - x\sin.\alpha) = 0,$$

ou bien, en mettant pour $R\cos.\alpha$ et $R\sin.\alpha$, leurs valeurs X et Y,

$$G - Xy + Y\,x = 0.$$

Comme on n'a qu'une équation pour déterminer les deux coordonnées x et y, on sera maître de prendre l'une ou l'autre à volonté. Supposant, par exemple, $x = 0$, auquel cas on demande l'ordonnée y de la résultante à l'origine, on aura :

$$y = \frac{G}{X};$$

Si l'on suppose $y = 0$, auquel cas on

cherche la distance x du point où la direction de la résultante coupe l'axe des abscisses, on aura :

$$x = \frac{-G}{Y}$$

On aura donc tout ce qu'il faudra pour déterminer la quantité et la position de la résultante de tant de forces que l'on voudra situées dans un même plan.

Si l'on n'a trouvé qu'une seule équation pour les deux coordonnées x et y du point d'application de la résultante, c'est que, cette résultante pouvant être appliquée à l'un quelconque des points de sa direction, il est impossible que le calcul donne l'un de ces points plutôt que l'autre. Il ne peut donc donner que leur lieu géométrique ; et l'équation précédente

$$G - Xy + Yx = 0,$$

est, à proprement parler, l'équation de la direction de la résultante.

Remarque.

94. Dans les trois questions I, II, III, que nous venons de traiter ci-dessus, toutes les forces étant ramenées à une seule R et à un

seul couple (S, —S), il y aura toujours une résultante unique, si la force R n'est pas nulle. Car, la force R et le couple (S, —S) seront toujours dans un même plan ou dans des plans parallèles, et par conséquent se composeront toujours en une seule force. Ainsi, la seule condition nécessaire pour que des forces parallèles, ou des forces situées dans un même plan aient une résultante unique, est que la résultante de ces forces transportées parallèlement à elles-mêmes en un point quelconque, ne soit pas nulle.

Si cette résultante est nulle, alors toutes les forces du système seront ramenées à un couple dont on connaîtra le plan et l'énergie, et l'on ne pourra leur faire équilibre qu'au moyen d'un couple équivalent et de sens inverse, situé dans le même plan ou dans tout autre plan parallèle.

Passons maintenant au cas le plus général.

IV.

Des conditions de l'équilibre entre tant de forces que l'on voudra, dirigées d'une manière quelconque dans l'espace.

Fig. 34. 95. Soient P', P'', P''', etc. les différentes forces. D'un point A pris arbitrairement dans

l'espace, menons trois axes quelconques AX, AY, AZ, qui ne soient pas dans un même plan, et décomposons chaque force en trois autres respectivement parallèles à ces axes.

Nommons X′, Y′, Z′, les trois composantes de P′; X″, Y″, Z″, les trois composantes de P″, et ainsi de suite. Nous aurons alors, au lieu des forces P′, P″, P‴, etc. appliquées au système, trois groupes de forces parallèles : le premier, composé des forces X′, X″, X‴, etc. parallèles à l'axe AX; le second, composé des forces Y′, Y″, Y‴, etc. parallèles à l'axe AY; et le troisième, composé des forces Z′, Z″, Z‴, etc. parallèles à l'axe AZ.

Cela posé : si l'on transporte toutes ces forces parallèlement à elles-mêmes au point A, celles du premier groupe iront se réunir dans l'axe AX, et s'y composeront en une seule X égale à leur somme; celles du second iront de même se réunir dans l'axe AY, et s'y composeront en une Y égale à leur somme; enfin celles du troisième se réuniront dans l'axe AZ, et s'y composeront en une seule Z égale à leur somme. Maintenant ces trois résultantes partielles X, Y, Z se composeront en une seule R appliquée en A, et représentée par la diagonale du parallélipipède construit sur les trois lignes

qui représenteraient ces forces en grandeurs et en directions.

Or, par la première condition générale de l'équilibre, il faut que cette résultante soit nulle d'elle-même. Mais les trois forces X, Y, Z, agissant suivant des lignes qui ne sont pas dans un même plan, ne peuvent jamais donner une résultante nulle, à moins qu'elles ne soient nulles, chacune en particulier (42); et par conséquent la condition $R = 0$, exige ces trois équations particulières, $X = 0$, $Y = 0$, $Z = 0$, c'est-à-dire :

$$X' + X'' + X''' + \text{etc.} = 0,$$
$$Y' + Y'' + Y''' + \text{etc.} = 0,$$
$$Z' + Z'' + Z''' + \text{etc.} = 0.$$

Ce qui nous apprend que pour l'équilibre de tant de forces que l'on voudra, appliquées d'une manière quelconque à un corps ou système de figure invariable, il faut d'abord ces trois conditions particulières : que *la somme des forces décomposées parallèlement à trois axes quelconques, soit nulle par rapport à chacun de ces axes.*

Par la seconde condition générale de l'équilibre, il faut que l'énergie résultante de toutes les énergies des couples formés par les forces

à l'égard du point A, soit aussi nulle d'elle-même. Développons maintenant cette seconde condition.

Soit B′ le point d'application de la force P′, et par conséquent le point d'application des trois composantes X′, Y′, Z′; nommons x', y', x', ses trois coordonnées A C, C H, H B′, par rapport aux trois axes A X, A Y, A Z. Nommons de même, x'', y'', z'', les trois coordonnées du point d'application B″ des trois composantes X″, Y″, Z″; et ainsi de suite.

Considérant d'abord le groupe des forces Z′, Z″, Z‴, etc. je remarque que la force Z′ appliquée en B′, a produit un couple (Z′, —Z′) appliqué sur A B′, ou bien (en concevant la force Z′ appliquée au point H où sa direction rencontre le plan Y A X) a produit un couple (Z′, —Z′) appliqué sur la diagonale A H d'un parallélogramme A C H D, dont les deux côtés A C, A D sont égaux aux coordonnées x' et y'. Or, ce couple peut se décomposer en deux autres composés de forces égales et parallèles aux premières, mais appliqués sur les deux côtés A C, A D ou x', y', dans les plans respectifs X A Z, Y A Z (58).

Si l'on fait la même décomposition de tous les couples provenans du groupe Z′, Z″, Z‴, etc. dans les deux plans parallèles à ce groupe; et les

décompositions semblables de tous ceux qui proviennent des deux autres groupes, par rapport aux deux plans analogues; il est manifeste que toutes les énergies du système seront réduites à d'autres situées dans les trois plans coordonnés.

Or, dans chaque plan, les énergies se réduiront à une seule égale à leur somme. Ces trois énergies résultantes partielles se composeront en une seule qui sera l'énergie résultante générale, et qui devra être nulle pour l'équilibre. Mais ces trois énergies étant situées dans trois plans qui forment un angle solide, ne peuvent jamais donner une énergie résultante nulle, à moins qu'elles ne soient nulles chacune en particulier (65). Donc, pour chacun des trois plans, la somme des momens des couples doit être nulle d'elle-même.

Mais, dans le plan Y A Z, on trouvera d'abord les couples

$(Z', -Z'), (Z'', -Z''), (Z''', -Z''')$, etc.,

appliqués sur les lignes respectives

y', y'', y''', etc.;

ensuite, les couples

$(Y', -Y'), (Y'', -Y''), (Y''', -Y''')$, etc.,

appliqués sur les lignes respectives

z', z'', z''', etc.:

Et comme l'axe A Y fait avec les directions

des forces Z', Z'', Z''', etc. des angles égaux entr'eux et à ceux que forme l'axe A Z avec les directions des forces Y', Y'', Y''', etc., on pourra prendre les produits $Z'y'$, etc. $Y'z'$, etc. pour momens, dans la mesure relative des énergies des couples situés dans le plan Y A Z. Donc, puisque leur somme doit être nulle, on aura (91).

$$Y'z' + Y''z'' + \text{etc.} - Z'y' - Z''y'' - \text{etc.} = 0$$

on trouvera de même pour les deux autres plans:

$$Z'x' + Z''x'' + \text{etc.} - X'z' - X''z'' - \text{etc.} = 0$$

$$X'y' + X''y'' + \text{etc.} - Y'x' - Y''x'' - \text{etc.} = 0$$

ce qui nous fait voir que pour l'équilibre du système, outre les trois équations trouvées ci-dessus, il nous en faut encore trois autres qui expriment, que *la somme des produits des composantes parallèles au plan de deux axes, par leurs coordonnées relatives au troisième axe, doit être nulle d'elle-même pour chacun des trois plans.*

96. Dans les équations précédentes on prendra les signes des coordonnées, comme en

Géométrie ; positives dans un même coin XAYZ, et négatives dans le coin opposé.

Parmi les forces, on regardera dans chaque groupe, comme positives celles qui tendent à augmenter les coordonnées de leurs points d'application ; comme négatives, celles qui tendent à les diminuer.

Remarque.

97. Si l'on trouvait que les six équations précédentes ont lieu par rapport à trois axes particuliers non situés dans le même plan, il y aurait équilibre dans le système ; et par conséquent, les mêmes équations auraient lieu par rapport à tous les axes possibles.

Corollaire.

98. Si les trois axes AX, AY, AZ, étaient rectangulaires entr'eux, les coordonnées deviendraient les bras de levier des couples, et les produits $Z'y'$, $Y'x'$, $X'z'$, etc. etc., les expressions absolues de leurs énergies.

De plus, en nommant α', β', γ', les trois angles que la direction de la force P' fait avec les trois axes respectifs AX, AY, AZ, ou plutôt

avec trois parallèles à ces axes, on aurait pour les trois composantes de P′ (45) :

$$X' = P' \cos.\alpha', \quad Y' = P' \cos.\beta', \quad Z' = P' \cos.\gamma' ;$$

En nommant de même α'', β'', γ'', etc. les angles analogues des directions des forces P″, etc. avec les mêmes axes, on aurait :

$$X'' = P'' \cos.\alpha'', \quad Y'' = P'' \cos.\beta'', \quad Z'' = P'' \cos.\gamma'', \text{ etc.}$$

et les équations précédentes deviendraient :

$$P' \cos.\alpha' + P'' \cos.\alpha'' + P''' \cos.\alpha''' + \text{etc.} = 0,$$
$$P' \cos.\beta + P'' \cos.\beta'' + P''' \cos.\beta''' + \text{etc.} = 0,$$
$$P' \cos\gamma' + P'' \cos.\gamma'' + P''' \cos.\gamma''' + \text{etc.} = 0,$$

$$P'(z' \cos.\beta' - y' \cos.\gamma') + P''(z'' \cos.\beta'' - y'' \cos.\gamma'')$$
$$+ P'''(z''' \cos.\beta''' - y''' \cos.\gamma''') + \text{etc.} = 0,$$

$$P'(x' \cos.\gamma' - z' \cos.\alpha') + P''(x'' \cos.\gamma'' - z'' \cos.\alpha'')$$
$$+ P'''(x''' \cos.\gamma''' - z''' \cos.\alpha''') + \text{etc.} = 0,$$

$$P'(y' \cos.\alpha' - x' \cos.\beta') + P''(y'' \cos.\alpha'' - x'' \cos.\beta'')$$
$$+ P'''(y''' \cos.\alpha''' - x''' \cos.\beta''') + \text{etc.} = 0.$$

99. C'est sous cette forme que l'on présente ordinairement les six équations de l'équilibre. Elles renferment d'une manière très-simple

équations de l'équilibre une forme plus simple, en y introduisant, à la place des coordonnées des points d'application, les plus courtes distances des directions des forces aux trois axes rectangulaires.

En effet, dans la première équation, à la place du terme $P'(z'\cos.\beta' - y'\cos.\gamma')$, qui exprime la somme des momens des deux forces $P'\cos.\beta'$, $P'\cos.\gamma'$, par rapport au point où leur plan irait couper l'axe des x, on peut en substituer un autre qui exprime le moment de leur résultante par rapport au même point (88).

Les deux forces $P'\cos.\beta'$, $P'\cos.\gamma'$, étant rectangulaires entr'elles, le carré de leur résultante est $P'^2\cos.^2\beta' + P'^2\cos.^2\gamma'$, ou $P'^2(\cos.^2\beta' + \cos.^2\gamma')$; ou bien, à cause de $\cos.^2\alpha' + \cos.^2\beta' + \cos.^2\gamma' = 1$, $P'^2(1 - \cos.^2\alpha')$, c'est-à-dire, $P'^2\sin.^2\alpha'$.

La résultante est donc $P'\sin.\alpha'$. La distance de cette résultante à l'axe des x étant nommée p', on aura pour son moment $P'p'\sin.\alpha'$, qui remplace le terme $P'(z'\cos.\beta' - y'\cos.\gamma')$; on aura de même $P''p''\sin.\alpha''$, etc. à la place des termes suivans de la première équation, en désignant par p'', etc. les distances respectives des résultantes analogues à la première, par rapport à l'axe des x.

La

La première équation sera donc mise sous cette forme :

$$P'p'\sin.\alpha' + P''p''\sin.\alpha'' + P'''p'''\sin.\alpha''' + \text{etc.} = 0$$

Or il est visible que p', p'', p''', etc. ne sont autre chose que les plus courtes distances des forces P', P'', P''', etc. à l'axe des x ; car la force $P'\sin.\alpha'$, qui est située dans un plan perpendiculaire à cet axe, étant composée avec la force $P'\cos.\alpha'$ perpendiculaire au même plan, devrait donner pour résultante la force P' qui est dans l'espace. La force $P'\sin.\alpha'$, n'est donc autre chose que la projection de la force P' sur un plan perpendiculaire à l'axe des x ; et par conséquent la plus courte distance p' de cette projection à l'axe des x, n'est autre chose que la plus courte distance de la force P' au même axe.

Si l'on désigne par q', q'', q''', etc. ; et par r', r'', r''', etc. les plus courtes distances des forces P', P'', P''', etc. aux axes respectifs des y et des z, on trouvera de même pour les deux autres équations :

$$P'q'\sin.\beta' + P''q''\sin.\beta'' + P'''q'''\sin.\beta''' + \text{etc.} = 0$$

$$P'r'\sin.\gamma' + P''r''\sin.\gamma'' + P'''r'''\sin.\gamma''' + \text{etc} = 0.$$

101. La projection d'une force sur un plan, multipliée par sa distance à un axe perpendi-

culaire au plan, est ce que l'on nomme ordinairement *le moment* de la force par rapport à l'axe; et de cette manière on énonce ainsi les trois équations précédentes de l'équilibre.

La somme des momens des forces doit être nulle par rapport à chacun des trois axes, dans le cas de l'équilibre.

Corollaire.

102. Si, dans les six équations de l'équilibre, on veut supposer que les forces P', P'', P''', etc. sont toutes parallèles, ou toutes situées dans un même plan, etc. etc., et qu'on mette à la place des coordonnées x', y', z', etc., et des angles α', β', γ', etc., les valeurs qui conviennent à ces suppositions, on retombera sur les équations d'équilibre précédemment trouvées pour ces différens cas, et l'on en tirera les mêmes conséquences.

103. Si l'on suppose que les directions des forces P', P'', P''', etc. concourent toutes au même point, et qu'on ait pris ce point pour l'origine des coordonnées, les cosinus des angles α', β', γ', etc. seront proportionnels aux coordonnées respectives x', y', z', etc. des points d'application; de sorte que l'on aura : $x' : y' :: \cos.\alpha' : \cos.\beta'$, $x' : z' :: \cos.\alpha' : \cos.\gamma'$, etc.

ou $\cos. \alpha' y' - \cos. \beta' x' = 0$,

$\cos. \gamma' x' - \cos. \alpha' z' = 0$, etc.

Les trois dernières équations de l'équilibre disparaîtront donc d'elles-mêmes; et l'on n'aura plus que les trois premières, qui nous font voir que pour l'équilibre d'un point libre sollicité par tant de forces que l'on voudra dans l'espace, il est nécessaire et il suffit que la somme des forces décomposées suivant trois axes passant par ce point, soit nulle par rapport à chacun de ces axes; et c'est ce que l'on savait d'ailleurs immédiatement.

Corollaire II.

Recherche de la résultante de toutes les forces P′, P″, P‴, *etc., lorsque ces forces ne sont pas en équilibre, et qu'elles sont susceptibles de se réduire à une seule.*

104. Supposons qu'il n'y ait point équilibre entre les forces P′, P″, P‴, etc.; et soit, s'il est possible, la force —R capable de leur faire équilibre, et par conséquent R leur résultante.

Les six équations précédentes devront avoir lieu en y faisant entrer la force —R.

Soient donc α, β, γ, les trois angles que forme la direction de la résultante avec les trois axes coordonnés. En faisant, pour abréger :

$$P' \cos.\alpha' + P'' \cos.\alpha'' + P''' \cos.\alpha''' + \text{etc.} = X$$
$$P' \cos.\beta' + P'' \cos.\beta'' + P''' \cos.\beta''' + \text{etc.} = Y$$
$$P' \cos.\gamma' + P'' \cos.\gamma'' + P''' \cos.\gamma''' + \text{etc.} = Z$$

on aura d'abord ces trois équations :

$$X - R \cos.\alpha = 0, \quad Y - R \cos.\beta = 0, \quad Z - R \cos.\gamma = 0,$$

d'où l'on tirera (en observant que $\cos.^2\alpha + \cos.^2\beta + \cos.^2\gamma = 1$),

$$R = \sqrt{X^2 + Y^2 + Z^2}$$

pour la quantité de la résultante. On aura ensuite, pour les angles α, β, γ, que sa direction fait avec les trois axes,

$$\text{Cos.}\alpha = \frac{X}{\sqrt{X^2 + Y^2 + Z^2}},$$
$$\text{Cos.}\beta = \frac{Y}{\sqrt{X^2 + Y^2 + Z^2}},$$
$$\text{Cos.}\gamma = \frac{Z}{\sqrt{X^2 + Y^2 + Z^2}},$$

En second lieu, nommant x, y, z, les trois coordonnées de l'un quelconque des points de cette direction, et faisant pour abréger :

$$P'(z' \cos.\beta' - y' \cos.\gamma') + P''(z'' \cos.\beta'' - y'' \cos.\gamma'') + P'''(z''' \cos.\beta''' - y''' \cos.\gamma''') + \text{etc.} = L$$

$$P'x' \cos.\gamma' - z' \cos.\alpha') + P''(x'' \cos.\gamma'' - z'' \cos.\alpha'') + P'''(x''' \cos.\gamma''' - z''' \cos.\alpha''') + \text{etc.} = M$$

$$P'(y'\cos.\alpha' - x'\cos.\beta') + P''(y''\cos.\alpha'' - x''\cos.\beta'') + P'''(y'''\cos.\alpha''' - x'''\cos.\beta''') + \text{etc.} = N$$

on aura :

$$\begin{aligned} L - R(z\cos.\beta - y\cos.\gamma) &= 0 \\ M - R(x\cos.\gamma - z\cos.\alpha) &= 0 \\ N - R(y\cos.\alpha - x\cos.\beta) &= 0 \end{aligned}$$

ou bien :

$$\begin{aligned} L - Yz + Zy &= 0 \\ M - Zx + Xz &= 0 \\ N - Xy + Yz &= 0 \end{aligned}$$

Or, si l'on élimine, entre ces trois équations, deux des inconnues x, y, z, on arrivera à cette équation :

$$XL + YM + ZN = 0$$

qui ne contient plus d'inconnue, et qui exprime la relation qui doit avoir lieu entre les résultantes partielles X, Y, Z, et les trois momens résultans partiels L, M, N, pour que les trois équations précédentes puissent subsister à la fois, et par conséquent pour que les forces du système puissent avoir une résultante.

$P' \cos.\alpha' + P'' \cos.\alpha'' +$ ... a lier ...
$P' \cos.\beta' + P'' \cos.\beta'' +$ ... z, se
$P' \cos.\gamma' + P'' \cos.\gamma'' +$ ... ve que
... el poin:

on aura d'abord ces ... s impos-

$X - R \cos.\alpha = o$, $Y - R$ ... points

d'où l'on tirera (en ... donner
$\cos.^2\beta + \cos.^2\gamma = 1$), ... équa-

$$R = \sqrt{X}$$

... se que les
pour la quantité de la ... ésultante
suite, pour les angles ... ent l'une
fait avec les trois axe ... ecessaire

$$\text{Cos.}\alpha = \frac{\quad}{V}$$

... ent parler
... indétermi-
$$\text{Cos.}\beta = \frac{\quad}{V}$$ ... elles doivent se

$$\text{Cos.}\gamma = \frac{\quad}{V}$$

... volonté l'une de
... déterminera alors
... les équations pré-

En second lieu, ... ple, $x = o$, auquel
coordonnées de l'u ... la direction de la
cette direction, et ... vertical Y A Z, on

$P'(z' \cos.\beta' - y' \cos.\gamma'$ ... données de ce point :
$+ P'''(z''' \cos.\beta''' - y'$

$P' x' \cos.\ldots' - z' \cos.\alpha$ $= \frac{-M}{X}$
$+ P'''(x''' \cos.\gamma''' -$

uppose, $y = o$, on aura :

$$x = \frac{-N}{Y}, \; z = \frac{L}{Y}.$$

sant $z = o$, on aura :

$$x = \frac{M}{Z}, \; y = \frac{-L}{Z}.$$

-à-dire, qu'en considérant le point où tion de la résultante coupe le plan de es, les distances respectives de ce point deux axes se trouvent en divisant les es respectives des momens des forces, par rt à ces axes, par la somme des forces es- s suivant le troisième.

n aura donc, d'après ce que nous venons ire, tout ce qu'il faudra pour déterminer antité de la résultante et sa position dans ace, si toutes les forces appliquées au sys- e sont susceptibles de se réduire à une seule; ela aura toujours lieu, si l'équation de dition, $XL + YM + ZN = o$, est satis- e, pourvu que les trois résultantes X, Y, Z, soient pas nulles à la fois. Car si ces trois es sont nulles, il est clair que les forces , P″, P‴, etc. seront réduites aux trois cou-

105. Si cette équation de condition a lieu, les valeurs des trois coordonnées x, y, z, se présenteront sous la forme de $\frac{0}{0}$, parce que la résultante pouvant être appliquée à tel point de sa direction qu'on le voudra, il est impossible que le calcul détermine l'un de ces points plutôt que tout autre. Il ne peut donc donner que leur lieu géométrique, et les trois équations précédentes ne sont autre chose que les équations des trois projections de la résultante sur les plans coordonnés. Par conséquent l'une de ces équations est une suite nécessaire des deux autres, et l'on n'a à proprement parler que deux équations entre les trois indéterminées x, y, z; d'où il suit qu'elles doivent se présenter sous la forme de $\frac{0}{0}$.

106. On se donnera donc à volonté l'une de ces trois quantités, et l'on déterminera alors les deux autres, au moyen des équations précédentes.

Si l'on suppose, par exemple, $x=o$, auquel cas on demande le point où la direction de la résultante traverse le plan vertical Y A Z, on aura pour les deux coordonnées de ce point :

$$y = \frac{N}{X}, \quad z = \frac{-M}{X}.$$

Si l'on suppose, $y = o$, on aura :

$$x = \frac{-N}{Y}, \; z = \frac{L}{Y}.$$

Supposant $z = o$, on aura :

$$x = \frac{M}{Z}, \; y = \frac{-L}{Z}.$$

C'est-à-dire, qu'en considérant le point où la direction de la résultante coupe le plan de deux axes, les distances respectives de ce point à ces deux axes se trouvent en divisant les sommes respectives des momens des forces, par rapport à ces axes, par la somme des forces estimées suivant le troisième.

On aura donc, d'après ce que nous venons de dire, tout ce qu'il faudra pour déterminer la quantité de la résultante et sa position dans l'espace, si toutes les forces appliquées au système sont susceptibles de se réduire à une seule; et cela aura toujours lieu, si l'équation de condition, $XL + YM + ZN = o$, est satisfaite, pourvu que les trois résultantes X, Y, Z, ne soient pas nulles à la fois. Car si ces trois forces sont nulles, il est clair que les forces P', P'', P''', etc. seront réduites aux trois cou-

ples représentés en énergies par L, M, N; lesquels ne peuvent jamais se réduire qu'à un autre couple.

C'est ce que le calcul précédent nous indiquerait d'ailleurs; car dans le cas de $X=0$, $Y=0$ et $Z=0$, la résultante R deviendrait nulle, et le point où sa direction doit rencontrer l'un quelconque des trois plans coordonnés, serait, par les équations ci-dessus, à une distance infinie de l'origine : ce qui fait voir qu'il n'y a plus alors de résultante unique.

107. Mais dans tous les cas, on pourra réduire toutes les forces appliquées au système à une seule passant par l'origine, et à un couple dont il sera facile de déterminer le plan et l'énergie.

En effet, on aura pour la résultante R des forces transportées à l'origine :

$$R = \sqrt{X^2 + Y^2 + Z^2},$$

et pour les trois angles α, β, γ, que sa direction forme avec les trois axes :

$$\text{Cos. } \alpha = \frac{X}{R}, \quad \text{cos. } \beta = \frac{Y}{R}, \quad \text{cos. } \gamma = \frac{Z}{R}.$$

En second lieu, L, M, N, représentant respectivement les énergies des trois couples

résultans, situés dans les trois plans perpendiculaires aux axes des x, y, z; si l'on nomme G l'énergie du couple résultant, on aura pour sa quantité :

$$G = \sqrt{L^2 + M^2 + N^2},$$

Et pour les angles λ, μ, ν, qu'une perpendiculaire au plan de ce couple, ou que l'*axe* du couple, forme avec les trois axes respectifs des x, y, z :

$$\text{Cos. } \lambda = \frac{L}{G}, \quad \text{cos. } \mu = \frac{M}{G}, \quad \text{cos. } \nu = \frac{N}{G};$$

Remarque.

108. Si l'on voulait exprimer directement que toutes les forces P', P'', P''', etc. ont une résultante unique, d'après ce que nous avons vu dans le premier chapitre, n°. (71), il faudrait exprimer que la résultante R et le couple résultant sont dans des plans parallèles, ou, ce qui est la même chose, que l'*axe* du couple est perpendiculaire à la direction de la résultante.

Or, α, β, γ, étant les trois angles de la direction de la force R, avec les trois axes des x, y, z; et λ, μ, ν, les angles analogues de l'*axe* du couple avec les trois mêmes axes,

on sait par la géométrie (*) que ces deux droites seront rectangulaires dans l'espace, si l'on a :

$$\text{Cos.}\alpha \cos.\lambda + \cos.\beta \cos.\mu + \cos.\gamma \cos.\nu = 0$$

Donc, en mettant à la place des cosinus leurs valeurs trouvées ci-dessus, et multipliant toute l'équation par RG, on aura :

$$XL + YM + ZN = 0,$$

comme nous l'avions trouvé plus haut.

Il faudrait exprimer ensuite que la force R n'est pas nulle ; ce qui donne :

$$\sqrt{X^2 + Y^2 + Z^2} > 0,$$

inégalité qui exige simplement que les trois forces X, Y, Z, ne soient pas nulles à la fois.

Ainsi ces conditions que le calcul nous avait offertes dans la recherche de la résultante générale, ne sont autre chose que l'expression de celles que nous avions trouvées directement dans le premier chapitre, pour que des forces quelconques qui ne se font pas équilibre, puissent toujours se composer en une seule.

(*) Voyez ci-après n°. 111.

109. Pour exprimer que des forces quelconques sont susceptibles de se réduire à une seule, on a donné trois équations dont la somme compose l'équation précédente $XL+YM+ZN=0$; mais ces trois équations sont à la fois insuffisantes et trop nombreuses ; elles peuvent avoir lieu toutes trois, sans qu'il y ait une résultante unique, et il peut y avoir une résultante unique, sans qu'elles aient lieu toutes trois, ni même aucune d'elles.

Cela paraît assez clairement à l'inspection même de ces équations, comparées aux deux conditions générales que nous venons de donner ; mais on peut encore s'en rendre compte en suivant le raisonnement d'après lequel on les trouve, et en examinant ce qu'elles signifient.

En effet, après avoir réduit toutes les forces appliquées au système à trois groupes de forces parallèles aux trois axes coordonnés, et ces trois groupes à trois résultantes partielles, parallèles aux mêmes axes, on suppose que ces trois forces doivent se rencontrer au même point, pour qu'elles puissent se composer en une seule; et pour cela, on exprime que les résultantes partielles prises deux à deux, sont à égales distances du plan qui leur est parallèle;

ce qui donne trois équations, au moyen desquelles les trois forces doivent en effet concourir au même point, et par conséquent se composer en une seule.

Mais, d'abord, on omet le cas où les trois groupes ne pourraient pas se réduire respectivement à de simples forces, mais se réduiraient à des couples : alors les trois résultantes étant nulles et à des distances infinies des plans, les trois équations de condition seraient satisfaites, et pourtant il n'y aurait pas de résultante unique, mais bien un couple résultant. Ainsi ces trois équations sont insuffisantes.

D'un autre côté, elles exigent trop ; car, en supposant que les trois groupes se réduisent à trois simples forces, on voit qu'il n'est pas nécessaire pour qu'elles puissent se composer en une seule, qu'elles se rencontrent toutes trois en un même point : il suffirait simplement que deux d'entr'elles se rencontrassent, et que la troisième allât rencontrer quelque part la direction de leur résultante ; mais cela même n'est pas nécessaire, et les trois résultantes partielles pourraient ne pas se rencontrer, c'est-à-dire, se trouver toutes trois dans des plans différens, et néanmoins se composer en une seule force.

Car, soient trois forces P, Q, R situées comme

on voudra dans l'espace. Transportons P et Q parallèlement à elles-mêmes en un même point A de la direction de la troisième force R. Les deux forces P et Q iront s'y composer en une seule V, et donneront deux couples qui se composeront en un seul. Actuellement, si la résultante des deux forces V et R appliquées en A, se trouvait parallèle au plan de ce couple, les trois forces proposées seraient réductibles à une seule (71). Or, sans changer la direction de la force R, on peut disposer du sens et de la grandeur de cette force, de manière que la résultante de V et R parcoure, autour du point A, tout le plan de ces deux forces, et par conséquent se tourne parallèlement au plan du couple. Donc, en prenant convenablement la grandeur et le sens de l'une des trois forces P, Q, R, sans rien changer à leurs positions mutuelles, on peut rendre ces trois forces réductibles à une seule.

Remarque.

110. Lorsque l'on a les trois équations $L=0$, $M=0$, $N=0$, le moment G du couple résultant est nul, et les forces appliquées au système se réduisent à une seule R dont la direction passe par l'origine.

Et comme le moment G ne peut être nul à moins que les trois momens résultans partiels

mais on a évidemment :

$$\frac{x}{d} = \cos.\alpha, \quad \frac{y'}{d} = \cos.\beta, \quad \frac{x}{d} = \cos.\gamma$$

et de même,

$$\frac{X}{D} = \cos.\lambda, \quad \frac{Y}{D} = \cos.\mu, \quad \frac{Z}{D} = \cos.\gamma$$

donc :

$$\text{Cos.}\,\theta = \cos.\alpha \cos.\lambda + \cos.\beta \cos.\mu + \cos.\gamma \cos.\nu.$$

Si l'on veut exprimer que les deux droites d et D sont rectangulaires entr'elles, il faut poser $\cos.\theta = 0$, et par conséquent :

$$\cos.\alpha \cos.\lambda + \cos.\beta \cos.\mu + \cos.\lambda \cos.\nu = 0,$$

ce que nous avions supposé au n°. 108.

112. Actuellement changeons les lettres λ, μ, ν en α', β', γ', et considérons une force R dirigée suivant la première droite. Cette force estimée suivant la seconde, ou projetée sur elle, donnera pour sa projection que je nomme R' ; $R' = R \cos.\theta$, et par conséquent,

$$R' = R\cos.\alpha\cos.\alpha' + R\cos.\beta\cos.\beta' + R\cos\gamma\cos.\gamma'.$$

Mais $R \cos.\alpha$, $R \cos.\beta$, $R \cos.\gamma$ expriment les trois

trois composantes de la force R suivant les trois axes; donc si l'on nomme X, Y, Z ces composantes, on aura plus simplement,

$$R' = X \cos. \alpha' + Y \cos. \beta' + Z \cos. \gamma'.$$

Ce qui nous fait voir que *pour estimer suivant une direction différente de la sienne, une force dont on connaît déjà les composantes suivant trois axes rectangulaires, on n'a qu'à prendre la somme de ces composantes multipliées respectivement par les cosinus des angles qu'elles forment avec la direction nouvelle.* C'est ainsi qu'en géométrie, pour projeter une ligne sur un axe quelconque, on peut d'abord projeter cette ligne sur trois axes rectangulaires; projeter ensuite ces trois projections sur l'axe donné, et ajouter ensemble ces projections de projections.

113. Pareillement, si l'on considère un couple dont le moment soit représenté par une partie G prise sur son axe, et que ce moment décomposé par rapport à trois axes rectangulaires donne les momens respectifs L, M, N, on voit, comme ci-dessus, que pour estimer le moment G par rapport à un axe nouveau qui forme avec les trois premiers, des angles

λ', μ', ν', il n'y a qu'à prendre la somme des momens composans L, M, N multipliés par les cosinus respectifs de ces angles, de sorte qu'en nommant G' la valeur relative du moment G, on aura :

$$G' = L \cos. \lambda' + M \cos. \mu' + N \cos. \nu'$$

ce qui donne le beau théorème dû à EULER, savoir : que *la somme des momens de tant de forces que l'on voudra par rapport à un axe quelconque, est égale aux sommes de leurs momens, par rapport à trois axes rectangulaires, multipliées respectivement par les cosinus des angles que ces trois axes font avec le nouvel axe donné.*

DES CONDITIONS DE L'ÉQUILIBRE

Lorsque le corps ou système sur lequel les forces agissent, n'est pas entièrement libre dans l'espace, mais se trouve gêné par des obstacles.

Nous allons examiner trois cas principaux auxquels il est facile de ramener tous les autres, comme on pourra le voir par la suite.

I.

De l'équilibre d'un corps qui n'a que la liberté de tourner en tous sens autour d'un point fixe.

Les six équations de l'équilibre d'un système libre sont, comme nous l'avons trouvé ci-dessus,

$$X=0,\quad Y=0,\quad Z=0$$

$$L=0,\quad M=0,\quad N=0.$$

114. Supposons maintenant qu'il y ait un point fixe dans le système, et qu'on l'ait pris pour l'origine des coordonnées. Il est clair qu'il pourrait alors y avoir équilibre sans que ces six équations fussent satisfaites; car, quoique le point fixe soit par lui-même incapable de produire le moindre effort, il peut néanmoins anéantir ceux des puissances dont la résultante irait y aboutir, et par là tenir lieu de nouvelles forces dans le système.

Mais, quelles que soient les forces dont un point fixe puisse tenir lieu par sa résistance, il est bien manifeste qu'elles doivent toutes passer par ce même point; que, par conséquent, on peut toujours les y concevoir comme composées en une seule, et imaginer ainsi à la place du

point fixe, une force unique r qui remplace sa résistance, et considérer alors le système comme parfaitement libre dans l'espace.

Les six équations précédentes devront donc avoir lieu si l'on y introduit la nouvelle force r.

Or cette force étant immédiatement appliquée à l'origine, fournira trois nouvelles composantes x, y, z, dans les trois axes, et ne fournira aucun couple nouveau dans les trois plans. Les six équations de l'équilibre seront donc :

$$X + x = o,\quad Y + y = o,\quad Z + z = o$$
$$L = o,\qquad M = o,\qquad N = o.$$

Les trois résultantes partielles X, Y, Z, pourront donc avoir telles valeurs qu'on voudra. Car, en supposant la résistance du point fixe indéfinie dans tous les sens, les trois forces x, y, z prendront telles valeurs et tels signes qu'on voudra, et, s'égalant toujours, en quelque sorte, aux trois forces contraires Y, X, Z appliquées au même point, rendront toujours les trois premières équations satisfaites.

Mais il faudra que les trois momens résultans partiels L, M, N soient toujours nuls d'eux-mêmes, ce qui nous fait voir que *pour l'équilibre d'un corps qui n'a que la liberté de*

tourner autour d'un point fixe, il est nécessaire, et il suffit que la somme des momens des forces par rapport à trois axes rectangulaires passant par ce point, soit nulle d'elle-même pour chacun de ces axes.

115. Lorsque toutes les forces appliquées au corps sont parallèles, on peut mener par le point fixe deux plans parallèles à leurs directions, et décomposer tous les couples dans ces deux plans. Il suffit donc alors pour l'équilibre du système, que la somme des momens soit nulle par rapport à deux axes perpendiculaires à ces plans.

Lorsque toutes les forces sont dans un même plan avec le point fixe, tous les couples formés à l'égard de ce point sont aussi dans ce plan; et il suffit alors que la somme des momens soit nulle par rapport à un seul axe perpendiculaire à ce plan.

Remarque.

116. Nous savons que les trois équations $L = 0$, $M = 0$, $N = 0$ qui assurent, dans le cas général, l'équilibre du système, expriment d'une autre manière (110) que les forces appliquées doivent avoir une résultante unique qui passe par le point fixe. Donc si l'on avait

voulu partir de cette conséquence comme principe, c'est-à-dire, regarder d'abord comme évident que les forces appliquées ne peuvent se faire équilibre autour du point fixe, à moins qu'elles n'aient une résultante unique dirigée vers ce point, on en aurait conclu réciproquement que l'on doit avoir pour l'équilibre, les trois équations $L = 0$, $M = 0$, $N = 0$; ce qui nous aurait conduits au même résultat.

Corollaire.

De la pression exercée par les forces sur le point fixe.

117. Quoique nous ayons supposé le point fixe susceptible d'une résistance indéfinie en tous sens, cependant lorsque des forces données se font actuellement équilibre autour de lui, il n'a besoin que d'une certaine résistance déterminée. Cette résistance actuelle, prise en sens contraire, est ce que l'on nomme *la pression* qu'il éprouve de la part des forces du système.

Ainsi, pour calculer cette pression on n'aura qu'à déterminer la force $-r$. Mais l'on a, par

les équations ci-dessus, pour ses trois composantes $-x$, $-y$, $-z$ dans les trois axes,

$$-x = X, \quad -y = Y, \quad -z = Z.$$

D'où il suit que *la pression est égale à la résultante de toutes les forces du système transportées parallèlement à elles-mêmes au point fixe.*

Et c'est ce qu'il était facile de reconnaître d'abord, car le point fixe ne pouvant être pressé que par les forces qui s'y sont transportées parallèlement à elles-mêmes, et par les couples qu'elles ont formés à l'égard de ce point, puisque ces couples doivent être en équilibre d'eux-mêmes, c'est-à-dire, seraient en équilibre quand bien même le corps serait entièrement libre, il s'ensuit qu'ils ne peuvent nullement charger le point fixe, et que par conséquent ce point n'est pressé que par la résultante des premières forces.

II.

De l'équilibre d'un corps qui n'a que la liberté de tourner autour de la ligne qui joint deux points fixes.

118. Soient A et B les deux points fixes. Fig. 35.
Prenons AB pour l'un des trois axes, pour

celui des abscisses, par exemple; et le point fixe A pour l'origine.

Quelles que soient les forces dont chacun des points fixes puisse tenir lieu par sa résistance, on peut toujours les concevoir comme réduites à deux forces r et r' immédiatement appliquées à ces points, et substituant ainsi, à la place des deux points A et B les deux forces respectives r et r' qui remplacent leurs résistances actuelles, considérer le système comme parfaitement libre dans l'espace.

Les six équations de l'équilibre auront donc lieu en y introduisant les deux nouvelles forces r et r'.

Or, la force r immédiatement appliquée à l'origine A, donnera trois composantes x, y, z dans les axes, et ne donnera aucun couple dans les plans.

La force r' appliquée en B donnera trois composantes x', y', z', la première dans l'axe des abscisses, les deux autres dans les plans respectifs X Y, X Z. La force x' qui tombe dans l'axe des abscisses, étant transportée à l'origine, donnera un couple nul; mais les deux forces y' et z' transportées à l'origine donneront deux couples, dans les plans respectifs X Y, X Z adjacens à l'axe de rotation; et les momens de

ces couples seront, (en faisant $AB = a$), $y'a$, $z'a$.

Les équations de l'équilibre seront donc :

$$X+x+x'=0,\ Y+y+y'=0,\ Z+z+z'=0,$$

$$L=0,\quad M-z'a=0,\ N+y'a=0.$$

Les cinq quantités X, Y, Z, M, N, pourront donc avoir telles valeurs qu'on voudra; car, en supposant la résistance des deux points fixes indéfinie en tous sens, les quantités x, y, z, x', y', z', auront telles valeurs et tels signes qu'on voudra, et les trois premières équations, ainsi que les deux dernières, seront toujours satisfaites.

Mais il faudra qu'on ait toujours pour les seules forces appliquées au système, l'équation $L=0$; ce qui nous apprend que *les conditions de l'équilibre d'un corps assujéti à tourner autour d'un axe fixe, se réduisent à ce que la somme des momens des forces estimés par rapport à cet axe, soit nulle d'elle-même.*

119. Si les deux points A et B n'étaient pas arrêtés en tous sens, mais pouvaient couler ensemble dans la direction AB, comme si on les supposait unis entr'eux, et renfermés dans un

Les deux forces $-Y'$, $-Z'$ perpendiculaires à l'axe de rotation au point B, se composeront de même en une seule $\sqrt{Y'^2+Z'^2}$ perpendiculaire au même axe, et qui fera avec les axes des y et z des angles dont les cosinus respectifs seront :

$$\frac{-Y'}{\sqrt{Y'^2+Z'^2}}, \quad \frac{-Z'}{\sqrt{Y'^2+Z'^2}}.$$

Ainsi les deux pressions normales à l'axe, aux points respectifs A et B seront nécessairement déterminées de grandeurs et de directions ; et par conséquent les pressions absolues $-r$ et $-r'$ n'auront que cette indétermination particulière, savoir : qu'on ne pourra les choisir que de telle sorte qu'étant décomposées chacune en deux autres, l'une dans l'axe et l'autre perpendiculaire à cet axe, les deux forces normales aient les valeurs et les directions que nous venons de donner, et les deux forces situées dans l'axe fassent une somme constante égale à X.

121. Pour voir à quoi tient cette indétermination, qui dépend de celle des deux résistances actuelles x, x' que les points fixes A et B doivent opposer dans le sens de la ligne qui les joint, on peut remarquer que ces deux points,

qu'on peut supposer unis par une verge inflexible; se prêtent un appui réciproque, de manière que chacun d'eux a toujours, ou par lui-même ou par le secours de l'autre, la résistance actuelle dont il a besoin pour l'équilibre, pourvu que la somme de ces résistances soit suffisante. On ne peut donc pas demander, et il est impossible que le calcul détermine des valeurs particulières, pour deux résistances qui, passant tacitement, en tout ou en partie, de l'un à l'autre point, se confondent en une seule et même résistance.

III.

De l'équilibre d'un corps qui s'appuie contre un plan inébranlable.

122. PRENONS ce plan pour celui des $x\ y$, que l'on nomme le plan horizontal; et supposant d'abord que le corps ne s'appuie contre ce plan que par un seul point A, regardons ce point d'appui comme l'origine des coordonnées.

Il est facile de voir que lorsqu'une force presse un point contre un plan, cette force peut toujours se concevoir comme décomposée en deux autres, l'une perpendiculaire au plan et l'autre située dans ce plan. La première est né-

même signe, la force Z ne peut être nulle). Les forces appliquées au système doivent donc avoir une résultante unique.

Les deux premières équations montrent que cette résultante doit être verticale, c'est-à-dire, perpendiculaire au plan fixe; et la troisième, $Z + z + z' =$ qu'elle peut avoir telle valeur qu'on voudra pourvu qu'elle ne soit pas positive.

Enfin, si l'on cherche les valeurs des deux coordonnées p et q du point O où sa direction doit rencontrer le plan horizontal comme on a (106):

$$p = \frac{M}{Z}, \quad q = \frac{-L}{Z},$$

en mettant à la place des quantités L, M, Z leurs valeurs tirées des équations précédentes, on aura:

$$p = a' \frac{z'}{z + z'}, \quad q = 0.$$

Donc, puisque l'on a $q = 0$, il faut que le point où elle rencontre le plan horizontal tombe sur la ligne des abscisses, c'est-à-dire, sur la ligne qui joint les deux points d'appui: et puisque l'on a $p = a' \frac{z'}{z + z'}$; à cause de $\frac{z'}{z + z'}$ toujours < 1, on a p toujours $< a'$, et par conséquent la

la direction de la résultante doit toujours tomber entre les deux points d'appui A et B.

124. Supposons enfin que le corps s'appuie contre le plan par tant de nouveaux points qu'on voudra, C, D, etc., qui soient tous placés d'un même côté à l'égard de la droite AB qui est toujours regardée comme l'axe des abscisses x. Conservant pour les deux points A et B, les dénominations précédentes, nommons a'' et b'' les deux coordonnées du point C; a''' et b''' celles du point D, et ainsi de suite. La résistance z'' du point C, étant transportée à l'origine donnera deux couples dans les plans verticaux XZ, YZ dont les momens seront: $z''a''$, $z''b''$; la résistance z''' du point D donnera de même deux couples dans les mêmes plans, et dont les momens seront: $z'''a'''$, $z'''b'''$; et ainsi de suite. Les équations de l'équilibre seront donc:

$$X = 0, Y = 0, Z + z + z' + z'' + z''' + \text{etc.} = 0$$

$$L - z'' b'' - z''' b''' - \text{etc.} = 0,$$

$$M + z' a' + z'' a'' + z''' a''' + \text{etc.} = 0, N = 0.$$

Ces équations nous font voir d'abord, comme dans l'article précédent, que toutes les forces

appliquées au système doivent se réduire à une seule, perpendiculaire au plan fixe, et dont la valeur ne soit pas positive.

En second lieu, je dis que sa direction doit rencontrer ce plan dans l'intérieur du polygone formé par les points d'appui A, B, C, D, etc.

En effet, si l'on nomme, comme ci-dessus, q l'ordonnée du point O, où cette résultante rencontre le plan horizontal, comme on a $q = \frac{-L}{Z}$, en mettant pour L et Z leurs valeurs tirées des équations précédentes, on aura

$$q = \frac{z''b'' + z'''b''' + \text{etc.}}{z + z' + z'' + z''' + \text{etc.}}$$

Or, les résistances z, z', z'', z''', etc. étant toutes positives, et les ordonnées b'', b''' etc. toutes de même signe, puisque les points C, D, etc. sont, par hypothèse, tous placés du même côté de l'axe des abscisses, il s'ensuit que l'ordonnée q sera de même signe que ces ordonnées, et que, par conséquent, le point O sera à l'égard de la ligne A B qui joint les deux points d'appui A et B, du même côté que les autres C, D, etc. Donc, puisqu'on aurait pu prendre pour l'axe des abscisses toute autre droite A C, B D, etc. qui, joignant deux points

d'appui, laisse tous les autres d'un même côté, on peut conclure que le point O doit se trouver à l'égard de chacune de ces lignes, du même côté que les autres points d'appui, et par conséquent doit tomber nécessairement dans l'intérieur du polygone formé par tous les points d'appui.

Corollaire.

Des pressions exercées par la résultante des forces du système sur les différens points d'appui.

125. Ces pressions, estimées en sens contraire, ne sont autre chose que les résistances z, z', z'', z''', etc. dont les points d'appui A, B, C, D, etc. ont actuellement besoin pour l'équilibre. On aura donc, pour les déterminer, les trois équations :

$$Z + z + z' + z'' + z''' + \text{etc.} = 0$$
$$L - b'' z'' - b''' z''' - \text{etc.} = 0$$
$$M + a' z' + a'' z'' + a''' z''' + \text{etc.} = 0.$$

Mais comme on n'a que ces trois équations, avec cette seule condition que les inconnues z, z', z'', z''', etc. doivent être toutes positives, il s'ensuit que les diverses pressions exer-

cées sur le plan demeurent indéterminées, lorsqu'il y a plus de trois appuis, et même lorsqu'il n'y en a que trois, s'ils tombent en ligne droite. Car, en supposant que le troisième point C tombe avec les deux autres A et B sur l'axe des abscisses, l'ordonnée b'' devient nulle, et l'inconnue z'' disparaissant d'elle-même dans l'équation $L - b'' z'' = o$, il ne reste plus que deux équations pour calculer les trois inconnues z, z', z'' qui sont encore indéterminées.

On pourra donc, dans ce cas, se donner à volonté l'une des pressions, et dans le cas général, se donner les pressions de tous les points d'appui, hors trois. On calculera ensuite les dernières pressions par les équations précédentes; et pourvu que, dans les différentes hypothèses que l'on fera, le calcul ne mène à aucune pression positive, le problème sera toujours bien résolu.

Remarque.

126. MAIS si nous trouvons, d'après les principes établis ci-dessus, que les pressions sont indéterminées lorsqu'il y a plus de trois points d'appui, d'un autre côté, en considérant *à priori* un corps appuyé contre un plan par un nombre quelconque de points, et tenu en équi-

libre par une force normale à ce plan, il nous paraît évident que chaque point de contact doit être actuellement pressé d'une manière tout-à-fait déterminée; et de là résulte une espèce de paradoxe qui ne paraît pas facile à expliquer.

Gardons-nous d'abord d'en conclure que la théorie connue jusqu'ici est insuffisante pour résoudre le problème en question; car nous allons voir que ce problème est indéterminé par l'hypothèse même que l'on a faite, et que la théorie donne tout ce qu'on peut demander sans se contredire.

En effet, si l'on fait attention qu'il s'agit, par hypothèse, d'un corps dont la figure est parfaitement invariable, on peut concevoir les points de contact de ce corps, comme unis entr'eux par un plan parfaitement inflexible, lequel repose sur les points fixes A, B, C, D, etc. Or, lorsqu'il y a plus de trois points d'appui, ou seulement trois quand ils tombent en ligne droite, il n'est pas difficile de voir que certaines parties des pressions qu'on supposerait exercées par le plan sur ces points, peuvent être imaginées comme se reportant indifféremment des uns aux autres, de manière qu'on ne puisse demander, ni ce qu'elles sont en elles-mêmes, ni sur quels points d'appui elles s'exercent de préférence, sans détruire l'hypothèse

de l'inflexibilité parfaite du plan qui unit les points du corps.

Fig. 56. Ainsi, pour nous faire mieux comprendre par un exemple, s'il s'agissait d'un corps qui s'appuyât par trois points en ligne droite, en considérant ces points comme liés entr'eux par une verge inflexible qui repose sur les trois points fixes A, B, C; quand bien même on saurait que cette verge est pressée perpendiculairement aux trois points respectifs A, B, C, par trois forces respectives P, Q, R, parallèles entr'elles, on ne serait pas en droit d'en conclure que les pressions exercées sur les points d'appui sont respectivement égales aux forces P, Q, R; car il serait toujours permis de concevoir dans les deux forces extrêmes P et Q, deux parties u et u' qui ne pressent point du tout sur les appuis A et C. Si l'on prend en effet ces deux parties dans la raison inverse de leurs distances AB et CB au point B, à cause de l'inflexibilité parfaite de la verge, on peut concevoir que ces deux forces vont presser actuellement le point d'appui B, conjointement avec la force Q; de sorte qu'il y a ici une pression indéterminée $u + u'$, qu'on peut supposer exister indifféremment, ou, toute entière en B, ou, en deux parties u et u' sur les points A et C, sans qu'on puisse dire ce

qu'elle est, ni où elle se trouve de préférence, à moins de détruire l'hypothèse de l'inflexibilité parfaite de la verge qui joint les points de contact du corps.

127. Au reste, cette indétermination singulière est du même genre que celle que nous avons observée et expliquée au n°. (121). Les pressions ou résistances actuelles dont les différens points d'appui ont besoin pour l'équilibre, ne sont indéterminées dans le cas où il y a plus de trois points d'appui, ou seulement trois, quand ils tombent en ligne droite, que parce qu'il y a alors des appuis intermédiaires qui peuvent prêter aux appuis placés de part et d'autre, certaines parties de leurs résistances, de manière que par la liaison parfaite de ces appuis, on ne peut plus distinguer leurs résistances individuelles d'avec celles qu'ils pourraient emprunter mutuellement les uns des autres.

Et la théorie nous fait voir que, pourvu que ces points aient des résistances individuelles qui satisfassent ensemble aux trois équations données ci-dessus, de quelqu'autre manière, permise par les mêmes équations, que l'on veuille répartir les forces de pressions sur ces différens points, chacun d'eux trouvera toujours, ou dans sa résistance propre, ou dans

cette résistance unie avec celle qu'il empruntera des autres points d'appui, la résistance actuelle dont il aura besoin pour détruire la pression qu'on lui suppose.

Il n'en est pas de même dans le cas de deux points d'appui, et dans celui de trois non en ligne droite : les résistances actuelles sont déterminées et doivent l'être ; car, chaque point d'appui se trouvant seul à côté de l'autre, ou, dans le second cas, à côté de la ligne qui joint les deux autres, il est visible qu'il ne peut avoir sa résistance propre, et ne pourrait pas en emprunter des appuis voisins, si elle n'était pas suffisante.

128. LE paradoxe que nous venons de résoudre est d'autant plus frappant, que dans la nature, les pressions exercées par les corps aux différens points de contact, sont nécessairement déterminées dans tous les cas, ce qui serait absurde autrement.

Tous les corps sont plus ou moins flexibles et élastiques ; et lorsqu'ils sont pressés les uns contre les autres par différens points situés dans le même plan, la pression totale se distribue d'une manière particulière en vertu de ces propriétés physiques, et des trois conditions données ci-dessus (125), auxquelles les pressions individuelles doivent toujours satisfaire : mais

il faudrait savoir tenir compte de ces propriétés, pour trouver en tout autant d'équations qu'il y a de points de contact, et connaître par-là les diverses pressions; et c'est une question très-délicate de physique, que nous ne chercherons pas à discuter ici.

129. Ce que nous avons dit sur l'équilibre d'un corps qui s'appuie contre un seul plan, peut s'appliquer aisément à un corps qui s'appuyerait contre plusieurs plans à la fois. Chacun de ces plans fera naître aux différens points de contact autant de résistances normales à sa surface: en introduisant dans les six équations de l'équilibre ces nouvelles forces indéterminées, on parviendra facilement aux conditions que doivent remplir les forces immédiatement appliquées.

130 Si le corps s'appuie en différens points contre une ou plusieurs surfaces courbes quelconques, on pourra supposer qu'il s'appuie sur les plans tangens menés aux surfaces en ces points. Ainsi, connaissant les équations de ces surfaces, on cherchera celles des plans tangens, ou des normales aux divers points de contact: on introduira dans les équations de l'équilibre autant de forces indéterminées, dirigées suivant ces normales, et le problème reviendra au précédent.

CHAPITRE III.

DES CENTRES DE GRAVITÉ.

131. JUSQU'A présent nous avons fait abstraction de la pesanteur des corps; nous allons voir ici comment on peut avoir égard à cette propriété générale de la matière, afin d'appliquer les principes établis ci-dessus, à l'équilibre des corps tels qu'ils sont dans la nature.

I.

ON nomme *pesanteur* ou *gravité*, cette cause inconnue qui fait descendre les corps vers la terre, lorsqu'ils sont abandonnés à eux-mêmes.

La pesanteur étant une cause de mouvement, on peut la considérer comme une force.

Cette force pénètre les parties les plus intimes des corps, et agit également sur toutes leurs molécules; car l'expérience prouve que, dans le vide, des corps quelconques de masses inégales, une balle de plomb, par exemple, et le duvet le plus léger, tombent de la même hauteur avec la même vitesse; d'où l'on doit

conclure que les molécules d'un corps qui tombe, descendent toutes de la même manière que si elles étaient simplement contiguës, sans être liées les unes aux autres. Ainsi l'action de la pesanteur s'exerce sur toutes les molécules d'un corps, et se fait sentir également à chacune d'elles.

Cependant l'intensité de la pesanteur n'est pas rigoureusement la même pour une même molécule placée dans deux lieux différens par rapport au globe terrestre : elle varie à la surface de la terre, depuis l'équateur où elle est la plus petite, jusqu'au pôle où elle est la plus grande : de plus, elle diminue à la même distance de l'équateur, à mesure que la molécule s'éloigne davantage du centre de la terre ; et l'on sait qu'elle décroît toujours dans le même rapport que le carré de cet éloignement augmente. Mais pour les molécules des corps que l'on considère ordinairement en Statique, il n'y a pas assez de différence entre leurs distances à l'équateur, ou au centre de la terre, pour que les variations de la pesanteur y soient sensibles. Ainsi l'on est autorisé à regarder la pesanteur comme une force constante.

La direction de la pesanteur est fort bien représentée par celle d'un fil à plomb en équi-

libre, ou par la perpendiculaire à la surface des eaux tranquilles.

Cette direction dans le lieu que l'on considère, se nomme la *verticale*, et tout plan perpendiculaire à la verticale se nomme plan *horizontal*.

La surface de la terre, ou plutôt celle des mers, étant à-peu-près sphérique, les directions de la pesanteur vont à-peu-près concourir au centre du globe. Ainsi, à mesure que l'on chemine sur la terre, la verticale change, aussi bien que le plan horizontal : mais comme les distances dont il s'agit ordinairement dans la Statique, sont très-petites à l'égard du rayon de la terre qui a près de 1500 lieues, les directions de deux verticales peu éloignées, qui vont à-peu-près concourir à cette distance, peuvent être regardées comme parallèles, sans erreur sensible.

Nous considérerons donc toutes les molécules égales d'un corps pesant, comme sollicitées par de petites forces égales, parallèles et de même sens ; et nous pourrons appliquer aux forces qui proviennent de la gravité, tout ce que nous avons dit des forces parallèles, appliquées à un assemblage de points liés entre eux d'une manière invariable.

132. Et d'abord nous en conclurons que *la résultante de toutes les forces parallèles de la pesanteur, leur est parallèle, c'est-à-dire, est verticale.*

En second lieu, qu'*elle est égale à leur somme.*

La quantité de cette résultante est ce que l'on nomme *le poids* du corps; d'où l'on voit que le poids d'un corps est proportionnel au nombre des molécules qui le composent, ou à la quantité de matière qu'il renferme, et que l'on nomme sa *masse*. Ainsi l'on distinguera le mot de *pesanteur* ou *gravité*, d'avec celui de *poids*. La pesanteur désigne, comme nous l'avons dit, la cause qui attire les corps vers la terre; mais le poids désigne la force particulière qui en résulte pour chacun d'eux; force qui est proportionnelle à leur masse, et égale à l'effort qu'il faudrait employer pour les soutenir.

133. En troisième lieu, comme nous avons vu que les forces parallèles, appliquées à différens points, ont un *centre*, c'est-à-dire, un point unique par lequel passent continuellement leurs résultantes successives, lorsque l'on incline successivement tout le groupe de ces forces dans diverses positions, il s'ensuit qu'il existe tou-

jours pour un corps pesant un point unique par lequel passe continuellement la direction du poids, lorsque l'on tourne successivement le corps dans diverses positions à l'égard du plan horizontal. En effet, dans les diverses situations qu'on lui donne, les forces de la pesanteur qui animent toutes les molécules, ne cessent pas d'être les mêmes, d'agir aux mêmes points, et d'être parallèles ; et par conséquent leurs résultantes successives ne cessent pas de se couper en un même point.

Ce point unique par lequel passe toujours la direction du poids, quelle que soit la position du corps à l'égard du plan horizontal, se nomme le *centre de gravité.*

134. Si le centre de gravité d'un corps est fixe, il est clair que ce corps sera en équilibre autour de lui dans toutes les situations ; c'est-à-dire, que si, le faisant tourner autour de ce point, on l'amène dans une situation quelconque, et qu'on l'y laisse, le corps y demeurera : car dans toutes ces positions, la résultante des forces de la pesanteur passera toujours par le même point fixe, et son effet sera détruit. C'est pour cela que plusieurs Auteurs ont défini le centre de gravité un point tel, que, s'il était fixé, le corps demeurerait en équilibre dans

toutes les positions possibles autour de lui ; mais il est plus convenable de faire voir *à priori* qu'il y a toujours pour chaque corps un tel point, et par conséquent de montrer qu'il y a un centre de gravité, avant de définir le centre de gravité lui-même.

135. Puisque le centre de gravité d'un corps n'est autre chose que le centre des forces parallèles de la pesanteur, appliquées à toutes les molécules de ce corps, comme toutes ces forces sont supposées égales, il suit de l'article (85), que *la distance du centre de gravité à un plan quelconque, est égale à la moyenne distance de toutes les molécules du corps au même plan.* Par conséquent la position de ce centre dans les corps ne dépend nullement de la gravité, mais seulement de la manière dont toutes les molécules sont disposées les unes à l'égard des autres.

Aussi quelques Géomètres ont-ils cru plus convenable de nommer le centre de gravité, le *centre de masse*, ou le *centre de figure* ; mais nous conserverons ici l'autre dénomination comme étant plus usitée, et comme rappelant mieux l'usage que l'on fait de ce point dans la Statique.

136. Comme on peut toujours concevoir qu'à

toutes les forces de la pesanteur qui animent les molécules d'un corps, on ait substitué leur résultante générale qui produit absolument le même effet, on peut considérer le centre de gravité d'un corps comme un point où toute la masse de ce corps est réunie et concentrée. Ainsi, dans la solution des problèmes, si l'on veut avoir égard à la pesanteur, on pourra regarder chaque corps comme réduit à son centre de gravité, qu'on supposera sollicité par une force égale et parallèle à son poids : et combinant ensuite ces nouvelles forces avec celles qui sont immédiatement appliquées au système, on trouvera les conditions de l'équilibre d'après les principes donnés dans les Chapitres précédens, comme si tous les corps du système étaient dépourvus de pesanteur.

Il ne s'agit donc plus actuellement que de savoir déterminer les centres de gravité des différens corps, ou assemblages de corps qui peuvent se présenter.

137. Lorsqu'on peut considérer le corps ou le système comme composé de parties dont on connaît en particulier les centres de gravité et les poids respectifs, il est très-facile de déterminer le centre de gravité de ce corps ou système.

Car

Car ce centre n'étant autre chose que le point d'application de la résultante générale des forces de la pesanteur appliquées à toutes les molécules, on peut concevoir que, pour le déterminer, on a d'abord cherché les points respectifs où sont appliquées les résultantes partielles des forces qui agissent sur chaque corps, et qu'ensuite on a cherché le point d'application de la résultante générale de ces diverses résultantes.

Donc, si l'on connaît déjà les centres de gravité respectifs des différens corps, l'on n'aura qu'à supposer appliquées à ces points des forces parallèles, et respectivement égales aux poids de ces corps, et l'on trouvera le centre de gravité du système absolument de la même manière que l'on trouverait le centre de ces forces parallèles.

On pourra donc employer dans cette recherche, ou la composition successive des forces, comme au n°. (29), ou la théorie des momens, comme au n°. (84).

Et puisque la distance du centre des forces parallèles à un plan se trouve en divisant la somme des momens des forces, pris par rapport au plan, par la somme de toutes les forces, il s'ensuit :

Que *la distance du centre de gravité d'un système quelconque de corps, à un plan, est*

égale à la somme des momens de leurs poids, par rapport au plan, divisée par la somme de tous les poids : ou, comme les masses sont proportionnelles aux poids, *égale à la somme des momens des masses, divisée par la somme de toutes les masses*, en entendant par le moment d'une masse, le produit de cette masse par la distance de son centre de gravité au plan que l'on considère.

En calculant ainsi les distances du centre de gravité à trois plans quelconques, qu'on pourra supposer rectangulaires entr'eux, pour plus de simplicité, on trouvera facilement la position de ce point dans l'espace.

138. Dans le cas où toutes les masses du système sont égales, on trouve sur-le-champ la distance du centre de gravité à un plan quelconque, en prenant la moyenne distance des centres de gravité de tous les corps à ce plan.

139. Lorsque le plan par rapport auquel on estime les momens, passe par le centre de gravité du système, la distance de ce centre au plan est nulle; et par conséquent *la somme des momens des masses, pris par rapport à un plan qui passe par le centre de gravité du système, est toujours égale à zéro.*

C'est-à-dire, que la somme des momens des masses qui sont d'un même côté du plan, est égale à la somme des momens des masses qui sont de l'autre côté.

Et réciproquement, *lorsque la somme des momens des masses, par rapport à un plan, est égale à zéro, le centre de gravité du système est dans ce plan.*

Car la distance de ce centre au plan est nulle.

140. Il résulte de là que si les centres de gravité de tous les corps que l'on considère, sont dans un même plan, le centre de gravité du système sera aussi dans ce plan; et que si les centres de gravité des corps sont sur une même ligne droite, le centre de gravité sera aussi sur cette droite.

Car, dans le premier cas, tous les corps ayant leurs centres de gravité dans un même plan, les momens de leurs masses par rapport à ce plan, sont tous nuls; la distance du centre de gravité du système à ce plan, est donc nulle aussi; et par conséquent ce centre est dans le plan même.

Dans le second cas, tous les centres de gravité étant en ligne droite, si l'on fait passer deux plans quelconques par cette droite, les centres de gravité des différens corps seront à la fois

dans ces deux plans. Le centre de gravité du système y sera donc aussi, et par conséquent ne pourra se trouver que dans leur intersection, qui est la droite proposée.

Au reste, les deux dernières conséquences que nous venons d'énoncer paraîtront évidentes d'elles-mêmes, en se représentant que l'on cherche le centre de gravité du système par la composition successive des forces ou poids appliqués aux centres de gravité respectifs des différens corps.

141. Lorsque tous les centres de gravité des corps sont dans un même plan, comme le centre de gravité du système se trouve déjà dans un plan connu, il suffit pour déterminer sa position, de chercher ses distances à deux autres plans. Or si on les prend, pour plus de simplicité, tous deux perpendiculaires sur le premier, les distances des différens centres de gravité à ces deux plans seront les mêmes que leurs distances aux traces de ces plans sur le premier.

Donc, *si dans le plan qui contient les centres de gravité de différens corps, on tire deux droites ou axes quelconques non parallèles, on aura les distances respectives du centre de gravité du système à ces deux droites, en di-*

visant les sommes respectives des momens de toutes les masses, par rapport à ces droites; par la somme de toutes les masses.

(Ayant soin de regarder pour chaque droite, comme positifs tous les momens des masses qui sont d'un même côté de cette ligne, et comme négatifs les momens de celles qui sont de l'autre côté).

On trouvera de cette manière à quelles distances et de quels côtés le centre de gravité du système est placé à l'égard de ces deux axes, et menant alors, aux deux distances trouvées, deux parallèles à ces axes, le centre de gravité sera à leur intersection même.

142. Lorsque les centres de gravité de tous les corps sont en ligne droite, comme le centre de gravité du système se trouve déjà sur une ligne connue, il suffit, pour le déterminer, de chercher sa distance à un seul plan. Or si on le prend, pour plus de simplicité, perpendiculaire sur la ligne des centres, les distances des centres de gravité respectifs à ce plan seront les mêmes que leurs distances au point où le plan coupe la ligne.

Donc, *lorsque plusieurs corps ont leurs centres de gravité respectifs sur une même droite, la distance du centre de gravité du*

système, à un point quelconque pris sur cette droite, est égale à la somme des momens des masses, par rapport à ce point, divisée par la somme de toutes les masses.

(En prenant avec un même signe tous les momens des masses qui sont d'un même côté à l'égard du point, et avec le signe contraire, les momens de celles qui se trouvent de l'autre côté).

On saura alors à quelle distance, et de quel côté le centre de gravité du système est placé à l'égard du point que l'on a choisi; et si l'on porte ensuite de ce côté, et à partir du point, une longueur égale à la distance trouvée, l'extrémité de cette longueur marquera sur la ligne le centre de gravité lui-même.

143. On voit donc combien il est facile de trouver le centre de gravité d'un corps ou système, lorsqu'on connaît ceux des différens corps qui le composent; il nous reste à voir comment on obtiendrait les centres de gravité des corps qui ne seraient pas susceptibles d'une pareille décomposition.

A la vérité, comme on peut toujours regarder un corps comme un assemblage de points matériels qui sont eux-mêmes leurs propres centres de gravité, il s'ensuit qu'on peut leur appliquer la

méthode précédente, et qu'on aura généralement la distance du centre de gravité d'un corps quelconque à un plan, en prenant la somme des momens de toutes les particules de ce corps par rapport au plan, et divisant par la somme de ces particules, ou, ce qui est la même chose, en divisant par la masse totale du corps. Mais la solution générale de cette question dépend du calcul intégral; et l'on en peut voir dans presque tous les traités de Méchanique des applications très-simples, et qui n'ont d'autres difficultés que celles du calcul intégral lui-même.

Cependant, comme il existe des considérations élémentaires très-élégantes qui conduisent à la détermination des centres de gravité pour la plupart des corps dont il est question dans la Géométrie, nous nous bornerons à cette recherche, qui remplit l'objet que nous avons en vue, celui de ne pas sortir des *élémens*.

144. D'après ce que nous avons dit (135), la position du centre de gravité dans un corps ne dépend que de la manière dont toutes les molécules de ce corps sont disposées les unes à l'égard des autres. Elle dépend donc de deux choses : 1°. de la figure du corps, ou de celle de l'espace qu'il occupe; 2°. de la densité relative de ses différentes parties. On voit bien, en effet, que

si la figure et le volume restant les mêmes, les molécules viennent à s'écarter les unes des autres dans une certaine partie du corps, de manière qu'elles se rapprochent davantage dans une autre, les forces qui agissent sur elles n'étant plus réparties de la même manière, la position de la résultante générale changera, et par conséquent celle du centre de gravité du corps. Ainsi, dans la détermination de ce point, il faudrait avoir égard, non seulement à la figure du corps, mais encore à la loi suivant laquelle la densité varie dans toute son étendue.

Mais si, pour résoudre plus simplement la question, on suppose d'abord les corps parfaitement homogènes, ou uniformément denses en tous leurs points, la position du centre de gravité ne dépendra plus que de la figure, et la recherche des centres de gravité deviendra un simple problème de géométrie.

C'est dans cette hypothèse de corps parfaitement homogènes, que l'on détermine ordinairement les centres de gravité des lignes, des surfaces et des solides qui sont soumis à une description rigoureuse, et que l'on regarde comme doués d'une pesanteur uniforme en tous leurs points; et quoique ce problème puisse paraître, au premier coup-d'œil, de pure spéculation, il est facile de voir qu'il est, en Sta-

tique, ce que la quadrature des aires, ou la cubature des solides est en Géométrie. Comme les résultats que la Géométrie nous donne sont d'autant plus exacts dans l'application que les figures sont plus semblables à celles que la Géométrie suppose, ainsi dans la détermination des centres de gravité, on trouvera ces points d'autant plus près des lieux que la théorie leur assigne, que les corps seront d'une substance plus homogène, plus uniformément répandue, et terminée par des surfaces plus parfaites.

II.

DES CENTRES DE GRAVITÉS DES FIGURES.

Lemme.

145. *Toute figure dans laquelle il se trouve un point tel qu'un plan quelconque mené par ce point, coupe la figure en deux parties parfaitement symétriques, a son centre de gravité en ce point, que l'on nomme ordinairement* le centre de figure.

En effet, si l'on fait passer un plan quelconque par le centre de la figure, comme ce plan la coupe en deux parties parfaitement symé-

triques, il n'y a pas de raison pour que le centre de gravité, qui est un point unique, et dont la position ne dépend que de la figure, se trouve d'un côté de ce plan plutôt que de l'autre; donc il sera dans ce plan. Le centre de gravité devant donc se trouver à la fois dans tous les plans que l'on pourrait conduire par le centre de figure, sera en ce point même qui est la commune intersection de tous ces plans.

146. Il résulte de là : 1°. que le centre de gravité d'une ligne droite est au milieu de sa longueur.

2°. Que le centre de gravité de l'aire d'un parallélogramme quelconque est à l'intersection de ses deux diagonales, ou au milieu de l'une d'elles.

3°. Que le centre de gravité de la solidité d'un parallélipipède est à l'intersection de ses quatre diagonales, ou au milieu de l'une d'elles.

On pourrait encore en conclure que le centre de gravité du contour ou de l'aire d'un cercle est au centre de ce cercle; que le centre de gravité de la surface ou de la solidité d'une sphère est au centre de cette sphère; que celui de la surface ou de la solidité d'un cylindre à bases parallèles est au milieu de son axe, etc.

Mais on remarquera surtout les trois premiers

corollaires sur les centres de gravité de la ligne droite, du parallélogramme et du parallélipipède, parce que l'on peut regarder ces figures comme les élémens de toutes les autres.

Problème I.

147. *Trouver le centre de gravité du contour d'un polygone quelconque, et en général d'un assemblage de droites disposées comme on voudra dans l'espace.*

On regardera chaque droite comme concentrée en son centre de gravité, lequel est au milieu de sa longueur; et l'on n'aura plus à considérer qu'un assemblage de points représentés pour leurs poids respectifs par les longueurs des lignes dont ils sont les centres de gravité.

On trouvera donc le centre de gravité du système par la composition successive de ces poids, ou par la théorie des momens, comme il a été dit plus haut.

148. On pourra souvent par des considérations particulières déterminer les centres de gravité plus facilement que par la méthode générale.

S'il s'agit, par exemple, de trouver le centre de gravité du contour d'un triangle, on n'aura qu'à joindre les milieux des trois côtés par trois lignes, ce qui formera un triangle semblable au triangle proposé; et partageant les angles de ce triangle en deux parties égales par des droites, ces droites se couperont au centre de gravité cherché.

C'est-à-dire, que le centre de gravité du contour d'un triangle n'est autre chose que le centre du cercle inscrit au triangle formé par les lignes qui joignent les milieux des trois côtés.

Problème II.

149. *Trouver le centre de gravité de l'aire d'un polygone quelconque, et en général d'un assemblage de figures planes et rectilignes disposées comme on voudra dans l'espace.*

Tous les polygones pouvant se décomposer en triangles, nous allons voir d'abord comment on trouve le centre de gravité d'un triangle quelconque. Après quoi prenant les centres de gravité de tous les triangles qui composent le système proposé, nous n'aurons plus à considérer qu'un assemblage de points donnés de position, et dont les poids respectifs seront re-

présentés par les aires des triangles dont ils sont les centres de gravité; et le problème se résoudra comme le précédent.

Du centre de gravité du triangle.

150. Soit A B C le triangle proposé: considérons sa surface comme composée d'une infinité de tranches parallèles à la base B C. Il est visible que la ligne droite A D menée du sommet A au milieu D de la base, divisera toutes ces tranches en deux parties égales. Leurs centres de gravité respectifs seront donc tous sur la droite A D, et par conséquent celui de leur système, c'est-à-dire, celui du triangle, y sera aussi. Fig. 87.

Par un raisonnement tout-à-fait semblable, on ferait voir que le centre de gravité du triangle doit aussi se trouver sur la ligne B E qui serait menée du sommet de l'angle B au milieu E du côté opposé A C.

Le centre de gravité devant donc se trouver à la fois sur les deux lignes A D, B E sera nécessairement à leur intersection G.

Mais si l'on joint D E, puisque les points D et E sont les milieux respectifs des côtés C B, C A, la droite D E sera parallèle à A B et en sera la moitié. Or, si D E est moitié de A B, à cause des triangles semblables D G E, A G B,

le côté D G sera aussi moitié de son homologue A G.

Donc, D G sera le tiers de A D; et A G en sera les deux tiers.

Donc, *le centre de gravité de l'aire d'un triangle quelconque est situé sur une ligne menée de l'un quelconque des trois angles au milieu de la base opposée, et se trouve au tiers de cette ligne à partir de la base, ou aux deux tiers à partir du sommet de l'angle.*

La démonstration précédente est si naturelle et si simple que nous n'avons pas cru devoir l'omettre ici; on pourrait lui donner toute la rigueur possible au moyen de cette méthode connue, dont les exemples sont si multipliés dans les élémens de Géométrie; mais le lecteur peut y suppléer.

Au reste, voici une démonstration nouvelle qui ne laisse rien à désirer du côté de l'exactitude.

Fig. 38. 151. Par le milieu D de la base B C du triangle A B C, menez aux deux autres côtés les parallèles D E, D F qui les rencontrent en E et F : le triangle proposé sera décomposé en un parallélogramme A E D F et deux triangles D E C, D F B, parfaitement égaux entr'eux, et semblables au premier.

Le moment du triangle ABC par rapport à une ligne quelconque menée dans son plan sera donc égal à la somme des momens du parallélogramme et des deux triangles.

Soit a l'aire de l'un de ces triangles, $4a$ sera celle du triangle proposé. Donc si l'on nomme x la distance du centre de gravité de ce triangle à la base BC, on aura $4ax$ pour son moment par rapport à cette ligne.

Soit h la hauteur du triangle ; $\frac{h}{2}$ sera la distance du centre de gravité du parallélogramme à la base, et comme son aire est $2a$, son moment sera $2a \times \frac{h}{2}$, c'est-à-dire, ah.

Ensuite les deux triangles BFD, DEC ont visiblement leurs centres de gravité à même distance de la base BC; donc si l'on nomme x' cette distance, la somme de leurs momens sera $2ax'$.

On aura donc $4ax = ah + 2ax'$, ou bien, en divisant par $4a$:

$$x = \frac{1}{4}.h + \frac{x'}{2}.$$

Si l'on supposait que, dans les triangles semblables, les centres de gravité sont des points

semblablement placés ; alors, comme les dimensions du triangle B F D ou D E C sont moitiés de celles du triangle A B C, on aurait $x' = \frac{x}{2}$; et substituant dans l'équation précédente, on trouverait :

$$x = \frac{h}{3}.$$

Ce qui ferait voir que le centre de gravité d'un triangle se trouve placé au-dessus de chaque côté, à une distance égale au tiers de la hauteur de l'angle opposé ; et que par conséquent, il est au point déterminé ci-dessus.

Mais on peut parvenir à cette conclusion sans aucune hypothèse ; car puisque l'on a trouvé pour le triangle A B C,

$$x = \frac{1}{4} h. + \frac{x'}{2},$$

x étant la distance de son centre de gravité à la base B C, et x' la distance du centre de gravité du triangle B F D à sa base B D ; en imaginant que l'on fasse dans le triangle B F D, la même construction que l'on a faite dans le triangle A B C, si l'on nomme x'' la distance analogue

à

à celle qu'on a nommée x', et si l'on observe que la hauteur du nouveau triangle est deux fois plus petite que celle du premier, on aura :

$$x' = \frac{1}{4} \cdot \frac{h}{2} + \frac{x''}{2}$$

Et continuant la même construction, on trouvera :

$$x'' = \frac{1}{4} \cdot \frac{h}{4} + \frac{x'''}{2}$$

$$x''' = \frac{1}{4} \cdot \frac{h}{8} + \frac{x^{IV}}{2}, \text{ etc. etc.}$$

x''', x^{IV}, etc. désignant les distances des centres de gravité à la base dans les triangles successifs, distances qui diminuent sans cesse, et dont la dernière peut être rendue moindre que toute grandeur donnée, puisqu'elle est toujours plus petite que la hauteur du triangle dans lequel on la considère.

On aura donc, en substituant successivement dans la première équation à la place de x', x'', x''', etc. leurs valeurs ;

$$x = \frac{h}{4} + \frac{h}{4 \cdot 4} + \frac{h}{4 \cdot 4 \cdot 4} + \text{etc. à l'infini,}$$

d'où : $x = \frac{h}{3}$, ce qu'il fallait démontrer.

Remarque.

Fig. 37. 152. SOIENT trois masses égales ayant leurs centres de gravité situés aux trois angles respectifs du triangle A B C. Le centre de gravité de ces trois corps sera le même que celui du triangle.

Car, pour trouver celui des trois corps, il n'y a qu'à prendre d'abord le centre de gravité de deux quelconques d'entr'eux, celui des deux corps B et C, par exemple, lequel est au point D milieu de B C; ensuite joignant D A, on n'a qu'à diviser cette droite au point G dans la raison réciproque de 2 à 1.

Or, cette construction donne aussi le centre de gravité du triangle A B C.

Il résulte de là et du n°. (138) que la distance du centre de gravité d'un triangle à un plan situé d'une manière quelconque dans l'espace, est égale à la moyenne distance de ses trois angles au même plan.

Problème III.

153. *TROUVER le centre de gravité de la solidité d'un polyèdre quelconque, et en général, d'un assemblage de polyèdres disposés comme on voudra dans l'espace.*

Tous les polyèdres pouvant se décomposer

en pyramides triangulaires, nous allons voir d'abord comment on trouve le centre de gravité d'une pyramide triangulaire. Après quoi, prenant les centres de gravité de toutes les pyramides qui composent le système proposé, l'on n'aura plus qu'à chercher le centre de gravité d'un assemblage de points, représentés pour leurs poids par les volumes des pyramides respectives dont ils sont les centres de gravité; et le problème se résoudra comme il a été dit ci-dessus.

Du centre de gravité de la pyramide.

154. Soit ABCD une pyramide triangulaire quelconque. Si nous considérons cette pyramide comme composée d'une infinité de tranches parallèles à la base BCD, il est visible qu'une droite menée de l'angle A en un point quelconque de la base, couperait toutes ces tranches et la base elle-même, en des points semblablement placés. Donc, si cette droite est menée au centre de gravité I de la base, elle passera par tous les centres de gravité des tranches parallèles. Le centre de gravité du système de ces tranches, et par conséquent celui de la pyramide, devra donc se trouver sur la droite AI. Fgi. 39.

Mais, par un raisonnement tout-à-fait semblable, on voit que le centre de gravité de la pyramide doit aussi se trouver sur la ligne C H qui serait menée de l'angle C au centre de gravité H de la face opposée. Donc il sera nécessairement à l'intersection G de ces deux droites.

Ainsi les deux lignes A I et A H doivent nécessairement se rencontrer : et c'est ce que l'on voit d'ailleurs indépendamment de la considération du centre de gravité ; car si l'on tire C I, cette droite ira couper le côté B D en son milieu E, puisque le point I est le centre de gravité du triangle B C D ; par la même raison, si l'on tire A H cette droite ira rencontrer B D au même point E, et par conséquent les deux droites A I, C H seront dans un même plan, qui est celui du triangle A E C, et elles se couperont nécessairement.

Actuellement, si l'on remarque que le point I est au tiers de E C ; et le point H au tiers de E A (150), il est clair qu'en joignant I H, cette droite sera parallèle à A C et en sera le tiers. Mais si la droite I H est le tiers de A C, à cause des triangles semblables I G H, A G C, le côté I G sera le tiers de son homologue G A ; ou bien sera le quart de I A, et A G en sera les trois quarts.

Donc, *le centre de gravité d'une pyramide*

triangulaire est situé sur une ligne menée de l'un quelconque des trois angles au centre de gravité de la base opposée ; il est au quart de cette ligne, à partir de la base, ou aux trois quarts, à partir du sommet de l'angle.

Remarque.

155. On peut aussi appliquer à la pyramide triangulaire une démonstration analogue à celle que l'on a donnée pour le triangle.

Mais pour cela considérons d'abord le prisme triangulaire : soit A B C *a b c* le prisme. Par le milieu E du côté A B de sa base A B C, conduisons deux plans E F *f*, E D *d* parallèles aux faces respectives B C *c b*, A C *c a* : Nous décomposerons ce prisme en deux autres, et un parallélipipède. Fig. 40.

Si l'on nomme a la solidité de l'un de ces deux prismes, lesquels sont parfaitement égaux, on aura $4a$ pour celle du prisme proposé, et $2a$ pour celle du parallélipipède.

Cela posé : soit x la distance du centre de gravité du prisme total à la face B A *a b*. On aura $4ax$ pour son moment par rapport à cette face. Soit de même, pour les deux prismes partiels, x' les distances de leurs centres de gravité au même plan, distances qui sont parfaitement

égales entr'elles, on aura $2ax'$ pour la somme de leurs momens. Enfin, nommant h la hauteur de l'arrête Cc au-dessus du plan parallèle $BA\,ab$, le moment du parallélipipède sera évidemment $2a\frac{h}{2}$ ou simplement ah.

On aura donc :

$$4ax = ah + 2ax'$$

et par conséquent,

$$x = \frac{h}{4} + \frac{x'}{2};$$

et si l'on applique mot à mot tout ce qu'on a dit (151), on trouvera :

$$x = \frac{h}{3}.$$

Ce qui fait voir que le centre de gravité d'un prisme triangulaire est, à l'égard de chaque face, au tiers de la hauteur de l'arrête parallèle à cette face. D'où il est facile de conclure qu'il est sur la ligne qui joint les centres de gravité des deux bases. D'ailleurs il est évident qu'il est au milieu de cette ligne ; car il n'y a pas de raison pour qu'il soit d'un côté plutôt que d'un autre.

156. Actuellement soit une pyramide triangulaire A B C D. Par le point L, milieu de A C, faites passer la section L M K parallèle à la base B C D, et la section L E F parallèle à la face A B D. Menez K H parallèle à L E et joignez E H. Fig. 41.

La pyramide proposée sera décomposée en deux prismes équivalens, l'un dont la base est E D H, l'autre dont la base est L E F, et en deux pyramides triangulaires A L M K, L C E F parfaitement égales entr'elles, et semblables à la pyramide proposée.

Cela posé : égalons le moment de la pyramide totale, par rapport à la base B C D, à la somme des momens des deux prismes et des deux pyramides partielles, par rapport au même plan.

Soit a la solidité de l'une de ces deux pyramides, $8a$ sera celle de la pyramide entière, et si l'on nomme x la distance de son centre de gravité à la base, on aura $8ax$ pour son moment.

Soit h la hauteur de la pyramide entière, le prisme dont la base est E D H ; aura son centre de gravité élevé, au-dessus de la base, de $\frac{1}{2} \cdot \frac{h}{2}$, et comme sa solidité est $3a$ son moment sera $3a\frac{h}{4}$. Le second prisme dont la base est L E F, aura son centre de gravité élevé au-dessus du

plan BCD de $\frac{1}{3} \cdot \frac{h}{2}$ (155); et comme sa solidité est $3a$ son moment sera $3a\frac{h}{6}$.

Enfin, si l'on nomme x' la hauteur du centre de gravité de la pyramide LCEF au-dessus de la base BCD, la hauteur du centre de gravité de la seconde pyramide ALMK sera évidemment $x' + \frac{h}{2}$, et l'on aura pour la somme des momens de ces pyramides :

$$ax' + a(x' + \frac{h}{2}); \text{ ou, } \frac{ah}{2} + 2ax'.$$

On aura donc en réunissant :

$$8ax = \frac{3ah}{4} + \frac{3ah}{6} + \frac{ah}{2} + 2ax'$$

réduisant et divisant par $8a$:

$$x = \frac{7}{32} \cdot h + \frac{x'}{4}.$$

Si l'on supposait que, dans les pyramides semblables, les centres de gravité sont des points semblablement placés, comme les di-

mensions de la pyramide LCEF sont deux fois plus petites que celles de la pyramide proposée ABCD, on aurait :

$$x' = \frac{x}{2};$$

et substituant dans l'équation précédente, on trouverait :

$$x = \frac{1}{4}h.$$

Ce qui nous ferait voir que dans toute pyramide triangulaire, le centre de gravité est élevé au-dessus de chaque face, au quart de la hauteur de l'angle opposé. D'où il est facile de conclure qu'il est au point déterminé ci-dessus. Mais on peut parvenir à l'équation précédente sans aucune hypothèse.

En effet, si l'on imagine que l'on ait fait dans la petite pyramide LCEF la même construction que l'on a faite dans la pyramide ABCD, en nommant x'' la distance analogue à celle qu'on a nommée x', et observant que la hauteur de la nouvelle pyramide n'est que la moitié de la hauteur h de la première, on aura, comme ci-dessus.

$$x' = \frac{7}{32} \cdot \frac{h}{2} + \frac{x''}{4}$$

et continuant la même construction dans les pyramides successives, on trouvera :

$$x'' = \frac{7}{32} \cdot \frac{h}{4} + \frac{x'''}{4}$$

$$x''' = \frac{7}{32} \cdot \frac{h}{8} + \frac{x^{IV}}{4}, \text{ etc., etc.}$$

x''', x^{IV}, désignant les distances successives des centres de gravité des pyramides, à la base. Or ces distances diminuent sans cesse, et deviennent plus petites que toute grandeur donnée, puisqu'elles sont toujours moindres que les hauteurs des pyramides dans lesquelles on les considère. On aura donc en substituant successivement dans la première équation à la place de x', x'', x''' etc., leurs valeurs :

$$x = \frac{7}{32} \cdot h + \frac{7}{32.8} h + \frac{7}{32} \cdot \frac{h}{64} + \text{etc.}$$

ou $x = \frac{7}{32} h \left(1 + \frac{1}{8} + \frac{1}{64} + \text{etc.}\right)$

d'où l'on tire $x = \frac{7}{32} \cdot h \times \frac{8}{7} = \frac{1}{4} h$;

ce qu'il fallait démontrer.

Remarque.

157. SOIENT quatre masses égales dont les centres de gravité soient placés au quatre angles d'une pyramide triangulaire : le centre de gravité de ces quatre corps est le même que celui de la pyramide.

Car, pour trouver celui des quatre corps, il n'y aurait qu'à prendre d'abord le centre de gravité de trois quelconques d'entr'eux, lequel est au centre de gravité de la face même aux angles desquels ils sont placés (152), et joignant ensuite le centre de gravité du quatrième corps à ce point, il faudrait diviser cette droite en partant de la face en raison réciproque de 3 à 1.

Or, cette construction donne aussi le centre de gravité de la pyramide. Il résulte delà que la distance du centre de gravité d'une pyramide triangulaire à un plan situé d'une manière quelconque dans l'espace est égale à la moyenne distance de ses quatre angles au même plan.

La même propriété appartient aussi au prisme triangulaire.

Remarque générale.

158. POUR déterminer le centre de gravité d'un polyèdre, il n'est pas toujours nécessaire de le décomposer en pyramides triangulaires,

il se présente souvent des simplifications dont il faut profiter.

Par exemple, on trouvera le centre de gravité d'un prisme quelconque à bases parallèles, en prenant le centre de gravité de la section parallèle aux bases, menée entr'elles à égales distances : ou bien, en prenant le milieu de la ligne qui joint les centres de gravité de ces deux bases.

Cette proposition est si facile à démontrer directement, ou à déduire de ce que nous avons dit sur le prisme triangulaire qu'il est inutile de s'y arrêter.

159. Si l'on considère un cylindre quelconque à bases parallèles comme un prisme dont la base est un polygone d'une infinité de côtés, il résulte de ce que nous venons de dire, que le centre de gravité de ce cylindre est au milieu de la droite qui joint les centres de gravité de ses deux bases.

160. On a pu voir précédemment que le centre de gravité d'une pyramide triangulaire, est le même que le centre de gravité de la section parallèle à la base, menée au quart de la hauteur du sommet.

Cette propriété s'étend à une pyramide quelconque. Car, si l'on partage la base en triangles par des diagonales, et que l'on conduise des

plans par ces lignes et par le sommet, on décomposera la pyramide proposée en autant de pyramides triangulaires qu'il y a de triangles dans la base. Toutes ces pyramides auront même hauteur ainsi que la proposée, et par conséquent leurs solidités respectives seront proportionnelles à leurs bases ou à des sections parallèles faites à même hauteur. Donc, si l'on coupe toutes ces pyramides par un plan parallèle au plan de leurs bases, mené au quart de la hauteur du sommet commun, puisque leurs centres de gravité respectifs sont les mêmes que ceux des sections triangulaires correspondantes, et que leurs solidités (ou leurs poids) sont proportionnelles à ces sections, il s'ensuit que le centre de gravité du système de ces pyramides, est le même que celui de tous les triangles, ou du polygone qui résulte de leur assemblage.

Mais, si l'on tire une ligne droite du sommet au centre de gravité de ce polygone, cette droite ira passer au centre de gravité de la base, et sera coupée par le plan du polygone aux trois quarts de sa longueur en partant du sommet, ou au quart en partant de la base.

Donc, *le centre de gravité d'une pyramide à base quelconque, est sur la ligne menée du sommet au centre de gravité de la base, au*

On voit par là que si trois forces sont en équilibre sur un point, ce point est le centre de gravité du triangle formé par les droites qui joindraient les extrémités des lignes qui représentent ces forces en grandeurs et en directions. Car, le centre de gravité du triangle est le même que celui de trois corps égaux dont les centres sont placés aux trois angles.

Et de même, si quatre forces sont en équilibre autour d'un point, ce point est le centre de gravité de la pyramide triangulaire formée par les six droites qui joignent les extrémités des lignes qui représentent les quatre forces en grandeurs et en directions.

Et réciproquement, il y a équilibre entre trois forces exprimées par les distances des trois angles d'un triangle quelconque, au centre de gravité de ce triangle; et de même, entre quatre forces représentées par les distances des quatre coins d'une pyramide triangulaire quelconque, au centre de gravité de cette pyramide.

Mais voici une conséquence plus générale: si l'on suppose que toutes les molécules égales d'un corps de figure quelconque, soient attirées vers un même point par des forces proportionnelles à leurs distances à ce point, et qu'il y ait équilibre; ce point sera nécessairement le centre de gravité du corps.

Et

Et réciproquement, si le point vers lequel toutes les molécules sont attirées proportionnellement à leurs distances est le centre de gravité du corps, il y aura équilibre; et le corps ne pourra prendre aucun mouvement en vertu de ces attractions.

C'est le cas de la terre dont les molécules intérieures pèsent vers le centre, en raison des simples distances. Ainsi, toutes les forces de la gravité se font équilibre autour du centre de la terre.

II.

163. Soit une courbe plane quelconque ABC qui tourne autour d'un axe PZ situé dans son plan; de manière que tous les points de la courbe demeurent toujours aux mêmes distances de cet axe, cette courbe engendre une surface que l'on nomme *surface de révolution*. Fig. 43.

Pour en déterminer l'aire, on peut remarquer que chaque élément ds de la courbe génératrice produit une surface de cône tronqué dont l'aire est égale au côté ds multiplié par la circonférence du cercle que décrit son milieu, ou son centre de gravité i, autour de l'axe PZ.

Donc, si l'on suppose tous ces élémens égaux, la surface entière sera égale à leur somme multipliée par la circonférence moyenne entre celles que décrivent tous leurs centres de gravité.

Mais cette moyenne circonférence a pour rayon la moyenne distance de tous ces points à l'axe de révolution, ou bien (138) la distance du centre de gravité de la courbe au même axe; donc on peut dire :

Que l'aire d'une surface de révolution est égale à la longueur de la génératrice, multipliée par la circonférence que décrit son centre de gravité, autour de l'axe de révolution.

On voit de la même manière que si plusieurs courbes situées dans le même plan, tournent autour d'un axe situé dans ce plan, la somme des surfaces engendrées est égale à la somme des génératrices, multipliée par la circonférence que décrit le centre de gravité de leur système.

Mais il faut observer que lorsque la génératrice ou les génératrices ne sont pas situées en entier d'un même côté de l'axe, l'expression précédente ne donne plus que la somme des aires engendrées par les parties qui sont d'un côté de cet axe, moins la somme des aires engendrées par les parties qui sont de l'autre côté.

164. On peut appliquer aussi la théorie des centres de gravité à la cubature des solides de révolution. Et il n'est pas difficile de voir que *le volume d'un solide de révolution est égal à l'aire de la section génératrice multipliée par la*

circonférence que décrit son centre de gravité autour de l'axe fixe.

En effet, si l'on considère un rectangle $bcde$ qui tourne autour de l'axe PZ parallèle à l'un de ses côtés be, il est clair que le solide engendré par ce rectangle est égal à la différence de deux cylindres de même hauteur cd, et dont l'un a pour rayon la distance ca du côté cd, à l'axe fixe; et l'autre, la distance ba du côté be, au même axe. Ce solide est donc exprimé par $(\varpi \overline{ac}^2 - \varpi \overline{ab}^2)\, cd$, en nommant ϖ le rapport de la circonférence au diamètre. Si l'on met $ca - cb$, à la place de ab, l'expression précédente devient: $\varpi (2ac \times bc - \overline{bc}^2)\, cd$, ou $bc \times cd \times 2\varpi (ac - \frac{bc}{2})$; c'est-à-dire, égale au rectangle $bcde$ multiplié par la circonférence décrite d'un rayon moyen entre les rayons ca et ba, ou bien égal à la distance du centre de gravité du parallélogramme à l'axe de révolution. Fig. 44.

Donc, si l'on conçoit la section génératrice ZMN comme partagée en une infinité de petits rectangles égaux, on pourra dire que le solide total engendré est égal à la somme de tous ces rectangles, ou à l'aire de la section ZMN multipliée par la circonférence moyenne entre toutes celles que décrivent leurs centres de gravité autour de l'axe. Mais cette moyenne circonfé-

rence a pour rayon la moyenne distance de tous ces points au même axe, ou la distance du centre de gravité à cet axe ; donc, etc.

165. On pourrait voir encore, par un raisonnement à peu près semblable au précédent, que, si une surface plane terminée par une courbe quelconque, se meut dans l'espace, de manière que son plan soit toujours (au même point) perpendiculaire à une courbe quelconque à double courbure, le solide engendré est égal à l'aire de la surface génératrice multipliée par la longueur de la courbe que parcourt son centre de gravité.

Mais, nous ne nous arrêterons pas à démontrer cette proposition que l'on pourrait déduire aussi bien que les précédentes, des formules connues pour les centres de gravité. Nous ne ferons même aucune application particulière de cette théorie aux surfaces et aux solides dont on a immédiatement la mesure en géométrie. Notre seul but était de montrer ce rapprochement remarquable de considérations qui paraissent d'abord étrangères entr'elles, mais qui s'enchaînent comme toutes les questions soumises aux mathématiques, et se fondent, pour ainsi dire, les unes dans les autres, lorsqu'on écarte un instant et les idées et les noms que l'objet particulier de chaque question nous rappelle.

CHAPITRE IV.

DES MACHINES.

166. ON définit ordinairement les Machines des instrumens destinés à transmettre l'action des forces.

Sous ce point de vue général, tous les corps de la nature sont des machines, parce qu'ils sont propres à transmettre l'action des forces qui leur sont appliquées. Mais lorsque des forces réagissent les unes sur les autres, par l'intermède d'un corps ou système parfaitement libre, il est impossible qu'elles se fassent équilibre, à moins qu'elles ne remplissent les conditions que nous avons établies précédemment : or au moyen des machines proprement dites, on peut mettre en équilibre des forces quelconques qui ne satisfont pas à ces conditions ; et par conséquent, pour mieux caractériser les machines, et les distinguer des autres corps, on pourrait les définir des instrumens propres à mettre en équilibre des forces de grandeurs et de directions quelconques.

Mais si des forces incapables de se faire équilibre sur un corps entièrement libre, peuvent

néanmoins se faire équilibre sur une machine, il faut en conclure que les corps qui forment les machines ne sont pas entièrement libres, mais sont gênés par des obstacles qui les empêchent d'obéir au mouvement que les forces tendent à leur imprimer, et leur imprimeraient réellement s'ils étaient libres. Ainsi, l'on voit que *les machines en général, ne sont autre chose que des corps ou systèmes gênés dans leurs mouvemens par des obstacles quelconques.*

Il n'est pas difficile de comprendre, d'après cela, comment des forces de grandeurs quelconques peuvent se faire équilibre sur de tels corps; car il n'est plus nécessaire que les forces résultantes soient nulles d'elles-mêmes, mais il suffit qu'elles se dirigent vers les obstacles qui les détruisent par leurs résistances. Ainsi, à l'aide d'un corps solide qui s'appuyerait, par exemple, contre un point fixe, une force médiocre ferait équilibre à une très-grande force, si elle était disposée à l'égard de celle-ci, de manière que leur résultante commune fût dirigée vers le point fixe; d'où l'on voit que la plus petite force seule ne fait pas équilibre à la plus grande, ce qui serait impossible; mais qu'elle ne sert, en quelque sorte, qu'à détourner l'effort de la plus grande, et à le faire passer avec le sien propre combiné, vers un obstacle invincible.

Au fond, lorsque l'on fait équilibre à une puissance quelconque, à l'aide d'une machine, on emploie réellement plus de force qu'en appliquant directement une force égale et contraire à celle qu'on veut détruire, si l'on compte la résistance de l'obstacle pour une force. Mais comme ces résistances qui proviennent des obstacles sont par elles-mêmes incapables de produire du mouvement, et ne peuvent servir qu'à le détruire, nous n'en tenons pas compte, parce que nous ne dépensons réellement que la force appliquée. Au reste, dans la théorie de l'équilibre des machines, rien n'empêche de considérer les obstacles comme tenant lieu de forces égales et contraires à celles qu'ils détruisent actuellement ; et si l'on conçoit qu'on ait ainsi substitué à la place de ces obstacles, des forces qui représentent leurs résistances actuelles, ce n'est plus entre les seules forces appliquées qu'il y a équilibre, mais entre les forces appliquées et les résistances; de manière que les lois de l'équilibre des machines deviennent les mêmes que celles de l'équilibre des corps parfaitement libres.

C'est d'après cette considération, que nous avons trouvé à la fin du second Chapitre, les lois de l'équilibre de corps assujétis à diverses conditions particulières. Ceux qui auront lu

cet article, verront que nous aurions peu de chose à y ajouter ici, et qu'il renferme de la manière la plus générale la théorie de l'équilibre des trois machines simples auxquelles on peut aisément ramener toutes les autres; mais, en faveur de ceux qui veulent étudier les machines d'une manière plus élémentaire, nous allons entrer dans les détails convenables.

167. Nous réduirons les machines simples à trois principales, que l'on peut considérer, si l'on veut, dans l'ordre suivant, eu égard à la nature de l'obstacle qui gêne le mouvement du corps: le *levier*, le *tour* et le *plan incliné*.

Dans la première machine, l'obstacle est un point fixe autour duquel le corps a la liberté de tourner en tous sens.

Dans la seconde, l'obstacle est une ligne fixe autour de laquelle tous les points du corps n'ont que la liberté de tourner dans des plans parallèles entr'eux.

Dans la troisième, l'obstacle est un plan inébranlable contre lequel le corps s'appuie, et sur lequel il a la liberté de glisser.

Comme on n'a d'abord considéré cette dernière machine, que par rapport aux corps pesans retenus en équilibre sur des plans qui font un angle aigu avec l'horizon, on lui a donné et elle a gardé le nom de *plan incliné*.

Nous parlerons successivement de ces trois machines, et de quelques-unes qui s'y rapportent, dont l'usage est le plus fréquent. Nous ferons abstraction des diverses circonstances physiques qui peuvent influer sur l'équilibre ; telles que le frottement des corps les uns sur les autres, et la roideur des cordes au moyen desquelles les forces transmettent leur action aux divers points de la machine. Ainsi l'on supposera que l'action de chaque force se transmet suivant l'axe de la corde à laquelle elle est appliquée, de manière que l'on pourra considérer les cordes comme des fils parfaitement flexibles et inextensibles. On verra facilement dans quels cas et comment on doit avoir égard aux diamètres des cordes. Au reste, nous parlerons plus loin de ces sortes d'instrumens qu'on a mis au rang des machines, et qu'on nomme *machines funiculaires;* ce que nous en avons dit ici suffit pour notre objet.

Du Levier.

168. Soient deux forces quelconques P et Q, appliquées immédiatement ou suivant des cordons, aux deux points A et B d'un levier A F B de figure quelconque : soit F le point fixe, autour duquel le levier a la liberté de Fig. 45.

tourner, et qu'on nomme ordinairement le *point d'appui* : on demande les conditions de l'équilibre, en faisant d'abord abstraction de la pesanteur du levier.

Du point F j'abaisse sur les directions des deux forces P et Q, deux perpendiculaires F H, F I, qui rencontrent ces directions prolongées, s'il est nécessaire, en H et I; et regardant ces deux points comme invariablement liés aux points A et B, je suppose que les deux forces P et Q y agissent immédiatement.

Cela posé, j'applique au point F deux forces contraires P′ et —P, égales et parallèles à P; et, au même point F, deux autres forces contraires Q′ et —Q, égales et parallèles à Q. Il est clair que le levier reste toujours dans le même état : mais l'on peut considérer actuellement, au lieu des deux forces primitives P et Q, 1°. deux forces P′ et Q′ respectivement égales et parallèles à ces forces, et de même sens, mais appliquées en F ; 2°. deux couples (P, —P), (Q, —Q), dont les bras de levier sont F H et F I.

Or, la résultante des deux forces P′ et Q′ est toujonrs détruite par la résistance du point d'appui, si l'on suppose le levier invariablement lié à ce point, de manière qu'il ne puisse prendre qu'un mouvement de rotation autour de lui. Mais le couple résultant des deux cou-

ples (P, —P) et (Q, —Q) ne peut jamais être détruit par ce point fixe (74); et par conséquent il faut, pour l'équilibre, que ce couple résultant soit nul de lui-même, ou que les deux couples composans (P, —P) et (Q —Q) soient équivalens et contraires. Ces deux couples doivent donc se trouver dans des plans parallèles, et par conséquent dans le même plan, puisque leurs plans se rencontrent déjà au point F ; en second lieu, leurs momens $P \times FH$, $Q \times FI$, doivent être égaux, et ils doivent tendre à faire tourner en sens contraires.

Donc, *pour l'équilibre du levier, il est nécessaire et il suffit :* 1°. *que les deux forces* P *et* Q *qui le sollicitent, soient dans un même plan avec l'appui ;* 2°. *que leurs momens par rapport à ce point soient égaux ;* 3°. *qu'elles tendent à faire tourner en sens contraires.*

A l'égalité des momens $P \times FH = Q \times FI$, on peut substituer la proportion $P : Q :: FI : FH$, qui exprime que les forces P et Q doivent être en raison réciproque de leurs distances au point d'appui.

De la charge du point d'appui.

169. Dans le cas de l'équilibre, l'appui n'est pressé que par les deux forces P′ et Q′ qui y

sont immédiatement appliquées ; car les deux couples (P, —P), (Q, —Q) étant en équilibre d'eux-mêmes, c'est-à-dire, même en supposant que le levier ne soit pas soutenu, il est clair qu'ils ne peuvent nullement charger le point fixe.

Ainsi *la pression qu'éprouve le point d'appui est absolument la même que si les deux forces* P *et* Q *s'y transportaient parallèlement à elles-mêmes, sans changer de grandeurs ni de sens.*

170. Si l'on achève sur les côtés FP′, FQ′ qui représentent les forces P′ et Q′, le parallélograme FQ′RP′, la diagonale FR représentera donc la charge R de l'appui ; et par conséquent, si la résistance de cet appui n'est pas indéfinie, on pourra juger de quelle résistance il doit être capable, pour n'être pas entraîné par l'action des forces P et Q qui sollicitent le levier.

Comme les forces P′ et Q′ sont parfaitement égales et parallèles aux forces respectives P et Q, et de même sens, les trois côtés et les trois angles du triangle FRQ′, ou du triangle FRP′, représentent les six choses que l'on peut considérer dans le levier ; savoir : les deux forces P et Q, la charge R de l'appui, et les

inclinaisons mutuelles des directions de ces trois forces.

Donc, si l'on connaît trois quelconques de ces six choses, pourvu qu'il y entre la grandeur de l'une des forces P, Q, R, on pourra trouver les trois autres, de la même manière que l'on résoudrait le triangle FRQ'.

171. Observons que tout ce que nous avons dit a lieu, quelles que soient la figure du levier et les dispositions mutuelles des forces P et Q, et du point d'appui.

Si les forces P et Q sont parallèles, on peut mener du point fixe une perpendiculaire commune IH sur leurs directions, et ces deux forces devront être, en raison réciproque des parties FH et FI, comprises entre leurs directions et l'appui. Fig. 46.

La charge de ce point sera égale à la somme des forces P + Q, ou à leur différence P — Q, selon qu'elles seront toutes deux de même sens (fig. 46), ou de sens contraires (fig. 47).

Lorsque le levier est droit, les parties HF et FI sont proportionnelles aux parties AF et BF, qui sont les distances des points d'application des forces au point d'appui, distances comptées sur le levier lui-même, et que l'on nomme proprement *les bras de levier;* et par

conséquent, dans l'équilibre du levier droit, les forces sont réciproques à leurs bras de levier.

172. Si l'on veut considérer l'une des deux forces P et Q, la force P, par exemple, comme celle qui tend à donner le mouvement à la machine, et que l'on nommera la *puissance*, et l'autre force Q, comme l'effort qu'il faut vaincre, et que l'on nommera la *résistance*, on pourra distinguer plusieurs espèces de levier, suivant la place qu'occupe le point d'appui F, relativement à ces deux forces.

Si l'appui tombe entre la puissance et la
Fig. 46. résistance, on aura le levier de la première espèce, où la puissance a d'autant plus d'avantage, que son bras de levier A F est plus long.

Si l'appui laisse la résistance Q entre lui et
Fig. 47. la puissance P, on aura le levier de la seconde espèce, où la puissance a toujours de l'avantage.

Enfin, si la puissance tombe entre le point
Fig. 48. d'appui et la résistance, on aura le levier de la troisième espèce, où la puissance a toujours du désavantage.

Mais ces différens leviers reviennent tous au même sous le rapport de l'équilibre. De quelque manière que la puissance et la résistance soient disposées entr'elles et à l'égard du point d'appui, si on les transporte toutes deux parallèle-

ment à elles-mêmes en ce point, il faut toujours que les deux couples qui en naissent soient équivalens et contraires : ainsi les distinctions précédentes sont inutiles dans la théorie, et ne peuvent servir que dans le discours.

173. Supposons actuellement que le levier soit sollicité par un nombre quelconque de puissances P, Q, R, etc. toutes situées dans un même plan avec le point d'appui F. En abaissant de ce point des perpendiculaires FH, FI, FK, etc. sur leurs directions, et considérant chaque force P comme transformée en une autre égale, parallèle et de même sens, appliquée en F, et en un couple (P, —P) qui a pour bras de levier la distance FH de cette force au point fixe; on verra, comme ci-dessus, que la résultante de toutes les forces transportées sur le point fixe, est toujours détruite par sa résistance; mais que le couple résultant doit être nul de lui-même pour l'équilibre, comme si la verge était parfaitement libre : d'où l'on conclura que la somme des momens $P \times FH$, $Q \times FI$, $R \times FK$, etc. doit être égale à zéro; en comptant comme positifs tous les momens des forces qui tendent à faire tourner dans un sens, et comme n[illegible]- Fig. 49.

tifs, les momens de celles qui tendent à faire tourner dans le sens contraire.

On trouvera aussi que la charge du point d'appui est absolument la même que si toutes les forces s'étaient transportées parallèlement à elles-mêmes en ce point, sans changer de grandeurs ni de sens.

174. Si les forces P, Q, R, etc. agissaient dans des plans différens, on verrait de la même manière qu'en transportant toutes ces forces parallèlement à elles-mêmes au point fixe, tous les couples qui en proviennent doivent donner un couple résultant nul de lui-même, ou doivent être en équilibre entr'eux.

Mais pour exprimer cette condition, il faut ici trois équations qui expriment que la somme des momens des forces, estimés par rapport à trois axes qui se croisent dans l'espace au point d'appui, soit nulle d'elle-même à l'égard de chacun de ces axes.

Sur quoi l'on peut observer que les trois axes peuvent être menés d'une manière quelconque par le point fixe; pourvu qu'ils ne soient pas dans un même plan, car les trois équations précédentes n'assureraient pas alors l'équilibre du corps.

Puisque les couples qui naissent des forces transportées

transportées au point fixe, doivent être en équilibre d'eux-mêmes; il s'ensuit que les forces appliquées aux divers points du levier, doivent se réduire aux mêmes forces, mais réunies parallèlement à elles-mêmes au point d'appui; et par conséquent on peut exprimer la loi générale de l'équilibre du levier, en disant que les forces appliquées doivent avoir une résultante unique qui passe par le point fixe : proposition qui paraît assez évidente d'elle-même, et dont on part ordinairement comme d'un axiome, pour arriver aux conditions précédentes (114—116).

175. Jusqu'ici nous avons fait abstraction de la pesanteur du levier. Si l'on veut y avoir égard, il faudra considérer le poids de la verge comme une nouvelle force appliquée en son centre de gravité, suivant une direction verticale; et l'on combinera cette force avec les autres, d'après ce que nous avons dit ci-dessus, comme si le levier était sans pesanteur. Ainsi l'on voit que, dans le cas, par exemple, où toutes les forces et la direction du poids du levier se trouvent dans un même plan avec l'appui, c'est la somme de tous les momens, en y comprenant celui du poids, qui doit être égale à zéro pour l'équilibre.

Donc, si l'on veut employer un levier dont le poids n'entre pour rien dans l'équilibre des forces, on n'aura qu'à le placer de telle sorte, que la verticale, abaissée de son centre de gravité, tombe au point d'appui : alors le moment du poids étant nul de lui-même, on n'aura plus à considérer que les momens des forces appliquées.

176. On a supposé que le point F du levier était arrêté dans tous les sens, de manière que le levier ne pût avoir qu'un mouvement de rotation autour de lui : pour se procurer un tel point au-dedans d'un corps, on le traverse ordinairement par un aissieu, ou cylindre inflexible d'un diamètre quelconque ; et lorsque le corps tourne autour de ce cylindre, il est absolument dans le même cas que s'il tournait autour de son axe considéré comme une ligne fixe ; et tous les points d'une même section plane, qui est faite perpendiculairement à l'axe, et dont il résulte un cercle dans le cylindre, sont dans le même cas que s'ils tournaient autour du centre de ce cercle.

A la vérité, dans la disposition précédente, le levier n'a point la liberté de pirouetter en tous sens autour du point fixe ; mais lorsque les forces qu'on y suppose appliquées, sont toutes dans

un plan perpendiculaire à l'axe autour duquel il peut tourner, les lois de l'équilibre y sont parfaitement les mêmes. Au reste, on pourrait pénétrer la verge par une sphère fixe qui la touchât au moins en quatre points, de manière que ces quatre points fussent comme les points de contact d'une pyramide circonscrite à sa surface. Le levier alors, en tournant autour de cette sphère, pourrait être considéré comme s'il tournait autour de son centre.

Mais le plus souvent le levier ne fait que poser sur l'appui fixe, comme on le voit fig. 46, 47, 48. Alors les conditions données plus haut ne suffisent plus pour l'équilibre, abstraction faite du frottement. Il faut, non seulement que les forces appliquées aient une résultante unique qui passe au point d'appui, mais encore que la direction de cette résultante soit normale à la surface de contact du levier avec l'appui : car si elle tombe obliquement sur le plan tangent à cette surface, on pourra la décomposer en deux autres, l'une perpendiculaire, et l'autre parallèle à ce plan : la première sera détruite ; mais la seconde obtiendra son effet, et fera glisser le levier sur l'appui, comme on le verra à l'article du plan incliné.

De la balance.

Fig. 50. 177. LA balance ordinaire est un levier du premier genre, aux extrémités duquel sont suspendus par des cordons deux bassins destinés à recevoir les corps dont on veut comparer les poids. On dispose ordinairement cette machine de manière que son centre de gravité passe par la verticale menée par le point d'appui F, et que les bras de levier FA et FB soient parfaitement égaux. Alors on est sûr que deux corps graves qui se font équilibre dans les bassins, ont des poids parfaitement égaux, et par conséquent renferment des quantités égales de matière. Ainsi, en prenant le poids d'un corps quelconque pour unité, on évaluera les masses respectives des différens corps, en cherchant à combien d'unités de poids ils font équilibre.

Pour qu'une balance soit bien juste, il faut donc, en premier lieu, que son centre de gravité tombe dans la verticale menée par le point d'appui.

C'est ce que l'on vérifie sur-le-champ, en examinant si la balance est en équilibre d'elle-même, c'est-à-dire, lorsque les bassins sont vides; et si cela n'a pas lieu, on rectifie aisément la balance à cet égard, en attachant à

l'un des bassins ou des bras de levier un poids convenable qui rétablisse l'équilibre.

Il faut, en second lieu, que le point d'appui divise le levier ou le *fléau* en deux parties parfaitement égales; et cette seconde condition est la plus importante.

Pour voir si elle a lieu, on n'a qu'à mettre deux corps en équilibre dans les bassins, et les changer ensuite de place. Si les bras de levier sont égaux, l'équilibre doit subsister encore; car les poids qui se sont fait équilibre, sont égaux aussi, et il doit être indifférent de les changer de bassins.

Mais si les bras de levier sont inégaux, l'équilibre sera détruit; car les poids qui se sont fait équilibre, sont en raison inverse de ces bras de levier : or, en les changeant de place, le plus grand poids agira à l'extrémité du bras de levier le plus long, et par cette double raison, entraînera nécessairement l'autre.

La balance alors sera fausse, et l'on ne pourra la rectifier qu'en changeant le point d'appui, ou le point de suspension de l'un des bassins.

On pourra néanmoins s'en servir, et connaître par deux épreuves le poids véritable d'un corps.

Car, soit P le poids inconnu du corps; x et y les deux bras de la balance; et supposons que le poids P, placé dans le bassin qui ré-

pond au premier bras de levier x, fasse équilibre à un poids connu A placé dans l'autre bassin, on aura :

$$P\,x = A\,y.$$

Mettons actuellement le poids P dans le bassin qui répond au bras de levier y, et supposons qu'il fasse équilibre à un poids connu B placé dans l'autre, on aura :

$$P\,y = B\,x.$$

Multipliant ces deux équations membre à membre, il vient :

$$P^2 = A\,D\text{; d'où } P = \sqrt{A\,B.}$$

C'est-à-dire, que le poids du corps est moyen proportionnel géométrique entre les deux poids auxquels il fait alternativement équilibre dans les deux bassins de la balance.

De la Poulie.

178. L'ÉQUILIBRE de la poulie se rapporte naturellement à celui du levier.

Fig. 51. La poulie est une roue circulaire A B K, mobile dans une chappe C N, autour d'un axe C.

Une partie AB de sa circonférence est enveloppée par une corde PABQ dont les deux extrémités sont tirées par deux forces P et Q. Si l'on mène les deux rayons CA et CB aux deux points extrêmes de contact, on peut regarder les deux forces P et Q comme appliquées aux extrémités d'un levier coudé ACB, dont les deux bras sont parfaitement égaux; et par conséquent il faut, pour l'équilibre, que les deux forces P et Q soient parfaitement égales.

Pour la charge du centre C de la poulie, elle est la même (169) que si les deux forces P et Q s'y transportaient parallèlement à leurs directions, en P′ et Q′. Ainsi, en achevant sur les deux lignes CP′ et CQ′, qui représentent leurs grandeurs, le losange P′CQ′R, la diagonale CR représentera la charge R du point C.

Mais si l'on joint AB, on formera un triangle isoscèle ACB, semblable au triangle P′CR; et par conséquent l'on aura :

$$P' \text{ ou } P : R :: AC : AB.$$

C'est-à-dire, que *l'une des deux forces* P *et* Q *appliquées à la corde, est à la charge que supporte l'axe de la poulie, comme le rayon de la poulie est à la sous-tendante de l'arc embrassé par la corde.*

179. Supposons que l'axe, au lieu d'être fixe, soit retenu par une force égale et contraire à la pression qu'il éprouve, et que l'extrémité
Fig. 52. du cordon A F, au lieu d'être tirée par la force P, soit invariablement attachée à un point fixe F, l'équilibre de la poulie ne sera point troublé, et le cordon demeurera toujours tendu de la même manière.

La puissance Q sera donc à la force qui retient le centre de la poulie, dans le même rapport que ci-dessus.

Ainsi, en considérant un poids P attaché à la chappe C N par un cordon dirigé vers le centre de la poulie, on aurait *la puissance* Q *qui tend à faire monter le poids, est à ce poids, comme le rayon de la poulie est à la sous-tendante de l'arc embrassé par la corde.*

Lorsque l'arc est égal au tiers de la demi-circonférence, la sous-tendante A B est égale au rayon, et la puissance est égale à la résistance.

Lorsque les deux parties de la corde sont
Fig. 53. parallèles, la sous-tendante A B est double du rayon, et la puissance n'est que la moitié de la résistance.

C'est le cas le plus favorable à la puissance, puisque le diamètre est la plus grande corde du cercle.

DU TOUR.

180. Le *tour* en général, est, comme nous l'avons dit, un corps solide de figure quelconque qui n'a que la liberté de tourner autour d'un axe fixe.

Mais ce que l'on nomme *tour* ou *treuil* dans les arts, est un cylindre aux bases duquel on adapte ordinairement deux autres cylindres du même axe, mais d'un diamètre plus petit, et que l'on nomme *tourillons*. Ces tourillons reposent sur deux appuis fixes F et H; et le cylindre en tournant sur ses tourillons, est absolument dans le même cas que s'il tournait autour de son axe considéré comme une ligne fixe. Fig. 54.

La résistance que l'on se propose de vaincre, ou le poids Q que l'on veut élever, est appliquée à une corde qui s'enroule autour du cylindre, tandis qu'une puissance P le fait tourner, soit en agissant par une corde CP tangentiellement à une roue (GB) perpendiculaire à l'axe de ce cylindre, et solidement lié avec lui; soit en agissant à l'extrémité d'une barre qui traverse le cylindre à angle droit, soit au moyen d'une manivelle, etc. etc.

Les dénominations du tour varient suivant l'objet auquel on le destine, et suivant sa posi-

tion. On le nomme ordinairement *tour* ou *treuil* lorsque l'axe du cylindre est horizontal, et *cabestan* lorsque l'axe est vertical, et qu'on se sert de barres pour y appliquer la puissance. Mais, quels que soient l'objet et la position de cette machine, et de quelque manière qu'on lui communique le mouvement, les conditions de l'équilibre y sont toujours les mêmes. Ainsi nous la considérerons, pour plus de simplicité, sous le premier aspect. Nous supposerons que l'axe AB du cylindre soit horizontal, et par conséquent, le plan de la roue vertical; que la puissance P agisse suivant une direction tangente en un point donné C, à la circonférence de la roue; et que la résistance Q agisse dans un plan parallèle à celui de la roue, suivant une direction verticale tangente à la surface du cylindre, ou plutôt à la circonférence de la section circulaire D I O faite dans ce cylindre au point D de contact.

Il s'agit de déterminer d'abord, le rapport de la puissance à la résistance dans le cas de l'équilibre; et en second lieu, les pressions qu'éprouvent les appuis F et H qui soutiennent les tourillons.

Soit B le centre de la roue; A celui de la section D I O. Menez les rayons C B et D A qui

seront perpendiculaires aux forces respectives P et Q.

Je transporte la force Q parallèlement à elle-même du point D au point A. Il en naît une force Q' égale et parallèle à Q et de même sens appliquée en A, et un couple (Q, —Q) qui a pour bras de levier le rayon DA du cylindre. Je transporte de même la puissance P de C en B, il en naît une force P' égale et parallèle et de même sens appliquée en B, et un couple (P, —P) qui a pour bras de levier le rayon CB de la roue.

Les deux forces P' et Q' étant appliquées aux deux points A et B qui appartiennent à l'axe fixe du cylindre, sont évidemment détruites par sa résistance.

Mais les deux couples (P, —P) et (Q, —Q) doivent se faire équilibre d'eux-mêmes; car, si l'on transporte, pour plus de clarté, le couple (Q, —Q) dans le plan du couple (P, —P), ce qui est permis, on voit que ces deux couples se composent en un seul qui ne peut jamais être en équilibre autour du centre B de la roue. Le couple résultant doit donc être nul de lui-même, et par conséquent les deux couples contraires (P, —P) et (Q, —Q) doivent être équivalens. Donc, leurs momens $P \times CB$ et $Q \times DA$ doivent être égaux; donc, on a : P : Q : : DA : CB.

C'est-à-dire, que *pour l'équilibre du tour, il faut que la puissance soit à la résistance, comme le rayon du cylindre est au rayon de la roue.*

Des pressions exercées sur les appuis.

181. Les deux couples (P, —P) et (Q, —Q) étant en équilibre d'eux-mêmes, il n'y a que les deux forces P′ et Q′ qui puissent charger l'axe fixe, et par conséquent les appuis : d'où l'on voit d'abord que *la pression exercée par les forces* P *et* Q *appliquées au treuil, est absolument la même que si ces forces étoient transportées sur l'axe, parallèlement à elles-mêmes, dans leurs plans perpendiculaires à cet axe.*

Pour obtenir les pressions individuelles des appuis F et H, on décomposera la force Q′ en deux autres parallèles q et q' appliquées aux points respectifs F et H ; et de même la force P′ en deux autres parallèles p et p' appliquées aux mêmes points. La résultante des deux forces p et q exprimera en grandeur et en direction la pression de l'appui F, et la résultante des deux forces p' et q', celle de l'appui H.

Nous avons fait abstraction de la pesanteur du treuil. Ordinairement le corps de cette ma-

chine est symétrique par rapport à l'axe fixe, et son centre de gravité tombe sur l'un des points de l'axe lui-même. Alors le poids du treuil ne trouble point la proportion établie ci-dessus entre la puissance et la résistance; mais il change les pressions exercées sur les appuis. Pour connaître les valeurs réelles de ces pressions, on considérera tout le poids du treuil comme une force verticale V appliquée en son centre de gravité G; et si l'on décompose cette force en deux autres parallèles g et g', appliquées aux points F et H; la résultante des trois forces p, q et g exprimera la charge réelle de l'appui F; et la résultante des trois forces p', q' et g' celle de l'appui H. De sorte que l'on saura de quelles résistances les deux points d'appui doivent être au moins capables, pour n'être pas entraînés par les efforts combinés des deux forces P et Q, et du poids V de la machine.

182. On a supposé que les cordes D Q, C P étaient infiniment déliées; mais les cordes sont ordinairement d'un diamètre fini, ce qui change sensiblement le rapport que nous avons établi entre la puissance et la résistance. En effet, les forces P et Q que l'on peut regarder comme agissantes suivant les axes des cordons, ont leurs bras de levier respectifs, augmentés des demi-

diamètres de ces cordons. L'on n'a donc pas alors : la puissance est à la résistance comme le rayon du cylindre est au rayon de la roue ; mais bien : *la puissance* P *est à la résistance* Q, *comme le rayon du cylindre augmenté du rayon de la corde* DQ, *est au rayon de la roue augmenté du rayon de la corde* CP.

Si les rayons des cordes DQ et CP sont proportionnels aux rayons du cylindre et de la roue; cette proportion revient à la première, comme si les cordes étaient des fils infiniment petits, appliqués tangentiellement à la roue et au cylindre.

183. Si l'on veut considérer actuellement un tour sollicité par tant de forces que l'on voudra situées dans des plans perpendiculaires à l'axe; on verra, comme ci-dessus, qu'en transformant chaque force en une autre égale, parallèle et de même sens appliquée sur l'axe, et en un couple qui aura pour bras de levier la distance de la force à l'axe, toutes les forces transportées sur l'axe seront toujours détruites par sa résistance; mais que tous les couples devront se réduire à un couple nul de lui-même pour l'équilibre. Or, tous ces couples étant dans des plans parallèles, le couple résultant sera égal à leur somme, et par conséquent il faudra pour l'équi-

libre, que la somme des momens des forces par rapport à l'axe, soit égale à zéro, en prenant avec des signes contraires les momens des forces qui tendent à faire tourner en sens contraire.

Pour les pressions exercées sur l'axe fixe, elles seront évidemment les mêmes que si toutes les forces appliquées s'y étaient transportées parallèlement à elles-mêmes, sans sortir de leurs plans perpendiculaires à cette ligne.

Lorsque les forces appliquées au treuil sont dirigées dans des plans quelconques, on a les conditions établies au n°. (118).

Du plan incliné.

184. Lorsqu'un point est pressé contre un plan inébranlable et inflexible, par une force normale à ce plan, il est clair que ce point doit rester en équilibre. Car, il n'y a pas de raison pour qu'il se meuve dans le plan d'un côté plutôt que de l'autre, puisque toutes les directions qu'il pourrait prendre font un même angle droit avec la direction de la force; et d'ailleurs il ne peut se mouvoir à travers le plan qui est supposé parfaitement inflexible.

Réciproquement, le point dont il s'agit ne pourra être en équilibre à moins que la force qui le presse ne soit normale au plan d'appui;

car, si elle y était inclinée, cette force pourrait se décomposer en deux autres, l'une perpendiculaire au plan, et l'autre située dans ce plan. La première serait détruite ; mais la seconde obtiendrait son effet, car il est visible qu'elle ne pourrait être altérée par la présence du plan le long duquel elle tend à s'exercer. Ainsi, il n'y aurait pas équilibre.

On peut dire la même chose d'un point qui s'appuie sur une surface courbe, et le considérer comme s'il reposait sur le plan tangent mené à la surface par ce point même. Il faut donc pour l'équilibre que la direction de la force qui le presse soit normale à ce plan, au point de contact; et voilà pourquoi dans l'équilibre du levier qui ne fait que poser sur l'appui, il faut non seulement que la résultante des forces y passe, mais encore, qu'elle soit perpendiculaire à l'élément de contact du levier et de cet appui.

185. On voit donc, d'après ce que l'on vient de dire, que lorsqu'un corps est tenu en équilibre contre un plan inébranlable, ce plan ne peut détruire que des forces dont les directions lui sont normales aux différens points de contact, et que par conséquent sa résistance ne peut

peut faire naître que de telles forces en sens contraire.

Donc, si un corps de figure quelconque sollicité par des forces quelconques P, Q, R, etc. ne s'appuie contre un plan que par un seul point O, il ne pourra demeurer en équilibre, à moins que toutes les forces P, Q, R qui lui sont appliquées ne soient en équilibre avec une force unique N, qui serait normale à ce plan au point O, et qui représenterait sa résistance actuelle. Donc, *pour l'équilibre d'un corps qui s'appuie par un seul point contre un plan, il faut* 1°. *que toutes les forces appliquées aient une résultante unique;* 2°. *que la direction de cette résultante soit normale au plan;* 3°. *qu'elle passe au point de contact.* Fig. 55.

On voit que ces trois conditions reviennent à celles qu'on a données plus haut pour l'équilibre du levier qui ne fait que poser sur l'appui. Nous aurions pu les trouver par le même raisonnement, et les exprimer de la même manière, en disant: que toutes les forces appliquées étant transportées parallèlement à elles-mêmes au point de contact, doivent y donner une résultante normale au plan; et que tous les couples engendrés doivent donner un couple résultant nul de lui-même.

Fig. 56. 186. Lorsque le corps touche le plan par plusieurs points A, B, C, D etc., chacun des points de contact fait naître une résistance normale au plan en ce point; mais toutes ces résistances qui sont parallèles et de même sens, se composent toujours en une seule dont la direction tombe nécessairement dans l'intérieur du polygone formé par tous les appuis A, B, C, D, etc. Les forces appliquées doivent donc être en équilibre avec cette force unique; et par conséquent, *lorsqu'un corps s'appuie contre un plan par plusieurs points, il faut, pour l'équilibre, que les forces appliquées puissent se réduire à une seule, normale au plan, et dont la direction tombe dans l'intérieur du polygone formé par tous les points de contact.*

On voit par là que si le corps repose par une surface finie, la résultante doit rencontrer le plan en l'un quelconque des points de cette surface.

De la pression exercée sur le plan.

187. Lorsque le corps ne repose que par un seul point, il est clair, d'après ce que nous venons de dire, que la pression exercée par les forces est égale à leur résultante.

Fig. 57. Si le corps repose par deux points A et B,

la résultante N dont la direction tombe nécessairement entre A et B, sur la droite qui joint ces deux points d'appui, se décompose en deux forces parallèles p et q, qui expriment leurs pressions respectives.

Soit O le point où la résultante N va rencontrer la ligne A B; on aura, pour la pression p du point A, $N : p :: AB : BO$; et pour la pression q du point B, $N : q :: AB : AO$; d'où l'on voit que, la résultante ou la pression totale N étant représentée par la distance A B des deux appuis, les deux pressions individuelles de ces points sont représentées réciproquement par leurs distances à la pression totale.

Si le corps repose par trois points A, B, C, la résultante N des forces appliquées doit passer en quelque point O dans l'intérieur du triangle A B C (186). Si de l'un des angles, de l'angle A, par exemple, on mène la ligne A O, et qu'on la prolonge jusqu'à sa rencontre en I avec le côté opposé B C; la force N se décomposera en deux autres parallèles p et n appliquées aux points A et I. Ensuite la force n se décomposera en deux autres parallèles q et r appliquées en B et C; de sorte que les trois forces p, q, r exprimeront les pressions respectives des trois appuis A, B, C. Fig. 58.

Formons autour du point O, comme sommet,

et sur les trois côtés respectifs BC, AC, AB comme bases, les trois triangles BOC, AOC AOB. Si l'on représente la pression totale exercée en O par l'aire du triangle ABC, les pressions exercées aux trois angles A, B, C seront représentées par les aires respectives des triangles BOC, AOC, AOB formés sur les côtés opposés.

Car, la force N appliquée en O, est à la force *p* appliquée en A comme AI est à OI : mais les triangles BAC, BOC, ayant même base BC, sont entr'eux comme leurs hauteurs, ou comme les lignes AI et OI également inclinées sur la base ; on a donc : N : *p* : : ABC : BOC. Mais un même raisonnement prouverait qu'on a, N : *q* : : ABC : AOC ; et N : *r* : : ABC : AOB ; donc, etc.

188. Lorsque le corps s'appuie sur le plan par plus de trois points, ou seulement par trois (s'ils tombent en ligne droite) les pressions individuelles des appuis sont indéterminées, parce qu'il y a une infinité de manières de décomposer la force N en d'autres forces parallèles appliquées en ces points.

Il suffit que ces pressions individuelles satisfassent à ces conditions : 1°. qu'elles soient toutes de même sens que la pression totale ; 2°. qu'elles

puissent se composer en une seule, égale à cette pression totale, et appliquée au même point O. Cette dernière condition exige trois équations dont la première exprime que la somme des pressions est égale à la pression totale; et les deux autres, que la somme des momens des pressions individuelles, par rapport à deux axes quelconques tirés dans le plan des appuis, est égale au moment de la pression totale, par rapport aux mêmes axes (125).

189. Si l'on veut considérer actuellement l'équilibre d'un corps qui s'appuie à la fois contre plusieurs plans, on observera que chacun de ces plans fait naître, aux divers points de contact, des résistances de même sens, perpendiculaires à ce plan, et qui, par conséquent, se composent toujours en une seule perpendiculaire au même plan. Il faut donc que toutes les forces appliquées soient en équilibre avec ces diverses résistances, qui seront en même nombre que les plans d'appui; et par conséquent, les forces qui tiennent en équilibre un corps appuyé sur plusieurs plans, doivent toujours se réduire à autant de forces, dirigées perpendiculairement vers ces plans respectifs, et qui tombent, pour chacun d'eux, dans l'intérieur du polygone formé par les points de contact.

190. On voit par là que si le corps ne s'appuie que sur deux plans, en deux points, par exemple, et n'est sollicité que par une seule force, ou par des forces qui aient une résultante unique ; cette force ou cette résultante unique doit pouvoir se décomposer en deux autres dirigées suivant les normales menées aux deux plans par les points de contact. Ainsi il faut que les deux normales aillent concourir en un même point situé sur la direction de la force qui presse le corps, et se trouvent dans un même plan avec elle. D'ailleurs, cette force doit être dirigée dans l'angle des deux normales qui est opposé à celui des deux plans, et son action doit avoir lieu vers cet angle, afin que ses deux composantes suivant les deux normales tendent à pousser le corps contre les plans, c'est-à-dire, en sens contraires des résistances qu'ils font naître.

191. Si le corps s'appuie par trois points sur trois plans différens, la force qui le presse doit être reductible à trois autres dirigées suivant les trois normales menées aux plans par les points de contact.

Mais il ne faut pas conclure delà que les trois normales doivent concourir en un même point sur la direction de la force, ni même qu'il

doive y avoir une seule rencontre entre deux de ces quatre lignes; car, trois forces qui ne se rencontrent pas peuvent se composer en une seule, et une seule force peut se décomposer suivant trois directions qui ne rencontrent pas la sienne, et qui ne se rencontrent pas entr'elles (109).

192. Ce que nous venons de dire contient toute la théorie de l'équilibre des corps qui s'appuient sur des plans. Nous allons en faire quelques applications très-simples.

Soit un corps de figure quelconque, appuyé par un nombre quelconque de points, ou par une base finie, contre un plan inébranlable LDK, et sollicité par deux forces P et Q qui le tiennent en équilibre sur ce plan. Fig. 59.

D'après ce qu'on a trouvé (186), les deux forces P et Q doivent donner une résultante unique N, normale au plan; par conséquent leurs directions doivent concourir en quelque point, comme en F, et se trouver dans un plan perpendiculaire au plan LDK. De plus, la direction de cette résultante doit aller rencontrer le plan LDK en l'un des points de contact du corps, ou dans l'intérieur du polygone formé par les points de contact.

Supposons que toutes ces conditions soient

remplies, et voyons simplement quels sont les rapports des forces P, Q, et de la pression N exercée sur le plan.

Puisque les forces P et Q ont une résultante normale au plan, il faut que ces deux forces soient réciproquement proportionnelles aux sinus des angles PFN, QFN, que leurs directions forment avec la normale abaissée du point F sur ce plan : car on a vu (36) que deux composantes sont toujours en raison réciproque des sinus des angles que leurs directions forment avec celle de leur résultante, on a donc :

$$Q : P :: \sin. PFN : \sin. QFN.$$

On a d'ailleurs pour la résultante N,

$$P : N :: \sin. QFN : \sin. PFQ;$$

de sorte que chacune des forces P, Q, N, peut être représentée par le sinus de l'angle formé par les directions des deux autres.

Ainsi toutes les questions que l'on pourrait proposer sur les rapports des trois forces P, Q, N, et sur leurs directions, se réduisent à la résolution d'un triangle dont les trois côtés représenteraient les grandeurs des forces P, Q, N; et les trois angles, leurs inclinaisons mutuelles.

193. SUPPOSONS que la force P représente le poids du corps lui-même; sa direction F P sera verticale, et passera au centre de gravité de ce corps.

Menons le plan horizontal L D H qui coupe le premier suivant L D, et nommons le plan L D K sur lequel le corps s'appuie, le *plan incliné*. Le plan des deux forces P et Q, qui sera, d'une part, perpendiculaire au plan incliné, comme passant par la normale F N; et de l'autre, perpendiculaire au plan horizontal, comme passant par la verticale F P, coupera ces deux plans suivant deux droites A B, A C, perpendiculaires à leur commune intersection L D, et qui comprendront entre elles l'angle formé par le plan incliné avec l'horizon.

Représentons simplement le plan horizontal par l'horizontale A C, et le plan incliné, par la ligne A B oblique à la première. D'un point quelconque B pris sur A B, abaissons une perpendiculaire B C sur A C; et dans le triangle rectangle A B C, nommons, suivant l'usage, l'hypothénuse A B, la *longueur* du plan incliné; le côté B C, sa *hauteur*, et le côté A C, sa *base*. Fig. 6

La ligne F P étant perpendiculaire à A C; l'angle P F N sera égal à l'angle B A C, et la

proportion Q : P : : sin. P F N : sin. Q F N, deviendra :

Q : P : : sin. B A C : sin. Q F N.

Si la puissance Q est donnée en grandeur seulement, on trouvera par cette proportion, où il n'y aura que sin. Q F N d'inconnu, sous quel angle Q F N cette puissance doit agir pour faire équilibre au poids P. Or, comme à un même sinus répondent deux angles supplémens l'un de l'autre, on voit que la même puissance Q pourra être employée de deux manières différentes pour faire équilibre à la résistance ; soit en faisant avec la normale F N au plan incliné, un angle Q F N trouvé par la proportion ci-dessus ; soit en faisant avec la même ligne l'angle, Q' F N supplément du premier.

On trouvera par la même proportion, la grandeur de la puissance Q, lorsque l'on connaîtra sa direction, ou l'angle Q F N qu'elle forme avec la normale.

194. Le cas où la puissance Q est la plus petite à l'égard de la résistance P, est celui où l'angle Q F N a le plus grand sinus, puisque la puissance est toujours en raison inverse de ce sinus : mais le plus grand sinus répond à

l'angle droit : donc la puissance est alors perpendiculaire sur la normale F N, ou parallèle au plan incliné.

Dans ce cas, l'angle Q F N est égal à l'angle droit A C B, et la proportion précédente devient : Q : P : : sin. B A C : sin. A C B ; mais dans le triangle A B C, les sinus des angles A et C sont proportionnels aux côtés opposés B C, A B ; et par conséquent l'on a : Fig. 61.

$$Q : P : : B C : A B.$$

C'est-à-dire, que *lorsque la puissance est parallèle au plan incliné, elle est au poids du corps qu'elle y retient en équilibre, comme la hauteur du plan est à sa longueur.*

195. Un corps pesant, abandonné à lui-même sur un plan incliné, ne tend donc à glisser le long de ce plan qu'en vertu de la pesanteur diminuée dans le rapport de la hauteur du plan à sa longueur : et c'est cette pesanteur le long du plan que l'on nomme la *pesanteur relative*, par rapport à la pesanteur le long de la verticale, que l'on nomme *pesanteur absolue*. On voit que la pesanteur absolue étant représentée par la longueur du plan incliné, la pesanteur relative est représentée par sa hau-

teur ; ou bien, la pesanteur absolue étant représentée par le sinus de l'angle droit ou par l'unité, la pesanteur relative est représentée par le sinus de l'inclinaison du plan. Lorsque cette inclinaison est nulle, ou lorsque le plan est horizontal, la pesanteur relative est nulle, et le corps reste en repos sur le plan, comme cela doit être : lorsque l'inclinaison du plan est égale au tiers d'un angle droit, la pesanteur relative est la moitié de la pesanteur absolue : elle se confond enfin avec la pesanteur absolue, lorsque l'inclinaison du plan est égale à l'angle droit, et que par conséquent le plan incliné est devenu vertical.

En général, pour comparer les pesanteurs relatives sur des plans différemment inclinés, on n'aura qu'à comparer les sinus de leurs inclinaisons.

Fig. 62. Donnons la même hauteur B C à deux plans différemment inclinés, et adossons-les comme on le voit dans la figure : les pesanteurs le long de ces plans seront réciproques à leurs longueurs A B, B D; car elles sont directement proportionnelles aux sinus des angles A et D qui mesurent les inclinaisons des plans ; et dans le triangle A B D, ces sinus sont proportionnels aux côtés opposés B D et A B.

Donc, si l'on a deux corps pesans M et N,

appuyés sur ces plans adossés, et qu'on les lie entr'eux par un fil qui passe sur une poulie de renvoi placée en B, de manière que les deux parties rectilignes du fil soient parallèles à ces plans respectifs; ces deux corps ne pourront se faire équilibre, à moins que leurs masses ne soient proportionnelles aux longueurs AB et BD des deux plans sur lesquels ils reposent.

196. Lorsque la puissance Q est horizontale, et par conséquent parallèle à la base AC du plan incliné, l'angle QFN devient égal à l'angle ABC, et l'on a: Fig. 63.

$$Q : P :: \sin. BAC : \sin. ABC,$$

ou bien :

$$Q : P :: BC : AC;$$

c'est-à-dire, que *si la puissance est horizontale, elle est au poids du corps qu'elle tient en équilibre sur le plan incliné, comme la hauteur du plan est à sa base.*

197. Le cas où la puissance est la plus grande à l'égard du poids, est le cas où l'angle QFN devient nul. La puissance Q est alors perpendiculaire au plan incliné, et la proportion

$Q : P :: \sin. BAC : \sin. QFN$, donne pour sa valeur, $Q = \frac{P \times \sin. BAC}{0} = \infty$.

Il n'y a donc pas, à proprement parler, de *maximum* pour la puissance; mais ce résultat nous apprend qu'aucune force, quelque grande qu'elle soit, ne peut empêcher un corps pesant de glisser le long d'un plan incliné, en le pressant perpendiculairement contre ce plan. Si nous voyons tous les jours arriver le contraire, c'est que les surfaces des corps, même les mieux polis, sont hérissées d'une infinité d'aspérités qui s'engagent entr'elles dans le contact de ces surfaces, et les empêchent de glisser librement les unes sur les autres. Or nous avons fait abstraction de cette propriété des corps, et de la résistance particulière qui en résulte et que l'on nomme la *force du frottement.*

198. Lorsqu'un corps pesant s'appuie à la fois sur plusieurs plans inclinés, en considérant son poids comme une force verticale qui passe par son centre de gravité, on trouvera les conditions de l'équilibre d'après ce qui a été dit (189), et les pressions respectives que souffrent les points de contact, lorsque ces pressions seront déterminées.

Si nous considérons simplement le cas où
Fig. 64. le corps est soutenu aux deux points I et O

par deux plans inclinés HI, HO, il faudra (190) que les deux normales IA, OA, à ces plans, aillent concourir en un même point A de la verticale GP qui passe au centre de gravité G du corps, et qui représente la direction de son poids. De plus, comme le poids P de ce corps doit pouvoir se décomposer suivant ces normales, il faudra qu'elles soient toutes deux dans un même plan avec la direction GP, et par conséquent dans un plan vertical.

Ces conditions suffisent pour l'équilibre ; et si l'on prend, sur la direction du poids une partie quelconque AD qui représente sa quantité, et qu'on achève sur AD comme diagonale, et suivant les directions AI et AO, le parallélograme ABCD, la force P se décomposera en deux autres représentées par les côtés AB et AC de ce parallélogramme. Ces deux forces seront respectivement détruites par les deux plans inclinés, et donneront en même temps les valeurs de leurs pressions individuelles.

Observons que le plan des deux normales IA, OA, étant à la fois perpendiculaire aux deux plans inclinés, est perpendiculaire à leur commune intersection : mais ce plan est en même temps vertical, puisqu'il passe par la verticale GP : donc la commune intersection des deux plans inclinés doit être perpendicu-

laire à un plan vertical : donc elle est horizontale. Ainsi un corps pesant ne peut rester en équilibre entre deux plans inclinés, à moins que leur intersection ne soit horizontale; ce qui paraissait d'ailleurs assez évident.

De la Vis.

199. LA *vis* est une machine qui se rapporte à la fois au levier et au plan incliné. On y considère en général l'équilibre d'un corps qui se trouve en même temps assujetti à tourner autour d'un axe fixe, et à descendre uniformément le long de cet axe, en s'appuyant sur une surface inclinée.

Mais pour expliquer clairement la construction de cette machine, considérons d'abord un cylindre droit A B C D que l'on développe
Fig. 65. sur un plan. Le développement est un rectangle B E M C dont la base B E est égale en longueur à la circonférence du cylindre, et peut s'exprimer par $2\varpi r$, en nommant r le rayon du cylindre, et ϖ le rapport de la circonférence au diamètre.

Divisons le côté B C en parties égales B R, R Q, Q P, etc.; et après avoir pris sur E M la partie E G = B R, menons B G, et les parallèles R H, Q K, etc.

Si l'on replie le rectangle BEMC sur le cylindre, la

la suite des droites BG, RH, etc. tracera sur sa surface une courbe continue que l'on nomme *hélice :* la première droite BG, formant une portion de l'hélice, qui commencera en B, et aboutira en R où elle sera continuée par la seconde droite RH, et ainsi de suite. Chacune de ces portions de l'hélice, dont les deux extrémités viennent aboutir sur la même génératrice, et qui fait ainsi le tour entier du cylindre, se nomme *spire ;* et l'intervalle compris entre deux spires consécutives, mesuré le long de la génératrice, et qui est partout le même, se nomme le *pas* de l'hélice.

Puisque dans le développement du cylindre, l'hélice est une suite de lignes droites parallèles, il est clair que la propriété caractéristique de l'hélice est d'être partout également inclinée aux diverses génératrices qu'elle va rencontrer sur la surface cylindrique. Lorsque le cylindre est vertical, elle est donc partout également inclinée à l'horizon, et un point a qui repose sur cette hélice, et qui peut être regardé comme situé sur la tangente en ce point, est dans le même cas que s'il reposait en a' sur un plan incliné QHK dont la base est $QH = 2\pi r$, et dont la hauteur HK est égale au pas de l'hélice, et sera désigné simplement par h.

200. Si l'on suppose donc que le point a soit pressé sur l'hélice par une force verticale p, et soit retenu en même temps par une force horizontale f, qui appliquée tangentiellement au cylindre, empêche ce point de glisser sur l'hélice, on aura (194):

$$f : p :: HK : QH,$$

ou

$$f : p :: h : 2\varpi r.$$

Menons par le point a l'horizontale ao qui rencontre en o l'axe FI du cylindre, que je suppose fixe. Prolongeons indéfiniment cette droite, et considérons-la comme un levier inflexible, mobile autour du point fixe o.

Au lieu d'appliquer immédiatement au point a une force horizontale f, pour retenir ce point sur l'hélice, on pourrait appliquer une autre force parallèle q en un point quelconque du levier bo; et cette force q ferait sentir au point a la même impression que la force f, si elle était à celle-ci dans la raison réciproque des deux bras de levier bo et ao, c'est-à-dire, (en faisant $bo = R$, et observant que ao est le rayon r du cylindre), si l'on avait:

$$q : f :: r : R;$$

mais on a trouvé ci-dessus :

$$f : p :: h : 2 \varpi r.$$

Donc, en multipliant par ordre, on aura :

$$q : p :: h : 2 \varpi \mathrm{R}.$$

C'est-à-dire, que la puissance horizontale q sera à la force verticale p qui presse le point a sur l'hélice, comme le pas de l'hélice est à la circonférence que tend à décrire la puissance q autour de l'axe du cylindre.

Observons que le rayon r du cylindre, ou la distance de l'hélice à l'axe, n'entre plus dans cette proportion. Ainsi l'on aura toujours le même rapport entre la puissance q et la force p, quel que soit le cylindre sur lequel l'hélice est tracée, pourvu que le pas de cette hélice soit le même.

On ne doit pas perdre de vue d'ailleurs que l'on n'a supposé le cylindre vertical, que pour mieux fixer les idées et simplifier le discours; mais que tout ce qu'on a dit de la force verticale p et de la puissance horizontale q, doit s'entendre en général d'une force parallèle à l'axe du cylindre, et d'une puissance qui agirait dans un plan perpendiculaire au même axe, à la distance R de cette ligne.

201. Actuellement il n'est pas difficile de définir la vis et de trouver les conditions de son équilibre.

Fig. 66 et 67. La vis est un cylindre droit revêtu d'un filet saillant, qui est engendré par le plan d'un triangle ou d'un parallélograme qui, s'appuyant par sa base sur une génératrice, tourné autour de l'axe du cylindre, en descendant le long d'une hélice tracée sur sa surface. Tous les points qui composent le filet de la vis peuvent donc être regardés comme appartenans à des hélices décrites sur des cylindres de même axe, mais de rayons différens. Or toutes ces hélices ont évidemment le même pas; et c'est ce que l'on nomme le *pas* de la vis.

La génération de l'*écrou* est la même. Concevons une pièce M, de figure quelconque, pénétrée par le cylindre : le triangle ou le parallélograme qui produit sur le cylindre le filet de la vis, produira dans l'intérieur de cette pièce un sillon ou creux, parfaitement égal au filet, et que celui-ci remplira exactement; et cette seconde pièce, qui peut être regardée comme le moule de la première, forme l'*écrou* de la vis.

Maintenant, si l'une de ces deux pièces est fixe, il est clair que l'autre lui est tellement assujettie, qu'elle n'a plus que la liberté de

tourner autour de l'axe du cylindre, et de descendre en même temps sur la seconde, comme sur une surface inclinée. Il y a donc entre les forces qui se feraient équilibre sur la pièce mobile, des relations particulières qui dépendent de son assujettissement à la seconde; et ce sont ces relations qui constituent les conditions de l'équilibre dans la vis.

On ne considère ordinairement que deux forces appliquées à la pièce mobile : l'une P parallèle à l'axe, et qui tend à la faire descendre en tournant autour de cet axe; l'autre Q située dans un plan perpendiculaire à l'axe, et qui, au moyen d'un levier, tend à la faire remonter en sens contraire. Pour fixer les idées, nous supposerons ici que l'écrou soit mobile, et que la vis soit fixe; le rapport des deux forces P et Q serait absolument le même dans le cas où l'écrou étant fixe, la vis serait mobile. Fig. 66.

D'abord, si l'écrou ne posait que par un seul point sur le filet de la vis, en nommant h le pas de la vis, et R le bras de levier de la puissance ou la distance à l'axe, on aurait, d'après ce qu'on a vu :

$$Q : P :: h : 2\pi R.$$

Mais, en quelque nombre de points que l'écrou s'appuie sur le filet, on peut imaginer que

la résistance P est décomposée en autant de forces parallèles p, p', p'', etc. qui pressent en ces différens points; et que la puissance Q est partagée en autant de forces q, q', q'', etc. dont chacune fait équilibre en particulier à la force qui lui répond parmi les forces p, p', p'', etc. et comme on a constamment :

$$q : p :: h : 2\varpi R,$$
$$q' : p' :: h : 2\varpi R,$$
$$q'' : p'' :: h : 2\varpi R,$$
etc.

on aura :

$$q+q'+q''\ldots \text{ ou } Q : p+p'+p''\ldots \text{ ou } P :: h : 2\varpi R.$$

C'est-à-dire, que *dans l'équilibre de la vis, la puissance qui tend à faire tourner l'écrou, est à la résistance qui le presse dans le sens de l'axe, comme le pas de la vis est à la circonférence que tend à décrire la puissance.*

Ainsi la puissance a d'autant plus d'avantage pour contrebalancer la résistance, ou pour comprimer dans le sens de l'axe de la vis, que cette puissance agit à une plus grande distance de l'axe, et que le pas de la vis est moindre.

Du Coin.

202. Le coin est un prisme triangulaire A F que l'on introduit par l'une de ses arêtes E F entre deux obstacles, pour exercer latéralement deux efforts qui tendent à les écarter. Fig. 68

L'arête E F par laquelle le coin tend à s'enfoncer, se nomme le *tranchant* du coin; les deux faces adjacentes A D F E, B C F E, se nomment les *côtés*, et la face opposée A B C D, la *tête*.

C'est sur cette face qu'on applique le coup au moyen d'un marteau ou d'un corps quelconque. Quelle que soit la direction du choc, on peut toujours concevoir son action comme décomposée en deux autres, l'une perpendiculaire à la tête du coin, et qui obtient tout son effet sur lui; l'autre parallèle, et qui ne lui imprime aucun mouvement, parce qu'elle ne peut tendre qu'à faire glisser le marteau sur ce coin.

Nous supposerons donc sur-le-champ que la puissance soit appliquée perpendiculairement à la tête du coin, et nous chercherons simplement les efforts qui en résultent contre les deux obstacles perpendiculairement aux deux côtés.

Par la direction de la puissance P, et per-

Fig. 69. pendiculairement aux arêtes du coin, faisons passer une section MNO; la ligne MN pourra représenter la tête du coin, et les deux lignes MO et NO les deux côtés. D'un point A pris sur la direction de la puissance, abaissons deux perpendiculaires AB, AC sur les côtés MO, NO; prenons la partie AD qui représente la quantité et la direction de la puissance P, et achevons le parallélograme ABDC.

La puissance P représentée par AD, se décomposera en deux autres Q et R, représentées par AB et AC, et qui exprimeront les efforts exercés perpendiculairement aux côtés MO, NO.

On aura donc: P : Q : R, comme AD : AB : AC; ou, en mettant BD au lieu de AC, comme AD : AB : BD, c'est-à-dire, comme les trois côtés du triangle ABD.

Mais ce triangle est semblable au triangle MNO, parce que les côtés AD, AB, BD, sont respectivement perpendiculaires aux côtés MN, MO, NO.

On aura donc:

$$P : Q : R :: MN : MO : NO;$$

c'est-à-dire, *que la puissance étant représentée par la tête du coin, les deux forces qui en*

résultent perpendiculairement aux côtés, seront représentées par ces côtés eux-mêmes.

Si le triangle MNO est isoscèle, les deux forces Q et R sont égales, et la puissance P est à l'une d'elles comme la tête du coin est à l'un des côtés, qu'on peut nommer dans ce cas la *longueur* du coin.

On voit par ce que nous venons de dire, qu'à puissances égales, l'effort exercé par le coin est d'autant plus grand, que sa tête est plus petite par rapport à sa longueur.

De quelques Machines composées.

203. JUSQU'A présent nous n'avons considéré qu'un seul corps solide, gêné dans ses mouvemens par différens obstacles; et c'est ce qui forme les diverses machines simples. Nous allons considérer actuellement un assemblage de machines simples qui réagissent les unes sur les autres en vertu de leur liaison mutuelle; et c'est ce que l'on nomme une machine composée.

Si l'on ne suppose que deux forces appliquées à la machine composée, on voit que la machine simple qui reçoit immédiatement l'action de l'une d'elles, transmet cette action, d'après les lois de son équilibre, à la machine simple avec laquelle elle est liée; que celle-ci la

transmet de même à la machine suivante, et ainsi de suite, jusqu'à la dernière qui communique l'action à la seconde force, ou à la résistance qu'il faut vaincre. Ainsi il est toujours facile de déterminer le rapport de la puissance à la résistance, par une suite de proportions données par les lois de l'équilibre des machines intermédiaires; et c'est ce qu'on va vérifier tout-à-l'heure sur quelques exemples très-simples.

Mais nous devons faire observer que les questions suivantes se rapportent naturellement au problème le plus général de la Statique, c'est-à-dire, font partie de cette théorie étendue où l'on recherche les lois de l'équilibre dans les systèmes dont la figure est variable suivant des conditions quelconques données. Les deux axiomes qui servent de base à cette théorie, sont:

1°. Que si un système quelconque de points est en équilibre, chaque point doit être en équilibre de lui-même, tant en vertu des forces qui lui sont immédiatement appliquées, qu'en vertu des résistances ou réactions qu'il éprouve de la part des autres points du système.

2°. Que deux points ne peuvent agir l'un sur l'autre que dans la direction de la droite qui les joint; et que l'action est toujours égale et contraire à la réaction.

Au moyen de ces deux axiomes, et des conditions connues de l'équilibre d'un corps libre, on peut trouver les conditions de l'équilibre d'un système quelconque de corps, pourvu qu'on sache évaluer les résistances qui naissent de leurs liaisons mutuelles : car, ces résistances étant une fois évaluées, il ne s'agit plus que de les combiner avec les forces données immédiatement par la question, et d'exprimer les conditions de l'équilibre de chaque corps, comme s'il était parfaitement libre dans l'espace.

Quoique nous ne puissions, sans passer les bornes de cet ouvrage, traiter ici ce sujet avec toute la généralité dont il est susceptible, nous donnerons néanmoins les conditions de l'équilibre de quelques systèmes variables qu'on emploie souvent dans les arts, et que l'on a coutume de considérer dans les élémens de Statique, parce que les réactions des différens corps les uns sur les autres y sont très-faciles à évaluer, et ne supposent guère que la composition des forces et les deux axiomes précédens.

Des Cordes.

204. Considérons premièrement un *polygone funiculaire*, c'est-à-dire, un assemblage de

conséquent divise en deux parties égales l'angle F A F′ formé par les rayons vecteurs.

Ainsi, dans le cas d'un nœud coulant, les deux parties de la corde le long de laquelle le nœud peut glisser, doivent être également tendues.

207. On voit en même temps, que si l'on suppose le point ou l'anneau A fixe, les deux forces Q et R appliquées au cordon Q A R qui passe sur cet anneau doivent être égales entr'elles pour l'équilibre; et que la pression exercée par les deux forces sur le point fixe A, est dirigée suivant la ligne qui divise en deux parties égales l'angle formé par les deux parties du cordon.

Fig. 72. 208. Actuellement soient plusieurs points A, B, C, liés entr'eux par des cordons A B, B C, et tirés par des forces S, P, Q, R, T suivant d'autres cordons, mais de manière que chacun des points ou nœuds A, B, C n'en assemble pas plus de trois en même temps.

Si tout le système est en équilibre, chaque point doit être en équilibre de lui-même, en vertu des forces qui lui sont appliquées, et des tensions des cordons adjaçens. Le point A, par exemple, n'étant lié immédiatement qu'au seul point B, doit être en équilibre en vertu des deux forces S et P, et de la tension du cordon A B; car, les autres points C, etc. ne peuvent réagir sur lui que par le cordon A B.

Il faut donc que les trois cordons AS, AP, AB soient dans un même plan; et, si l'on nomme X la tension du cordon AB, que l'on ait les rapports suivans :

$$S : P :: \sin. PAB : \sin. SAB,$$

$$P : X :: \sin. SAB : \sin. SAP.$$

De même, le point B doit être en équilibre en vertu de la force Q et des tensions suivant AB et BC. Or, la tension du cordon AB est la même que tout-à-l'heure; car, l'action du point A sur le point B est parfaitement égale et contraire à l'action du point B sur le point A. Nous avons nommé X cette tension, nommons Y celle du cordon BC; on aura :

$$X : Q :: \sin. QBC : \sin. ABC,$$

$$Q : Y :: \sin. ABC : \sin. QBA.$$

L'équilibre du point C donnera de même :

$$Y : R :: \sin. RCT : \sin. BCT,$$

$$R : T :: \sin. BCT : \sin. RCB.$$

Et ainsi de suite s'il y avait un plus grand nombre de points.

En multipliant par ordre un nombre convenable de ces propositions, on trouvera le rapport de l'une quelconque des forces, à telle autre force ou tension que l'on voudra. Si l'on multiplie les trois premières, par exemple, on aura le rapport de S à Q. Si l'on multiplie les quatre premières, on aura celui de S à la tension Y, etc. etc.

209. Si les directions prolongées des forces P, Q, R divisent en deux parties égales les angles respectifs, S A B, A B C, B C T, du polygone funiculaire, les cordons A S, A B, B C, C T seront tous également tendus. Car, on aura par les rapports précédens :

$$S = X, \quad X = Y, \quad Y = T.$$

Donc si, au lieu des forces P, Q, R, on substitue des points fixes A, B, C par dessus lesquels passe la corde S A B C T, les deux forces S et T qui tirent les extrémités de cette corde, seront égales entr'elles, et la corde sera partout également tendue. Car, chacun des points fixes A, B, C tient lieu d'une force qui divise en deux parties égales l'angle formé par les deux parties de la corde qui y passe (207).

210. Ainsi, lorsque deux forces tendent une corde

corde sur le contour d'un polygone ou d'une courbe quelconque, ces deux forces sont nécessairement égales entr'elles pour l'équilibre, et la tension se communique également dans toute l'étendue de la corde.

211. Le polygone funiculaire S A B C T étant en équilibre en vertu des forces S, P, Q, R, T, concevons que sa figure devienne parfaitement invariable, de manière que les points A, B, C ne puissent plus changer leurs distances mutuelles; il est clair que l'équilibre subsistera toujours. Mais alors les forces S, P, Q, R, T étant en équilibre sur un système solide, l'une d'elles est égale et directement opposée à la résultante de toutes les autres. Or comme la résultante de diverses forces disposées comme on voudra dans l'espace, est la même que si toutes ces forces étaient réunies parallèlement à elles-mêmes en un point quelconque de sa direction, il s'ensuit que *chaque cordon est tendu par la force qui le sollicite, comme il le serait par la résultante de toutes les autres forces qu'on y transporterait parallèlement à elles-mêmes.*

212. Lorsque les cordons extrêmes A S, C T sont dans un même plan, les deux forces S et T ont une résultante, et d'après ce qu'on vient de

dire, cette force doit être égale et directement opposée à la résultante V des autres forces P, Q, R, comme si le polygone était invariable de figure. La résultante des forces P, Q, R appliquées aux angles du polygone doit donc passer par le point O où vont concourir les cordons extrêmes; et par conséquent si les deux extrémités S et T de ces cordons sont fixes, on aura sur-le-champ les deux efforts que supportent ces points fixes, ou les tensions des cordons A S, A T, en décomposant, au point O, la résultante V en deux forces M et N dirigées suivant ces cordons.

Fig. 73. 213. Lorsque les directions des forces P, Q, R sont toutes parallèles, on a toujours pour les forces et les tensions des cordons les mêmes rapports que ci-dessus (208); mais il faut une condition de plus pour l'équilibre : c'est que toutes les forces P, Q, R et les côtés du polygone soient dans un même plan. Car, autour de chaque nœud, les cordons doivent être dans un même plan (204). Mais, si le cordon B Q est parallèle au cordon A P, le plan P A B des trois premiers cordons est le même que le plan A B Q des trois suivans, et ainsi de suite.

Fig. 74. 214. On peut considérer une corde pesante comme un fil chargé d'une infinité de petits poids

distribués sur toute sa longueur, ou comme un fil sollicité en tous ses points par de petites forces verticales et par conséquent parallèles. On voit donc que si cette corde est attachée à deux points fixes S et T, elle ne peut demeurer en équilibre à moins qu'elle ne soit toute entière dans un plan vertical. Elle forme alors un polygone funiculaire d'une infinité de côtés, ou plutôt une ligne courbe que l'on nomme la *chaînette*.

Pour trouver les efforts que la corde exerce sur les deux points S et T qui la soutiennent, on menera à la courbe en ces points deux tangentes SO, TO qui seront comme les prolongemens des derniers côtés du polygone funiculaire; appliquant ensuite au point O une force égale à la résultante de toutes les forces qui la sollicitent, c'est-à-dire, égale au poids total de la corde, on décomposera cette force en deux autres dirigées suivant les tangentes OS, OT, et qui exprimeront les charges respectives des deux points de suspension (212).

215. Ce qu'on vient de dire d'une corde pesante, ou d'un assemblage de petits corps pesans unis ensemble par un fil inextensible, pourrait s'appliquer à plusieurs globules appuyés les uns contre les autres, et qui se soutiendraient

mutuellement en voûte. Ils doivent affecter alors la forme d'une chaînette renversée. Car, si tous ces globules, à cause de leur impénétrabilité mutuelle, sont en équilibre en vertu de leurs poids, ou des forces verticales qui les sollicitent, il est clair qu'ils demeureraient encore en équilibre, si ces forces venaient toutes à agir en sens contraire, pourvu qu'alors on supposât tous ces globules liés deux à deux par un fil inextensible. Mais alors ce fil formerait une chaînette renversée : donc il y a actuellement cette figure.

Des poulies et des mouffles.

Fig. 75. 216. Considérons maintenant un système de poulies mobiles A, A′, A″. La première A, qui soutient un poids P attaché à sa chappe, se trouve embrassée par une corde, dont l'une des extrémités F est fixe, tandis que l'autre est attachée à la chappe de la poulie suivante A′; cette seconde poulie est de même embrassée par une corde dont l'une des extrémités F′ est fixe, tandis que l'autre est attachée à la chappe de la troisième poulie A″; et ainsi de suite jusqu'à la dernière dont le cordon arrêté d'une part à un point fixe F″, est tiré de l'autre par une puissance Q.

Si tout le système est en équilibre, chaque poulie est en équilibre d'elle-même, en vertu des forces ou des tensions qui agissent sur elle.

Ainsi nommant r, r', r'' les rayons respectifs des poulies c, c', c'' les sous-tendantes des arcs embrassés par les cordons; X la tension du premier cordon; Y, celle du suivant.

On aura pour l'équilibre de la poulie A (179):

$$X : P :: r : c$$

on aura de même pour l'équilibre de la poulie A':

$$Y : X :: r' : c'$$

et pour la troisième A'':

$$Q : Y :: r'' : c''$$

et multipliant par ordre, il viendra :

$$Q : P :: r\,r'\,r'' : c\,c'\,c''.$$

C'est-à-dire, *la puissance est à la résistance comme le produit des rayons des poulies est au produit des sous-tendantes des arcs embrassés par les cordons.*

Fig. 76. 217. Si tous les cordons deviennent parallèles, les sous-tendantes c, c', c'' deviennent égales aux diamètres $2r$, $2r'$, $2r''$, et l'on a en divisant les deux termes du dernier rapport par le produit $r\,r'\,r''$:

$$Q : P :: 1 : 2.2.2.$$

C'est-à-dire, qu'en général, *la puissance sera au poids comme l'unité est au nombre* 2 *élevé à une puissance marquée par le nombre des poulies.*

C'est le cas le plus favorable à la puissance ; car, le produit des sous-tendantes c, c', c'' est le plus grand possible, lorsqu'elles sont égales aux diamètres.

Si, dans chaque poulie, l'arc embrassé par la corde était le tiers de la demie circonférence, les sous-tendantes de ces arcs seraient égales aux rayons respectifs des poulies, et la puissance serait égale au poids.

Fig. 77, 78, 79. 218. Une *moufle* est un système de poulies assemblées dans une même chappe, ou sur des axes particuliers *fig.* 77 *et* 78, ou sur le même axe *fig.* 79.

Considérons deux mouffles l'une fixe, et l'autre mobile, et supposons que toutes les poulies soient embrassées par une même corde attachée par une extrémité à la chappe de l'une des mouffles, et tirée à l'autre extrémité par une puissance Q, qui fait équilibre à un poids P suspendu à la mouffle mobile.

Si l'on suppose, ce qui a presque toujours lieu d'une manière sensible, que les diverses parties de la corde soient parallèles, il est visible qu'on aura, *la puissance* Q *à la résistance* P, *comme l'unité est au nombre des cordons qui soutiennent la mouffle mobile*. Car, toutes les poulies étant embrassées par la même corde, et devant être en équilibre chacune en particulier, les cordons sont également tendus. On peut donc considérer le poids P comme soutenu par autant de forces égales et parallèles qu'il y a de cordons qui vont directement d'une mouffle à l'autre, et par conséquent la tension de l'un de ces cordons, ou la puissance Q est au poids P, comme l'unité est au nombre de ces cordons.

Ainsi dans le cas de la *fig.* 77. la puissance est le sixième de la résistance; et dans le cas de la *fig.* 78., elle n'en est que le cinquième, parce qu'il y a un cordon de moins pour soutenir la mouffle mobile.

Fig. 80. 219. Considérons enfin un système de tours A, A′, A″ qui réagissent les uns sur les autres, comme on le voit dans la figure. Soient r, r', r'' les rayons respectifs de leurs cylindres, et R, R′, R″ ceux de leurs roues. La corde appliquée tangentiellement au premier cylindre, porte un poids P, et la corde appliquée à la roue, au lieu d'être tirée immédiatement par une puissance, est attachée au cylindre du second tour A′. La roue de celui-ci est de même tirée par une corde qui passe sur le cylindre du troisième tour A″; et ainsi de suite jusqu'au dernier dont la roue est tirée par la puissance Q.

Si le système est en équilibre, chaque tour est en équilibre de lui-même en vertu des tensions des cordons qui sollicitent le cylindre et la roue. Ainsi, en nommant X la tension du cordon qui va du premier tour au second, on aura (180):

$$X : P :: r : R$$

en nommant Y celle du cordon suivant, on aura :

$$Y : X :: r' : R'$$

et de même pour le dernier tour,

$$Q : Y :: r'' : R''.$$

et multipliant par ordre :

$$Q : P :: r.r'.r'' : R.R.R''.$$

C'est-à-dire, *la puissance est à la résistance, comme le produit des rayons des cylindres est au produit des rayons des roues.*

Des roues dentées.

220. Si l'on rapproche tous ces tours de manière que la roue du premier devienne tangente au cylindre du second, et que la roue de celui-ci soit tangente au cylindre du troisième, et ainsi de suite ; et si l'on suppose que chaque roue s'engage au cylindre contigu, de telle sorte qu'elle ne puisse tourner sans faire tourner ce cylindre, et réciproquement ; on pourra supprimer les cordes qui lient tous ces tours, et l'on aura toujours le même rapport que ci-dessus entre la puissance et la résistance.

Pour engager solidement chaque roue avec le cylindre du tour suivant, on pratique à leurs circonférences des *dents* également espacées qui engrènent les unes dans les autres, de manière que chaque roue, qu'on nomme alors *roue dentée* ne peut tourner sur son axe, sans que le cylindre qu'on nomme alors *pignon*, ne tourne en même temps sur le sien. Fig. 81.

On a donc pour l'équilibre de deux forces qui réagissent l'une sur l'autre au moyen des roues dentées : *la puissance est à la résistance comme le produit des rayons des pignons est au produit des rayons des roues.*

Du cric.

Fig. 82. 221. On considère dans le *cric* simple un pignon que l'on fait tourner sur son axe au moyen d'une manivelle : ce pignon engrène avec une barre inflexible dentée, de manière qu'en tournant sur son axe, il oblige la barre à se mouvoir dans le sens de sa longueur. En supposant donc une résistance qui s'oppose directement au mouvement de cette barre, résistance que l'on peut considérer comme une force perpendiculaire à l'extrémité du rayon du pignon, il est visible que l'on aura : *la puissance appliquée à la manivelle est à la résistance, dans le sens de la barre, comme le rayon du pignon est au rayon de la manivelle.*

D'où l'on voit que l'effort exercé par le cric sera d'autant plus considérable que le rayon du pignon sera plus petit par rapport à celui de la manivelle.

Lorsqu'on veut augmenter encore la force du cric sans augmenter le bras de levier de la manivelle, et sans diminuer le rayon du pignon,

au lieu de faire agir immédiatement ce pignon sur la barre dentée, on le fait agir sur une roue dentée intermédiaire; et c'est le pignon de cette roue qui engrène avec la barre. Alors on a pour l'équilibre : *la puissance appliquée à la manivelle, est à la résistance dans le sens de la barre, comme le produit des rayons des deux pignons, est au produit du rayon de la roue par le rayon de la manivelle.*

Nous n'étendrons pas plus loin ces applications. Notre objet principal, dans ces deux derniers Chapitres, était de fixer par quelques exemples très-simples, les principes que nous avions établis et développés dans les deux Chapitres précédens. Nous avons cru devoir indiquer en même temps la marche que l'on peut suivre pour trouver les conditions de l'équilibre dans quelque machine que ce soit; et c'est ce qui ne peut offrir aucune difficulté, d'après ce qu'on a dit aux n^os. (203) et suivans, surtout lorsque l'on ne considérera que deux forces appliquées à la machine.

FIN.

A PARIS, DE L'IMPRIMERIE DE CLOUSIER, RUE St.-JACQUES, N°. 30.

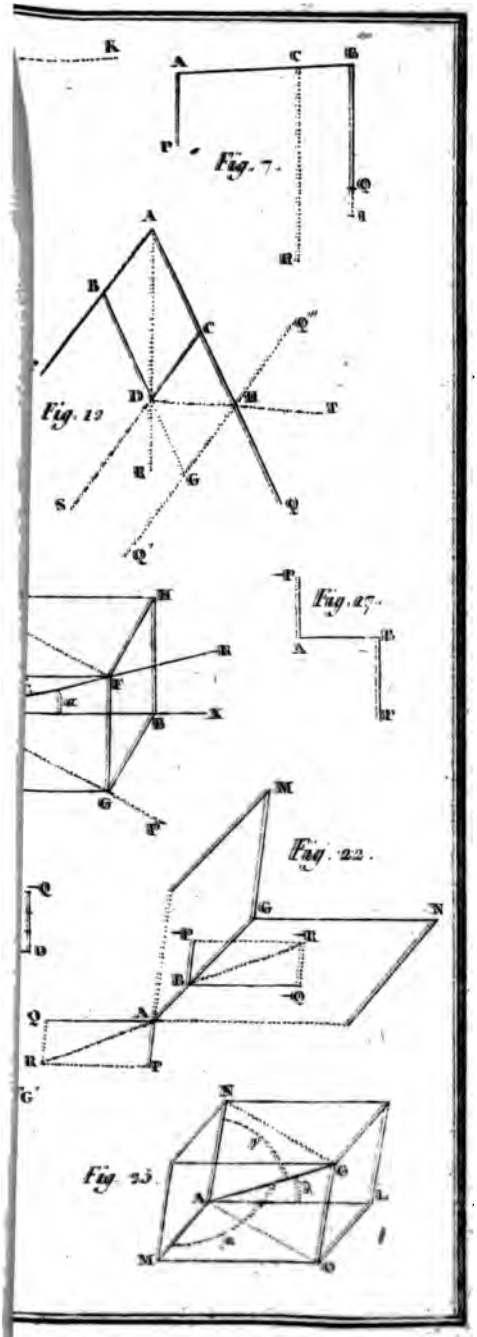
K
A
C
B
P
Q
R
Fig. 7.
A
B
C
Q''
D
E
T
S
R
G
Q
Q'
Fig. 19
P
Fig. 27.
A
B
P
H
R
F
α
X
B
G
P'
M
Fig. 22.
G
N
Q
D
P
R
B
Q
Q
A
R
P
G'
N
Fig. 23.
G
A
L
M
O



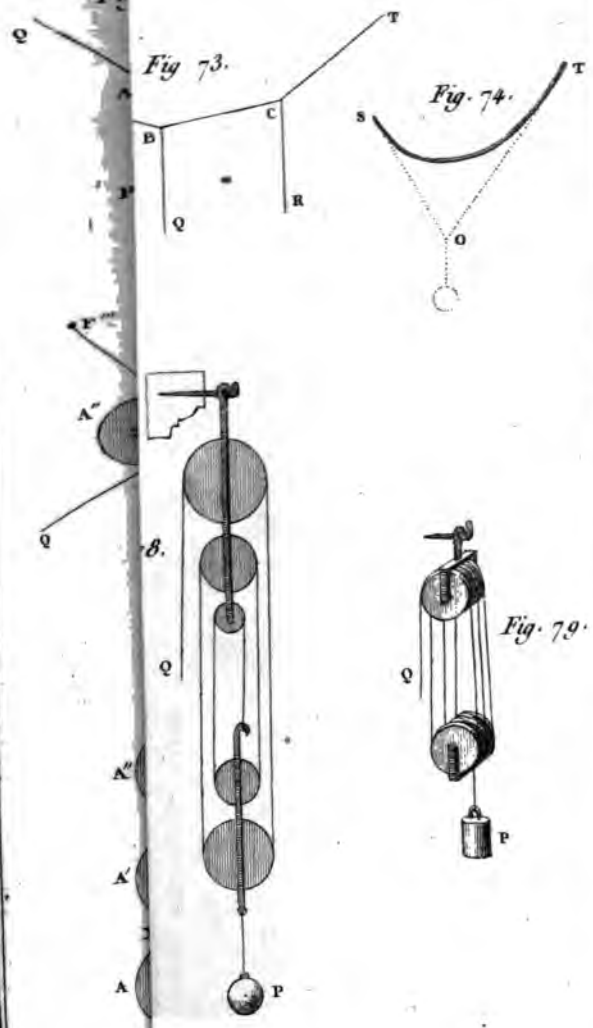

Fig 73.

Fig. 74.

Fig. 79.

Fig 73.

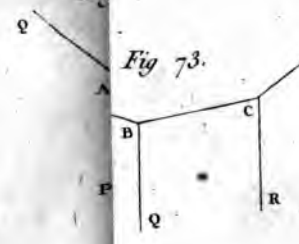

Fig. 74.

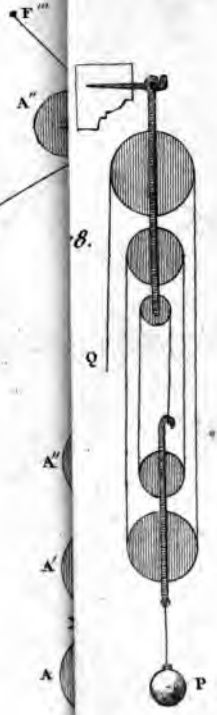

Fig. 79.

THE NEW YORK PUBLIC LIBRARY
REFERENCE DEPARTMENT

This book is under no circumstances to be taken from the Building

Form 419